2 + 3 = 5 SUMA Y RESTA 6 – 2 =

1. Observo la suma o resta representada con el material base 10, escribo el signo correspondiente y las resuelvo en la tabla posicional. Empieza por las unidades.

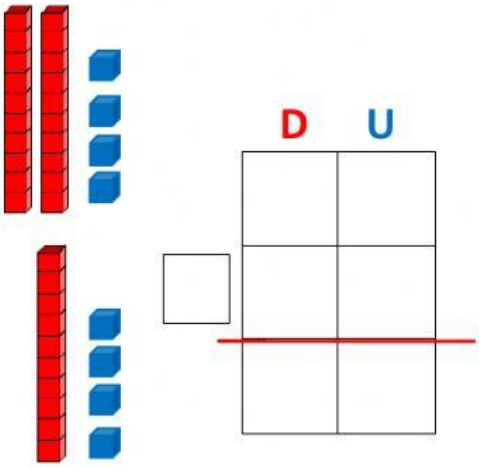

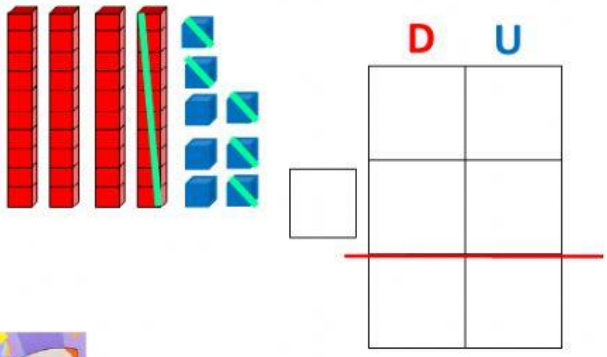

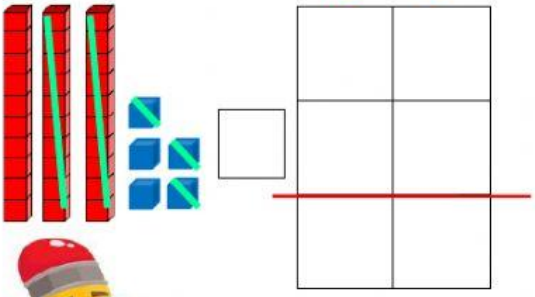

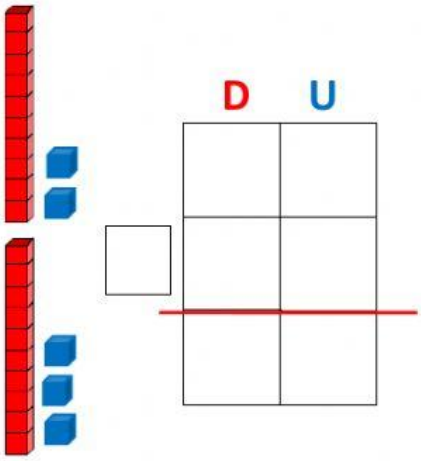

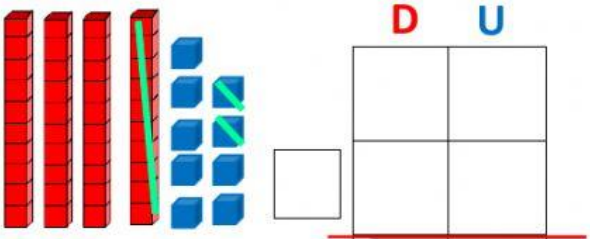

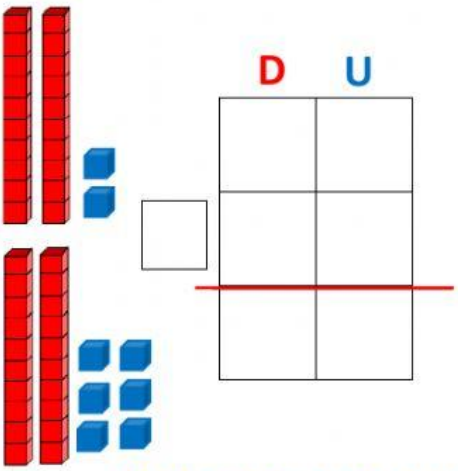

LIVEWORKSHEETS

2. Coloco cada número en la tabla posicional y resuelvo las sumas o restas.

3 5 - 1 3

D U

-

2 4 + 1 1

D U

+

3 2 + 1 0

D U

+

4 5 - 2 4

D U

-

1 7 + 3 2

D U

+

2 6 - 2 2

D U

-

LIVEWORKSHEETS

3. Resuelvo los problemas:

- Georgina compro 25 girasoles y 13 rosas para regalarles por su día a todas las mamitas de la familia. ¿Cuántas flores compró en total?

Datos	Razonamiento	Operación	Respuesta
☐ girasoles ☐ rosas	Tengo que hacer una ☐☐☐☐	D U ☐ ☐☐ ☐ ☐☐ ☐ ☐☐	Compró en total ☐☐ flores.

- Mamá tenía 45 dólares para las compras de la semana; si en la compra de frutas gasto 24 dólares ¿Cuánto dinero le sobro a mamá para el resto de las compras?

Datos	Razonamiento	Operación	Respuesta
Tenía ☐ gasto ☐	Tengo que hacer una ☐☐☐☐☐	D U ☐ ☐☐ ☐ ☐☐ ☐ ☐☐	A mamá le sobro ☐☐ dólares para el resto de las compras.

LIVEWORKSHEETS