ANA COMPROU FLORES PARA SUA MAMÃE, AGORA VAI DISTRIBUIR NOS VASOS. OBSERVE A QUANTIDADE DE FLORES E LIGUE AO VASO .

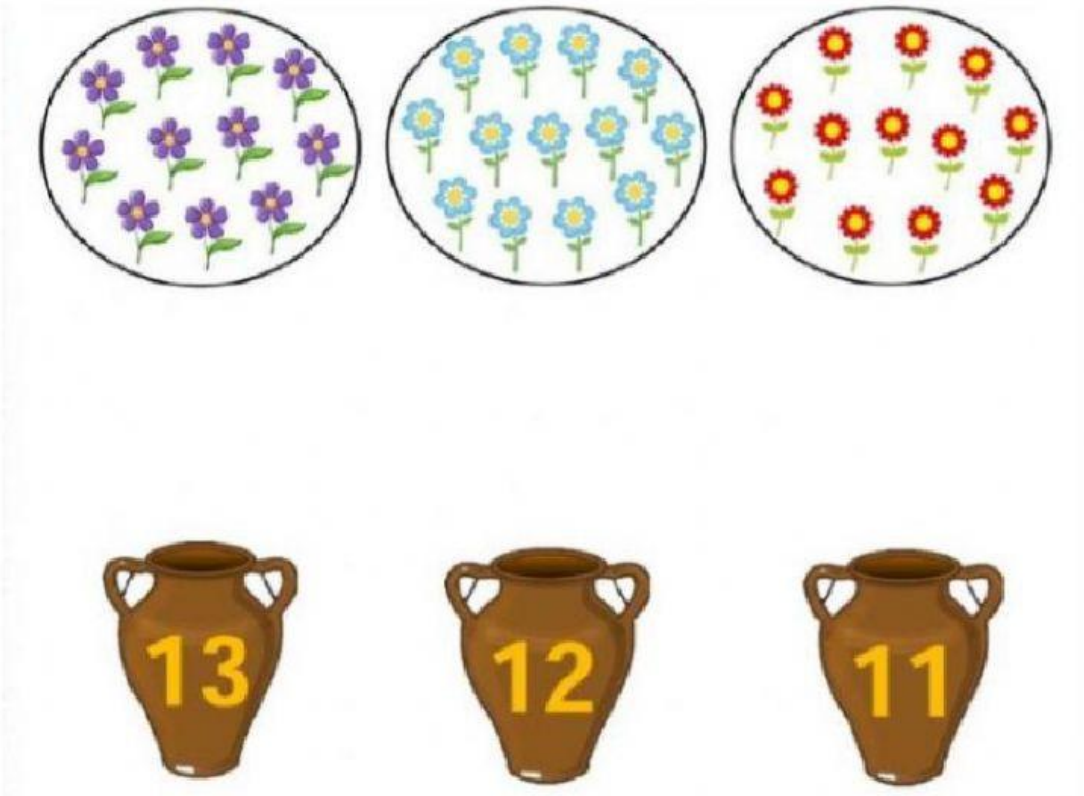

PARA COMPLETAR 15 FLORES EM CADA VASO INDIQUE A QUANTIDADE QUE FALTA COM AS OPÇÕES DA ETIQUETA.

LIVEWORKSHEETS

VAMOS DESCOBRIR O TOTAL DE FLORES QUE ANA COMPROU?PARA AJUDAR ANA SEPAROU EM DOIS GRUPOS.

DEZENAS	UNIDADES
	
	
10 + 10 + 10 =	1+2+3=

SELECIONE O CÁLCULO QUE FEZ E DEPOIS O TOTAL DE FLORES QUE ANA COMPROU.

30+1 | 30+2 | 30+3 | 30+6

31 | 32 | 33 | 36

LIVEWORKSHEETS