INSTITUCIÓN EDUCATIVA EXPERIMENTAL
UNIVERSIDAD NACIONAL DEL SANTA
R.R. N° 358-97-UNS / R.D. N° 00233-99-SREP
ceexp@uns.edu.pe.-Telf: 310445-Anexo(1045)

Razonamiento matemático **Tercer grado**

DISTRIBUCIONES GRÁFICAS

Halla el valor de las incógnitas en las siguientes distribuciones numérica

1.- Calcula el valor de «x».

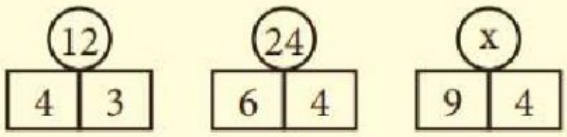

25 30 26 36

2.-

14 13 15 18

3.- Calcula el valor de «x».

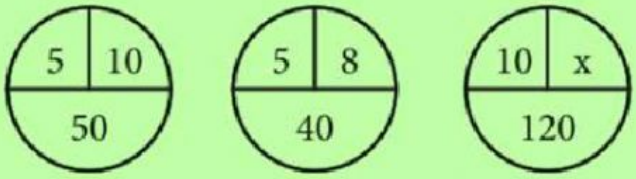

14 12 15 18

LIVEWORKSHEETS

4.- Determina el valor de «x».

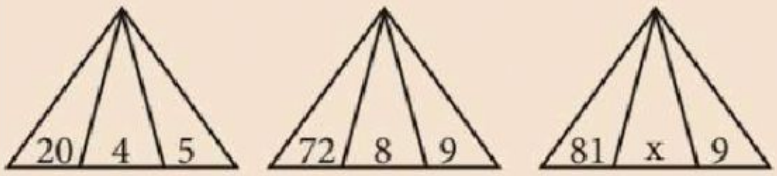

8 | 7 | 9 | 4

5.-

23 | 20 | 26 | 24

6.-

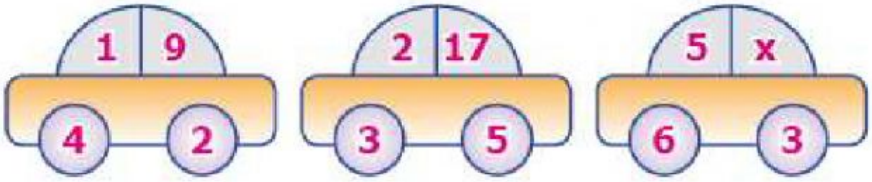

24 | 33 | 23 | 25

LIVEWORKSHEETS