CONJUNTOS Y RELACIÓN DE PERTENENCIA

1. **Arrastra y agrupa los elementos en los conjuntos correspondientes de acuerdo a su característica en común.**

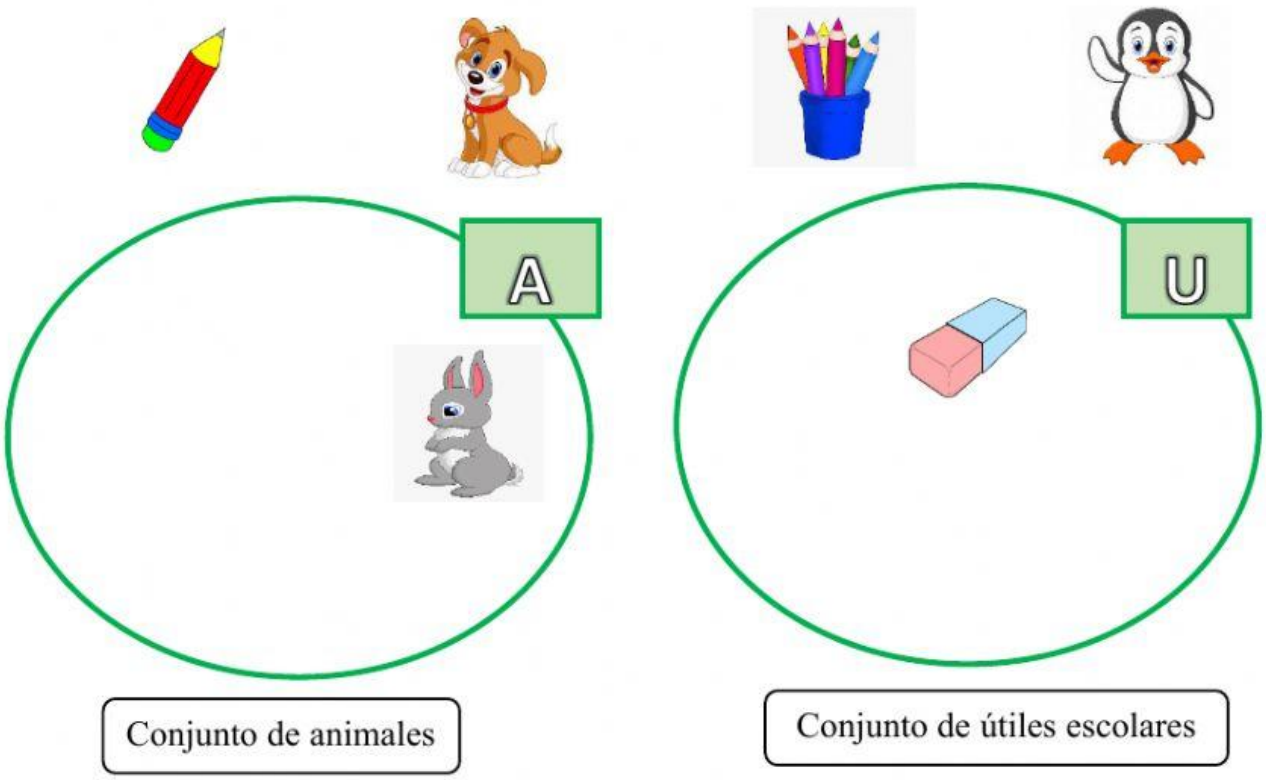

2. **Selecciona <u>pertenece</u> o <u>no pertenece</u> de acuerdo con las imágenes.**

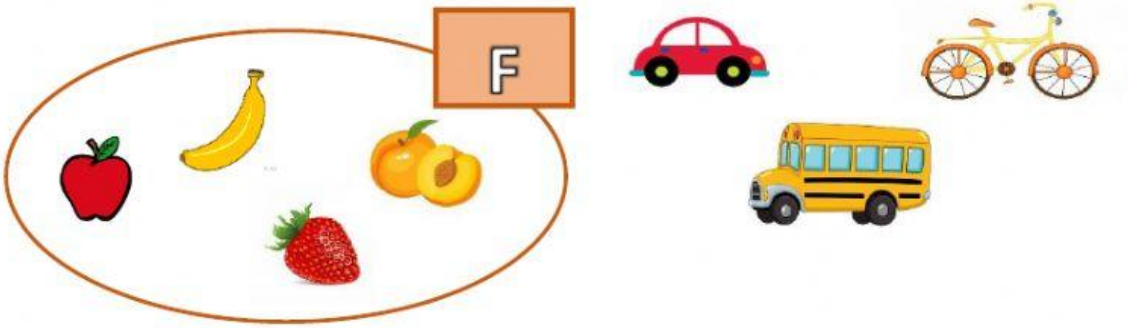

a. **La manzana** _____ **a F.**

b. **El carro** _____ **a F.**

LIVEWORKSHEETS

c. La bicicleta _____ a F.

d. La fresa _____ a F.

3. **Observa los conjuntos, luego selecciona el símbolo ∈ o ∉ según corresponda.**



☐ a **D**

☐ a **D**

☐ a **F**

☐ a **F**

☐ a **D**

☐ a **D**

LIVEWORKSHEETS