Colegio Buonarroti
Educación Básica - Bachillerato Unificado

Tema: décimos, centésimos y milésimos.

NOMBRE: _____

FECHA: _____

1. **Escribe las siguientes fracciones como números decimales y en letras.**

$\frac{247}{1\,000}$	0,247 doscientos cuarenta y siete milésimos
$\frac{6}{1\,000}$	
$\frac{58}{100}$	
$\frac{19}{100}$	

2. **Escribe como decimal y como fracción el número que se encuentra representado en cada figura.**

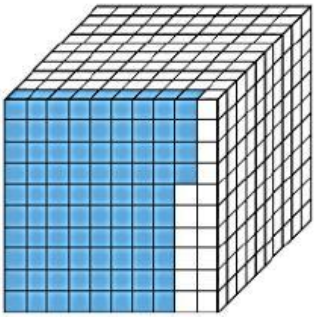

_____ =



_____ =

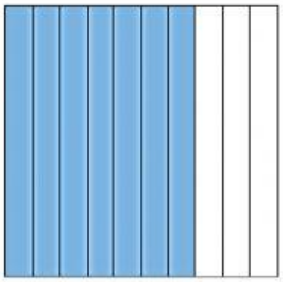

_____ =

LIVEWORKSHEETS

4. Une correctamente el número expresado en letras con su representación decimal.

a. Cuarenta y ocho milésimos

b. Cinco décimos

c. Treinta y dos centésimos

d. Ocho centésimos

0,48

0,048

0,5

0,05

0,32

0,032

0,8

0,08

LIVEWORKSHEETS