وزارة التربية والتعليم
مجلس 1 نطاق 3
مدرسة البريرات للتعليم الأساسي ح2

الصف السادس
المادة : الرياضيات
موضوع الدرس: حجم المنشور الثلاثي

الاسم: الشعبة:

أوجد حجم المنشور الثلاثي ؟

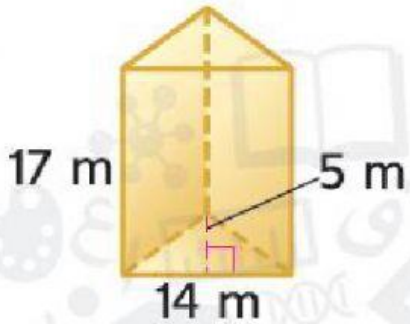

حجم المنشور هو

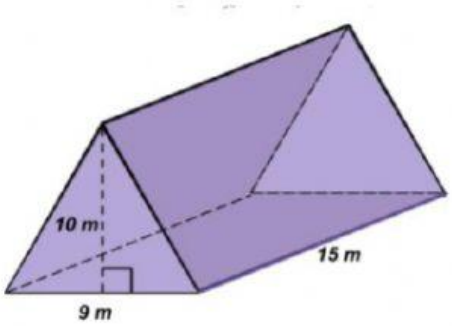

حجم المنشور هو

اختر الإجابة الصحيحة ؟

البعد المجهول في المنشور الثلاثي الموضح بالشكل هو:

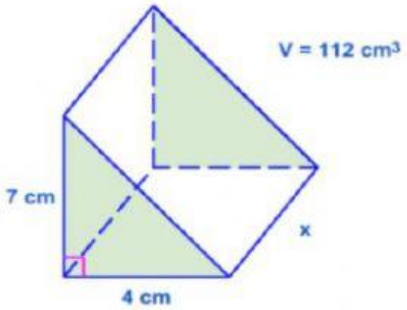

$A) 8cm$

$B) 5cm$

$C) 7cm$

$D) 6cm$

LIVEWORKSHEETS