Fractions	NUM7		
1 – Comprendre l'écriture fractionnaire : écrire des quantités plus grande qu'1u 2 – Identifier des mêmes quantités écrites différemment	NA	PA	A

Identifie la fraction demandée et écris une fraction équivalente à celle-ci :

Représentation	Fraction impropre		Nombre mixte	
	—	$= \frac{}{6}$	—	$= \frac{}{6}$
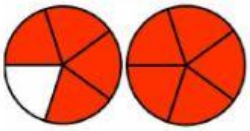	—	$= \frac{}{10}$	—	$= \frac{}{10}$
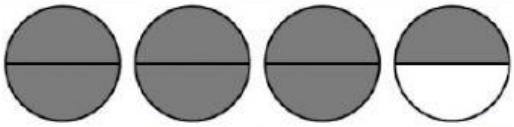	—	$= \frac{}{6}$	—	$= \frac{}{6}$
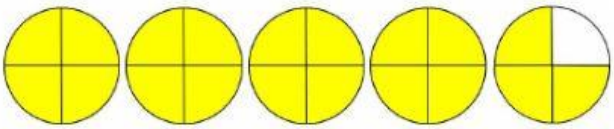	—	$= \frac{}{8}$	—	$= \frac{}{8}$
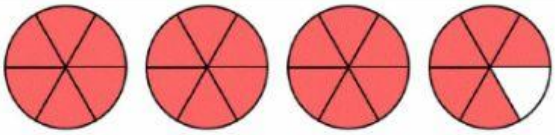	—	$= \frac{}{12}$	—	$= \frac{}{12}$

LIVEWORKSHEETS