نشاط(3): المخطط الصحيح للدائرة في الصورة يمثله: (ظلل الصواب)

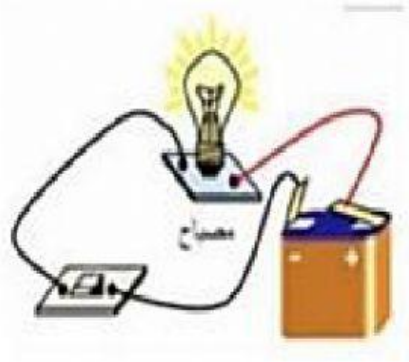

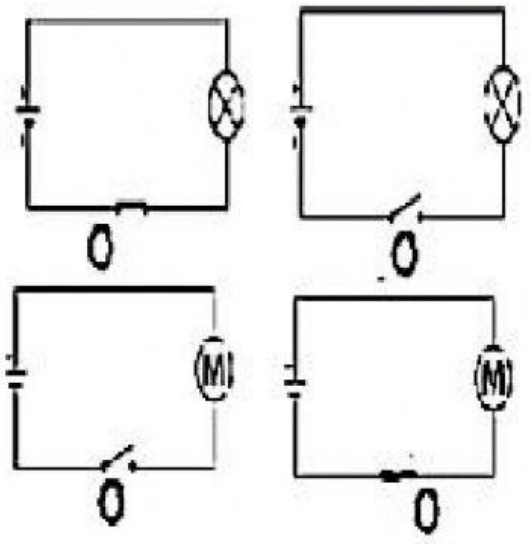

ب. صل بخط بين القائمة اليمنى وما يناسبها من القائمة اليسرى:

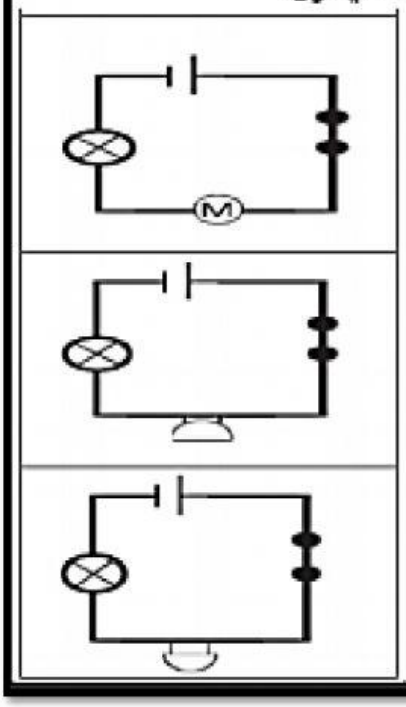

خلية- مفتاح كهربائي- محرك- مصباح كهربائي
خلية- مفتاح كهربائي- جرس- مصباح كهربائي
خلية- مفتاح كهربائي- طنان- مصباح كهربائي

LIVEWORKSHEETS