La relación de dos números naturales puede representarse mediante una fracción, por ejemplo:
Si quieres saber cuántas veces es mas grande 9 que 3, se establece la relación como $\frac{9}{3}$ o cuando se tiene que hacer una división por ejemplo:
Se quieren repartir 3 kg de azúcar entre 9 personas, a cada una le tocarán $\frac{3}{9}$.

Contesta lo que se pide apoyándote con la imagen.

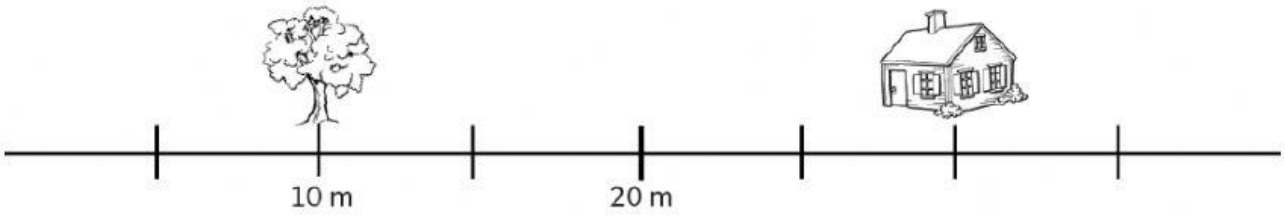

1. ¿Qué fracción de camino representan los 10 m?_____
2. Si la casa se encuentra a $\frac{3}{4}$ del camino, ¿cuántos metros son?_____
3. ¿A los cuántos metros está representado $\frac{5}{8}$ del camino?_____
4. ¿Qué fracción representa los 20 m del camino?_____

Resuelve los problemas.

1. Se reparten 4 pizzas entre 8 niños. ¿Qué fracción de la pizza le corresponde a cada niño?



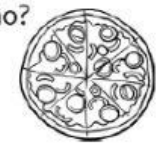

2. Se reparten 8 pasteles entre 24 niños. ¿Qué fracción del pastel le corresponde a cada niño?

3. Se necesitan 24 limones para preparar 3 litros de limonada. ¿Cuántos limones se necesitan para preparar un litro?

R _____

LIVEWORKSHEETS