D11. Fabio ha a disposizione questi tre puzzle, ognuno fatto da due pezzi.

puzzle 1

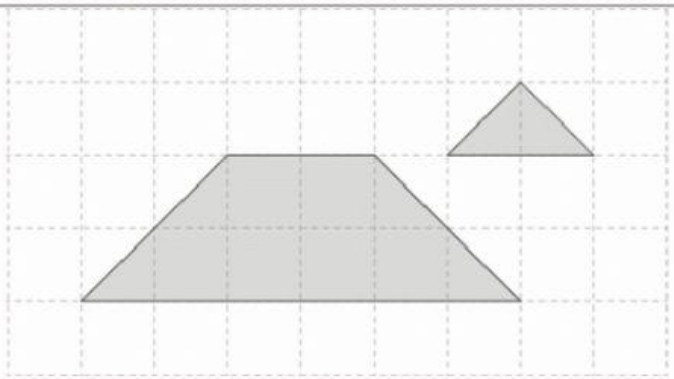

puzzle 2

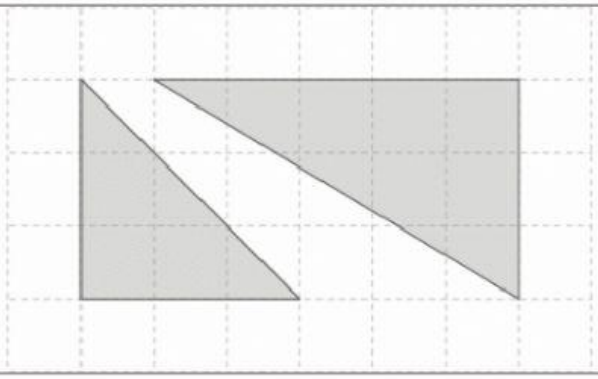

puzzle 3

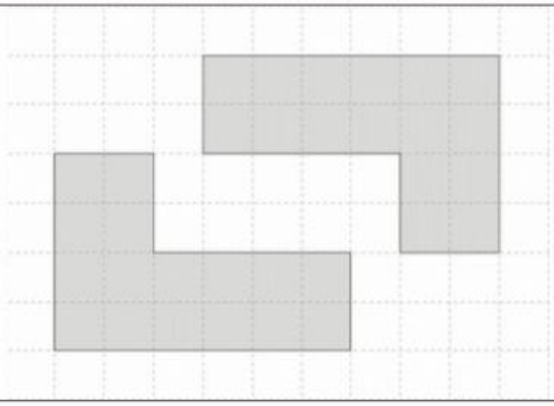

Con quale puzzle costruisce un rettangolo?

A. ☐ Con il puzzle 1

B. ☐ Con il puzzle 2

C. ☐ Con il puzzle 3

LIVEWORKSHEETS

D22. Osserva.



Quanti centimetri è lunga la linea disegnata sopra al righello?

A. ☐ 10

B. ☐ 4

C. ☐ 3

LIVEWORKSHEETS

M18O2D1400

D14. La nonna vuole preparare 2 torte.

Per ogni torta ha bisogno di 8 uova.

Qual è il numero minimo di confezioni di uova come questa che la nonna deve comprare?

Risposta: ..... confezioni

M18O2D1500

D15. Unisci con una linea ogni numero con la tacca corrispondente.

61 **49** **54**

LIVEWORKSHEETS

D21. Nel grafico sono registrate le temperature misurate nel cortile della scuola alle 8 del mattino dei primi 10 giorni di aprile.

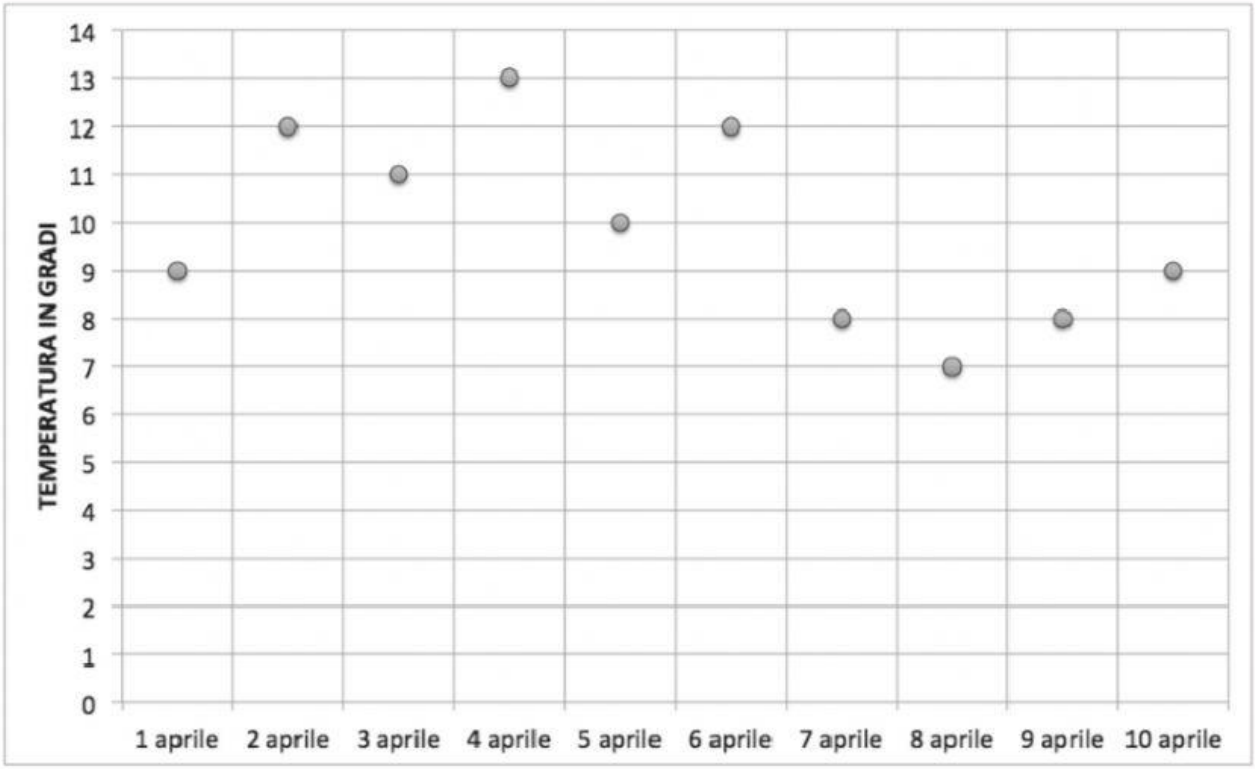

a. Qual è la temperatura registrata l'8 aprile?

Risposta: ..... gradi

b. In quali giorni la temperatura era di 12 gradi?

Risposta: ..... e ..... aprile

LIVEWORKSHEETS

D18. Una tavoletta di cioccolata costa quattro euro.

Questi sono i soldi che hanno tre bambini.

Lorenzo	
Gigi	
Andrea	

Chi potrà acquistare tre tavolette di cioccolata?

A. ☐ Lorenzo

B. ☐ Gigi

C. ☐ Andrea

LIVEWORKSHEETS

D12. Marco è salito sulla bilancia con due secchielli.

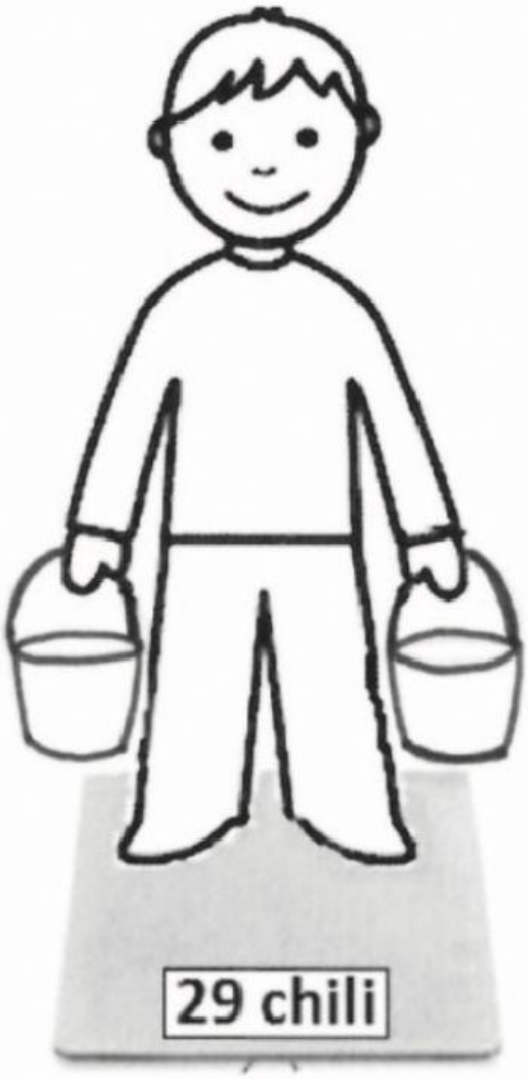

Marco pesa 25 chili.

I due secchielli hanno lo stesso peso.

Qual è il peso di un secchiello?

A. ☐ 4 chili

B. ☐ 2 chili

C. ☐ 8 chili

LIVEWORKSHEETS

M1802D1600

D16. La differenza di età tra Chiara e sua figlia Giulia è di 30 anni.



GIULIA **CHIARA**

Fra 20 anni quale sarà la differenza di età tra Chiara e sua figlia Giulia?

Risposta: ..... anni

M1802D1700

D17. Carlotta dice:

"Ho pensato a un numero, poi ho aggiunto 2 decine e 1 centinaio. Ho ottenuto 200".

Quale numero aveva pensato Carlotta?

A. ☐ 320

B. ☐ 180

C. ☐ 80

LIVEWORKSHEETS