COSA DEVO FARE?

COMPILARE IL MODULO,
PER LA PRIMA PARTE USA LA
CALCOLATRICE
PER CAPIRE IL RISULTATO
CORRETTO

RICORDA CHE IL PUNTINO
RAPPRESENTA LA
MOLTIPLICAZIONE

LIVEWORKSHEETS

COLLEGA CON IL RISULTATO CORRETTO

+6 – 10 – 2 + 8 =	- 9
- 15 + 12 + 5 – 6 =	+ 7
+ 3 + (2 + 5 – 3) =	+ 2
+ 5 – (5 + 9) =	- 4

VERO O FALSO?

+6·(+2)= 12	VERO	FALSO
- 5·(+4)= +9	VERO	FALSO
-3·(–3)= -9	VERO	FALSO
+ 5·(-5) + 9 = -16	VERO	FALSO
3 – 2 + 4·(2 + 1) = +15	VERO	FALSO

SCEGLI LA RISPOSTA CORRETTA

3A – 2A + B + 12 -5 =

- A + B + 7
- A + B + 11
- A

LIVEWORKSHEETS

TRASCINA IL NOME SULLA FORMA CORRISPONDENTE

SFERA | PIRAMIDE | PARALLELEPIPEDO | CUBO | CILINDRO


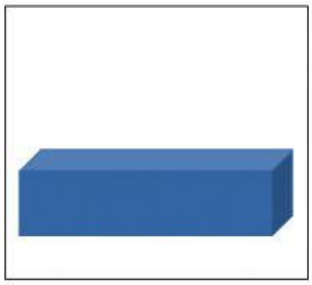


VERO O FALSO?

IL QUADRATO E' UN SOLIDO	VERO	FALSO
IL CUBO E' UN SOLIDO	VERO	FALSO
LA SFERA E' UNA FORMA GEOMETRICA PIANA	VERO	FALSO
IL FOGLIO DI CARTA E' UN SOLIDO	VERO	FALSO

SCEGLI LA RISPOSTA CORRETTA

IL QUADRATO HA:

QUATTRO LATI UGUALI

UN LATO LUNGO E TRE CORTI

QUATTRO ANGOLI DIVERSI UNO DALL'ALTRO

DUE LATI LUNGHI UGUALI E DUE LATI CORTI UGUALI

IL PARALLELEPIPEDO E':

UN SOLIDO CON UNA BASE

UNA FIGURA PIANA

UN SOLIDO CON DUE BASI UGUALI

UN SOLIDO CON DUE BASI DIVERSE

LIVEWORKSHEETS