EXAMEN BIMESTRAL DE ARITMÉTICA

INSTITUCIÓN EDUCATIVA PRIVADA
"SEMILLITAS DE VIDA"

PROFESORA: AILY MELISSA GUTARRA BONIFAZ

1. DETERMINA POR EXTENSIÓN EL CONJUNTO: (marca la respuesta correcta)

$A = \{x \in \mathbb{N} \,/\, 5 < x < 12\}$

A por extensión es:

a) {5; 6; 7; 8, 9; 10; 11}

b) {6; 7; 8, 9; 10; 11}

c) {5; 6; 7; 8, 9; 10; 11; 12}

d) {4; 5; 6; 7; 8, 9; 10; 11}

e) {5; 6; 7; 8, 9; 10}

2. DETERMINA POR EXTENSIÓN EL CONJUNTO: (marca la respuesta correcta)

$A = \{(x - 1) \in \mathbb{N} \,/\, 4 < x < 8\}$

A por extensión es:

a) {5; 6; 7}

b) {6; 7}

c) {4; 5; 6}

d) {3; 4; 5}

e) {4; 5}

3. DESCOMPOSICIÓN DE UN NÚMERO: (completa el tablero y la notación desarrollada)

	UM	C	D	U	
3 256					____ + ____ + ____ + ____
8 025					____ + ____ + ____ + ____
2 102					____ + ____ + ____ + ____
5 230					____ + ____ + ____ + ____

POFESORA: AILY MELISSA GUTARRA BONIFAZ

LIVEWORKSHEETS

4. MAYOR QUE: (da clic a los números mayores que 4 625)

5 231 4 652

4 752 5 842

4 825 3 999

9 235 4 654

5. MENOR QUE: (da clic a los números menores que 6 521)

6 512 6 125

9 111 5 236

1 265 2 013

6 522 5 362

6. LECTURA Y ESCRITURA DE UN NÚMERO (relaciona con su correcta escritura)

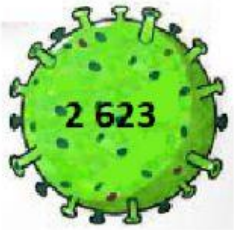

- *DOS MIL SEIS CIENTOS VEINTITRES*
- *DOS MIL SEISCIENTOS VEINTYTRES*
- *DOS MILLONES SEISCIENTOS VEINTITRES*
- *DOS MILLONES SIEISCIENTOS VEINTE Y TRES*
- *DOS MIL SEISCIENTOS VEINTITRES*

- *MIL DOCIENTOS SESENTA Y TRES*
- *MIL DOS CIENTOS CESENTA Y TRES*
- *MIL DOSCIENTOS SESENTAYTRES*
- *MIL DOSCIENTOS SESENTA Y TRES*
- *MIL DOS CIENTOS SESENTAITRES*

POFESORA: AILY MELISSA GUTARRA BONIFAZ

LIVEWORKSHEETS

7. ESCRIBE EL NÚMERO QUE INDICA CADA FLECHA:

CIFRAS	EL MAYOR NÚMERO	EL MENOR NÚMERO
6; 5; 1; 3		
1; 9; 7; 5		
5; 8; 2 ;3		
7; 4; 5; 8		

8. ESCRIBE EL NÚMERO QUE INDICA CADA FLECHA:

CIFRAS	EL MAYOR NÚMERO	EL MENOR NÚMERO
1; 2; 6; 8		
5; 1; 6; 9		
8; 4; 3; 1		
6; 5; 8; 1		

9. COMPLETA EL CUADRO:

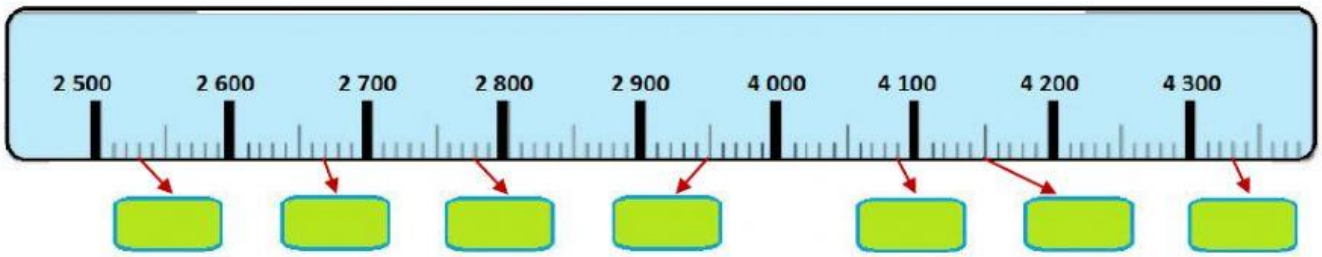

10. COMPLETA EL CUADRO:

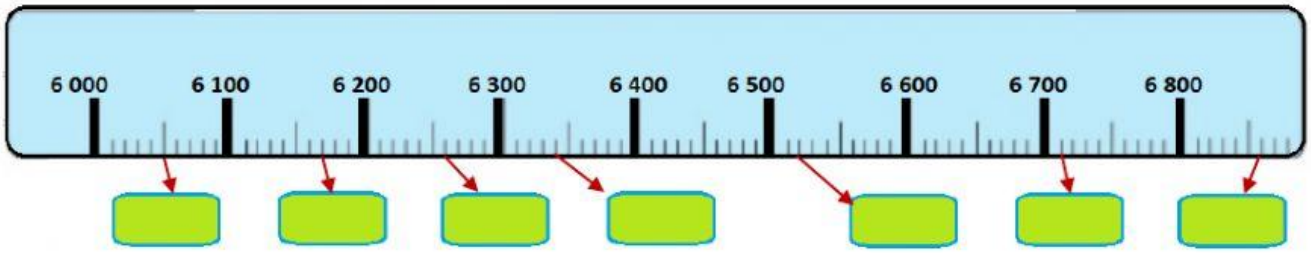

POFESORA: AILY MELISSA GUTARRA BONIFAZ

LIVEWORKSHEETS