Gospodarska obilježja Hrvatske – radni listić za ponavljanje

1.Uz pomoć tematske karte dopuni rečenice!

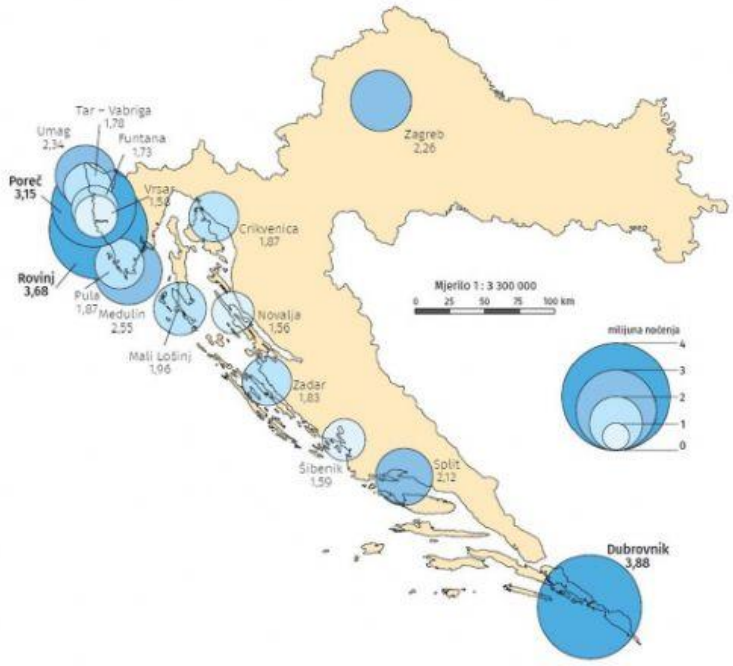

a) Tematska karta prikazuje _____ središta Hrvatske, među kojima je vodeće _____ s preko 3,88 milijuna noćenja.

b) Najvažnija turistička regija Hrvatske je _____ u kojoj je vodeće turističko središte _____, a slijedi _____.

c) Najvažnije turističko središte Nizinske Hrvatske je grad _____.

d) Glavni oblik turizma u Hrvatskoj je _____ turizam.

2. U pravokutnike upiši naziv za poljoprivredne kulture koje su karakteristične za ravničarsku poljoprivrednu regiju odnosno **Nizinsku Hrvatsku**. Ispod fotografija su navedene poljoprivredne kulture koje moraš upisati.

DUHAN, ŠEĆERNA REPA, KUKURUZ, ULJANA REPICA, PŠENICA

LIVEWORKSHEETS

3. Umjetni uzgoj morskih biljaka i životinja (ribe, školjkaši) prikazan na fotografiji naziva se _____. Ta je gospodarska djelatnost najraširenija u Malostonskom i _____ zaljevu.

↑ Kavezi za uzgoj ribe u Dalmaciji

4. U pravokutnike upiši naziv za poljoprivredne kulture koje su karakteristične **Primorsku Hrvatsku**. Ispod fotografija su navedene poljoprivredne kulture koje moraš upisati.



MASLINE, AGRUMI, VINOVA LOZA, ROGAČ, VIŠNJA MARASKA, LJEKOVITO BILJE, SMOKVE

5. Koji je među navedenima jedan od najvažnijih prirodnih preduvjeta za gospodarski razvoj?

a) kulturna baština b) reljefna obilježja c) broj stanovnika d) ratovi e) migracije

LIVEWORKSHEETS

6. Uz pomoć grafikona dopuni rečenice!

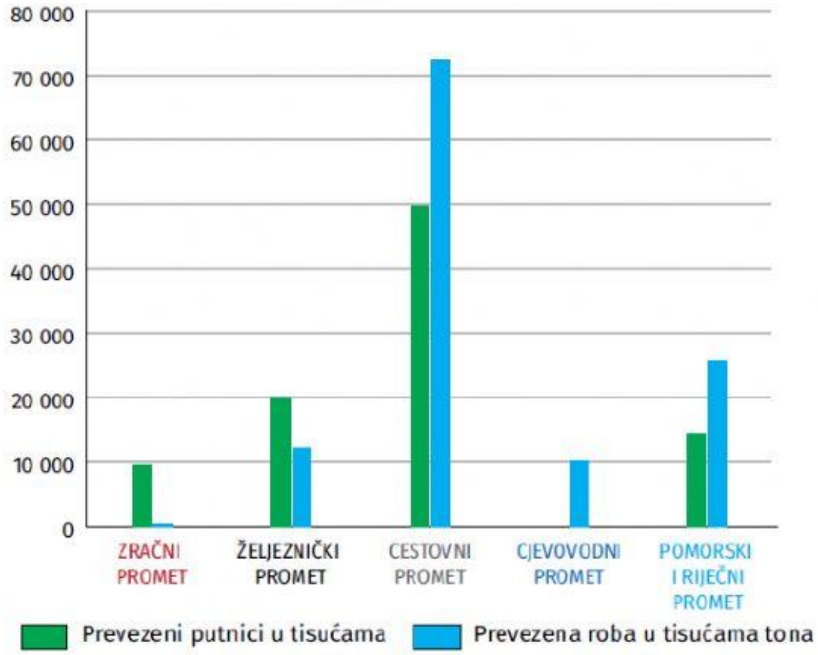

a) U prijevozu robe u Hrvatskoj najzastupljeniji oblik prometa je _____ promet, a slijedi _____ i _____ promet.

b) U prijevozu putnika najzastupljeniji oblik prometa je _____, a slijedi _____ promet.

c) Najmanje količine robe prevoze se _____ prometom.

7. U pravokutnike upiši naziv za poljoprivredne kulture koje su karakteristične **Gorsku Hrvatsku**. Ispod fotografija su navedene poljoprivredne kulture koje moraš upisati.



KUPUS, KRUMPIR, JEČAM, ZOB

Dopuni rečenice!

8. Šumarstvo je najvažnija djelatnost primarnog sektora na području _____ Hrvatske, a najviše u _____ kotaru. U Nizinskoj Hrvatskoj se najviše iskorištavaju šume hrasta _____ (slavonska šuma, slavonski hrast), a u _____ Hrvatskoj šumarstvo zbog makije i zaštićenih šuma nema veće značenje.

9. U Hrvatskoj se sve više poljoprivrednika okreće _____ uzgoju hrane bez upotrebe pesticida i umjetnih gnojiva čime se proizvodi zdrava hrana.

LIVEWORKSHEETS

10. Tip stočarstva raširen u Primorskoj i Gorskoj Hrvatskoj, prikazan na fotografiji ispod naziva se _____ stočarstvo. U tim dijelovima Hrvatske prevladava uzgoj _____ i _____ za razliku od Nizinske Hrvatske u kojoj je najrašireniji uzgoj goveda i svinja.

11. Dopuni rečenice uz pomoć prikazanih dijagrama.

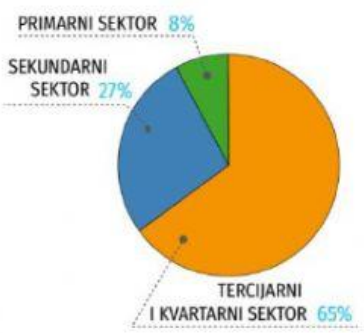

↑ Udio zaposlenih u sektorima gospodarskih djelatnosti u Hrvatskoj (2017.)

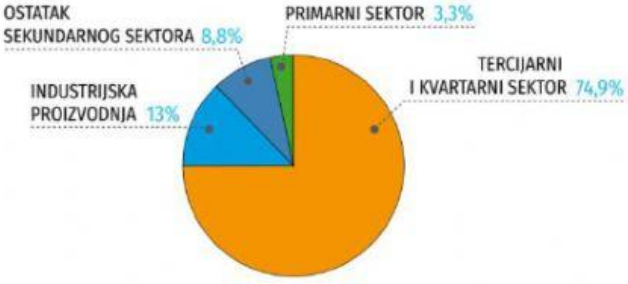

↑ Udio vrijednosti pojedinih sektora gospodarskih djelatnosti u hrvatskom BDP-u (2017.)

a) Najviše stanovništva Hrvatske zaposleno je u _____ i kvartarnom sektoru, oko _____%, a najmanje u _____ sektoru, oko _____%.

b) U hrvatskom BDP-u s najvećim udjelom sudjeluje _____ sektor, a od sekundarnih djelatnosti najveću zaradu Hrvatskoj donosi _____.

12. Dvije tradicionalne djelatnosti Primorske Hrvatske prikazane na fotografijama su proizvodnja _____ i _____. Tri najveće hrvatske _____ su Pag, Nin i Ston. U Hrvatskoj prevladava ulov _____ ribe, a nedostatak bijele nadoknađuje se gospodarskom djelatnošću koja se naziva _____.

LIVEWORKSHEETS

13. Ako je tvrdnja točna označi TOČNO, ako je netočna označi NETOČNO.

a) Broj industrijskih radnika u Hrvatskoj se iz godine u godinu povećava.	TOČNO	NETOČNO
b) Što se tiče trgovine Hrvatska uvozi više robe nego što izvozi.	TOČNO	NETOČNO
c) Hrvatska najveće prihode ostvaruje u prehrambenoj industriji.	TOČNO	NETOČNO
d) Najvažniji trgovački partneri Hrvatske su SAD, Australija i Japan.	TOČNO	NETOČNO
e) Ulazna luka Jadranskog naftovoda nalazi se u Omišlju na otoku Rabu.	TOČNO	NETOČNO
f) INA je primjer petrokemijske industrije u Hrvatskoj.	TOČNO	NETOČNO

14. Poveži industrijske tvrtke u Hrvatskoj sa gradom u kojem se nalazi sjedište.

Vindija, Varteks	Zagreb
Đuro Đaković	Petrinja
Ericsson Nikola Tesla, Pliva, Končar, Kraš, INA	Slavonski Brod
Gavrilović	Vukovar
Podravka, Belupo	Osijek
Borovo	Rovinj
Tvornica duhana	Varaždin
Maraska	Koprivnica
Saponia	Zadar

15. Koje su tvrtke među navedenima predstavnice farmaceutske industrije?

a) Končar b) Pliva c) Ericsson Nikola Tesla d) Dukat e) Belupo f) Kraš

16. Koje su tvrtke među navedenima predstavnice metaloprerađivačke industrije?

a) Maraska b) Ericsson Nikola Tesla c) Saponia d) Đuro Đaković e) Željezara Sisak f) INA

17. Koje su tvrtke među navedenima predstavnice elektroničke industrije?

a) Ericsson Nikola Tesla b) Končar c) Đuro Đaković d) Borovo e) Belupo f) Zvečevo

LIVEWORKSHEETS

18. Dopuni sljedeće rečenice uz pomoć slijepe karte koja prikazuje najveće hrvatske luke.

a) Najveća pomorska luka u Hrvatskoj označena je brojem _____, a naziva se _____. Druga najveća pomorska luka označena je brojem _____, a naziva se _____.

b) Jači razvoj pomorskog i riječnog prometa u Hrvatskoj mogla bi potaknuti modernizacija _____ prometa putem kojeg se mogu do luka prevesti velike količine tereta i robe.

c) Najveća putnička pomorska luka Hrvatske označena je brojem _____, a naziva se _____.

d) Ulazna luka JANAF-a naziva se _____, a nalazi se na otoku označenom slovom _____. Nafta se naftovodima prevozi do Rijeke i rafinerije u Sisku koja je na karti označena slovom _____.

e) Na crte pokraj broj upiši naziv preostalih pomorskih luka Hrvatske:

4 - _____, 5 - _____, 6 - _____, 7 - _____

f) Najveća hrvatska zračna luka je _____, a na karti je označena slovom _____.

g) Otok označen slovom I na kojem se nalazi zračna luka naziva se _____, a zračna luka se nalazi i na otoku _____ koji je označen slovom H.

LIVEWORKSHEETS

h) Najveća hrvatska riječna luka označena je slovom _____, naziva se _____, a nalazi se na rijeci _____.

i) Najveća riječna luka na Dravi naziva se _____, a označena je slovom _____.

k) Pokraj slova upiši nazive riječnih luka na Savi:

E - _____, D - _____, F - _____

LIVEWORKSHEETS