A kördiagramon láthatjuk a nemzetiségek arányát

Magyarországon a XVIII. század végén.

Döntsd el, hogy igazak vagy hamisak a következő állítások!

Minden tizedik ember német volt. igaz / hamis

Kétszer annyi szlovák volt, mint német. igaz / hamis

Magyarok voltak a legtöbben. igaz / hamis

Ugyanannyi német volt, mint szerb. igaz / hamis

Nem éltek itt lengyelek. igaz / hamis

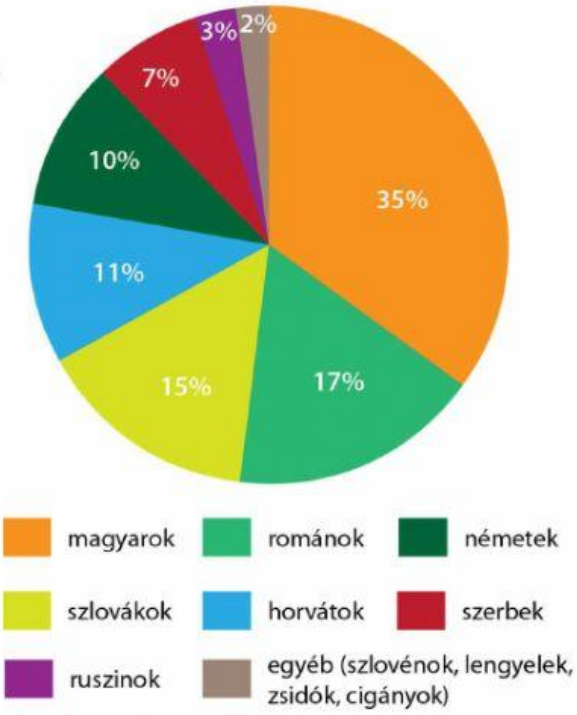

Egészítsd ki a táblázatot a kördiagram alapján!

A teljes lakosság: 8 500 000 fő.

magyar	35%	2 975 000 fő
román		
szlovák		
horvát		
német		
szerb		
ruszin		
egyéb		

LIVEWORKSHEETS

Magyarországon az első népszámlálást II. József császár hajtatta végre.

II. József

A népszámlálás (conscriptio) során elsősorban katonai szempontok érvényesültek, burkolt célja a besorozható újoncok számának felmérése volt.

A népszámlálást 1784. július 16. és 1787 december 31. között a katonaság segítségével végezték el.
A népszámlálás eredménye szerint Magyarországon a lakosság száma 8,5 millió fő volt.

Hány napig tartott a népszámlálás, ha ekkor már érvényben volt a Gergely-naptár, melyben bevezették a szökőéveket?

Az első népszámlálás _____ napig tartott.

Egy tanév hossza 180 nap. Ha iskola helyett, írástudóként, segítettél volna a népszámlálásban, hány „tanévnyi ideig" jártad volna az országot a császár katonáival?

Egy diáknak _____ „tanévnyi ideig" tartott volna segíteni a népszámlálásban.

1784-ben az átlagos népsűrűség 31 fő/km² volt Magyarországon.

2019-ben 105 fő/km²-re változott a népsűrűség a 93 030 km² területű Magyarországon.

A miniállamokat leszámítva Európában jelenleg Hollandia a legsűrűbben lakott ország, 389 fő/km²-es értékkel.

Számoljunk!

mai Magyarország területe	népsűrűség	fő
93 030 km²	31 fő/km²	
93 030 km²	105 fő/km²-	
93 030 km²	389 fő/km²	

Ha Magyarországon olyan nagy lenne a népsűrűség, mint Hollandiában, akkor hányan élnénk hazánkban? _____ fő

LIVEWORKSHEETS

Ulmer Schachtel

Ulmer Schachtel, vagy „Ulmi doboz" eleinte 22 m hosszú és 3 m széles egyirányú hajó volt, melynek mérete a XIX. század végére már elérte a 30 méteres hosszúságot és 7,5 m szélességet.

Számold ki a hajó fedélzetének (téglalapnak) a területét:

	korábban	**XIX. század végén**
hosszúság	22 m	
szélesség	3 m	
Terület		

Milyen sokáig tarthatott az utazás Ulmról Budapestre?

A könnyebbség kedvéért számoljunk aktuális értékekkel:

Az „Ulmi dobozokat" csupán a Duna sodrása hozta le a folyón.

A Duna vízfolyási sebessége Budapesten: **fél méter/ másodpercenként.**

Ha Ulmtól Budapestig szeretnénk sodortatni magunkat, akkor **933 folyamkilométert** kell megtennünk.

Számoljuk ki, hogy hány napig tartana ez a kaland:

A teljes táv: 933 km = _____ m

Vízfolyási sebesség	
fél méter	1 másodperc
1 méter	
	1 perc

Mennyi idő alatt tennénk meg a teljes távot?

_____ perc = _____ óra = _____ nap

LIVEWORKSHEETS

Történelem órán a nemzetiségeket ábrázoló 1880-as térképpel dolgoztunk, mely 1: 1 152 000 méretarányú. Íme:

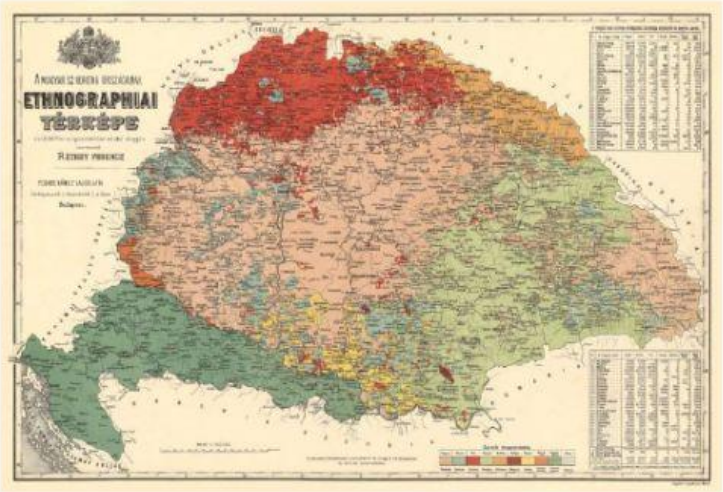

Az osztály azt a feladatot kapta, hogy Photoshoppal készítsen egy 1 : 800 000 méretarányú másolatot a térképről.

Melyik ábra mutatja a helyes méretű másolatot?

A:

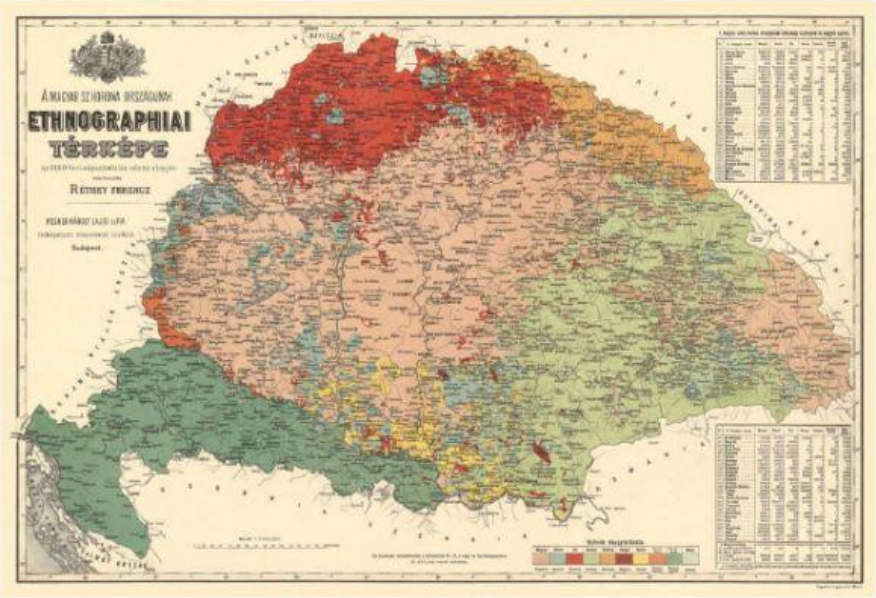

LIVEWORKSHEETS

B:

C:

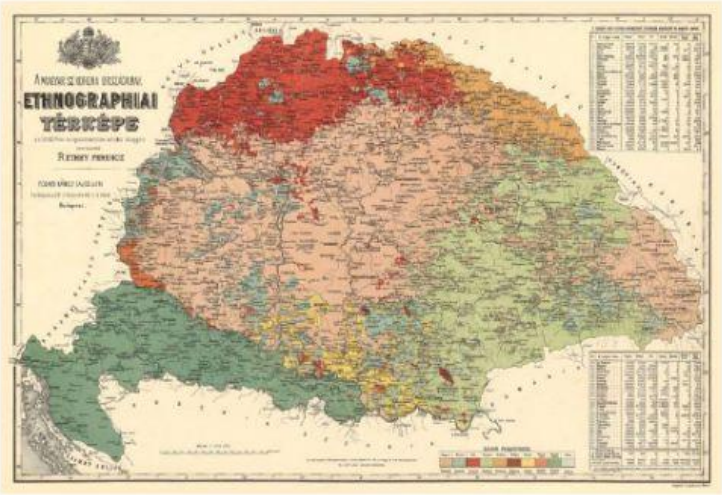

D:

LIVEWORKSHEETS

Mária Terézia egyetlen Magyarországon fellelhető egész alakos szobrát a Barokk Év alkalmából 2011-ben avatták fel a Grassalkovich-kastélyban Gödöllőn.

Melyik vázlatos ábrán jelzik az X-ek azokat a helyeket, ahonnan ez a két fénykép készülhetett?

A kék forma a szobor talapzata felülnézetben, melynek eleje íves.

A:

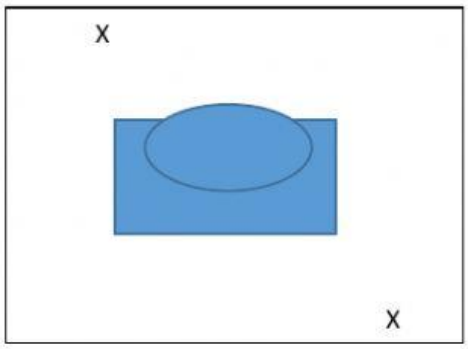

B:

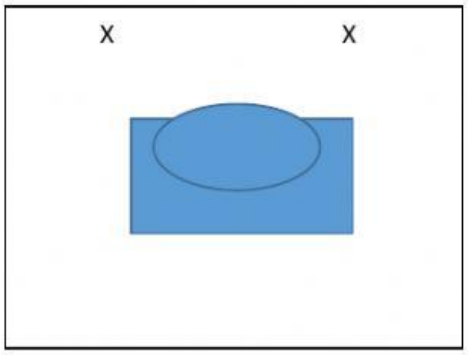

C:

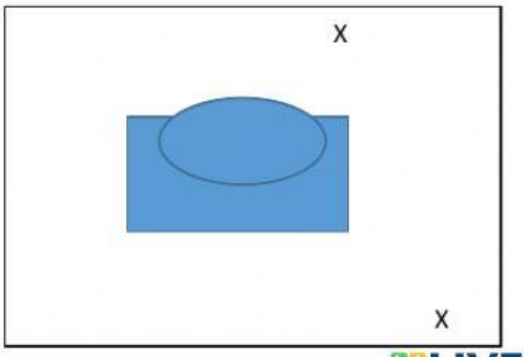

LIVEWORKSHEETS