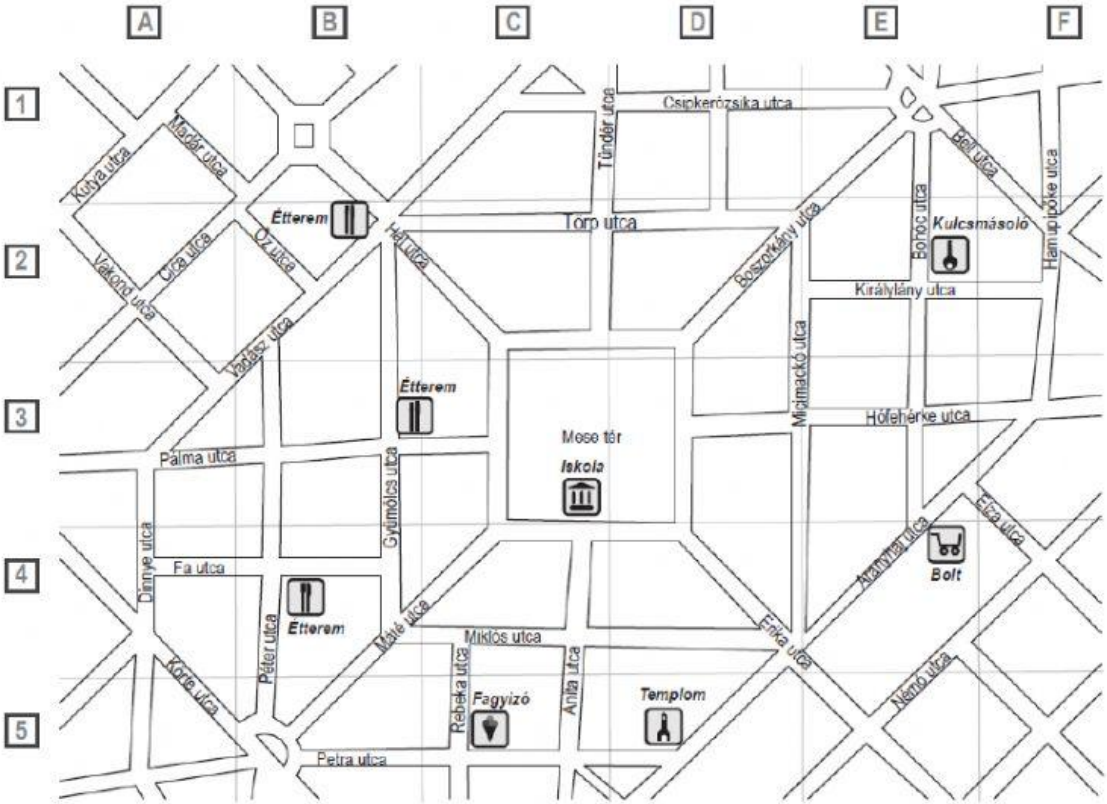

Laura a B4-es mezőben egy sarkon lévő társasházban lakik, amelynek az alagsorában egy étterem található. Melyik útkereszteződésben van Lauráék háza? Satírozd be a helyes válasz betűjelét!

(A) Hal utca – Vadász utca

(B) Gyümölcs utca – Pálma utca

(C) Péter utca – Fa utca

(D) Gyümölcs utca – Máté utca

LIVEWORKSHEETS

Futballstatisztikák

Egy futballmérkőzés közvetítésekor az első 15 perc elteltével az alábbi statisztika jelent me a képernyőn arról, hogy a csapatok a játékidő mekkora részében birtokolták a labdát.

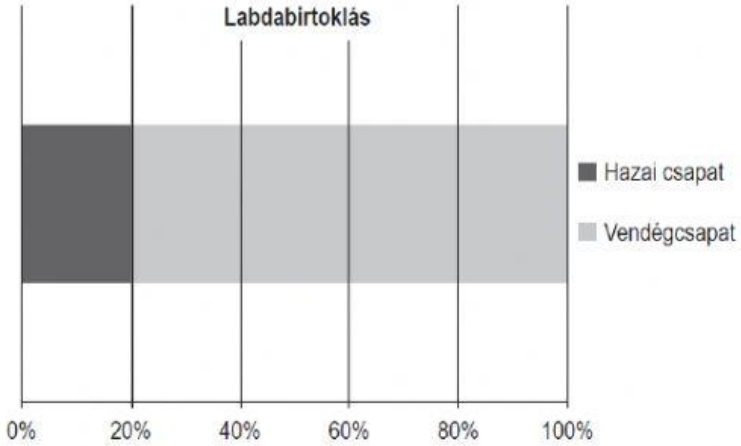

Döntsd el, melyik igaz, illetve melyik hamis a következő állítások közül! Válaszodat a megfelelő kezdőbetű besatírozásával jelöld!

	Igaz	Hamis
A hazai csapat minden 1 perces labdabirtoklására 4 perc vendég-labdabirtoklás jut.	I	H
Ha a következő 15 percben fordított lesz a labdabirtoklás százalékos aránya (80%-20%), akkor az első 30 percet nézve a labdabirtoklás 50-50%.	I	H
A hazai csapat az első 15 percben 2 percig birtokolta a labdát.	I	H

Jutka néni panziót üzemeltet egy zedországi városban. Diagramot készített arról, hogy az elmúlt két év vendégéjszakáit milyen nemzetiségű vendégek töltötték a panzióban.

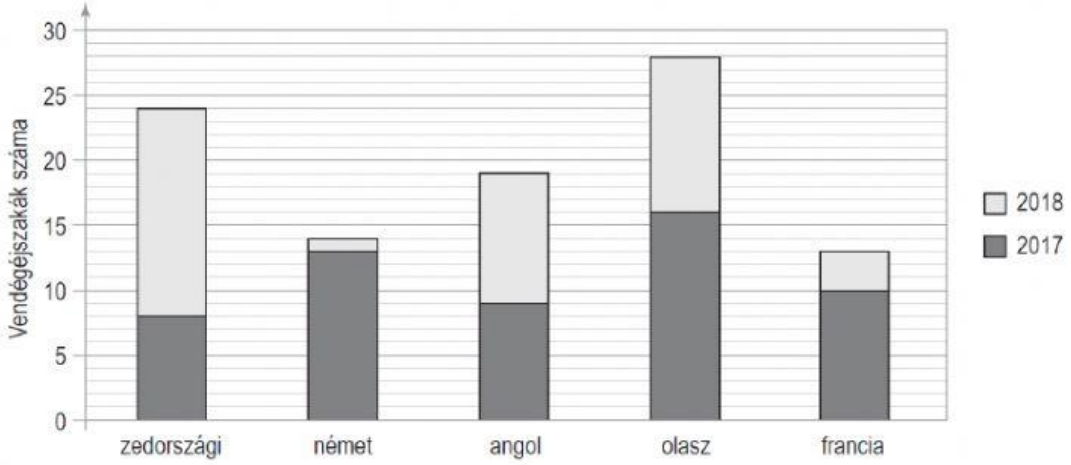

LIVEWORKSHEETS

Az elmúlt két év alatt milyen nemzetiségű vendégek töltöttek LEGKEVESEBB éjszakát Jutka néni panziójában? Satírozd be a helyes válasz betűjelét!

(A) zedországi

(B) német

(C) angol

(D) olasz

(E) francia

Koktél

Zoli gyümölcskoktélt készít a barátjának. Az alábbi diagram a felhasznált alapanyagok mennyiségét mutatja.

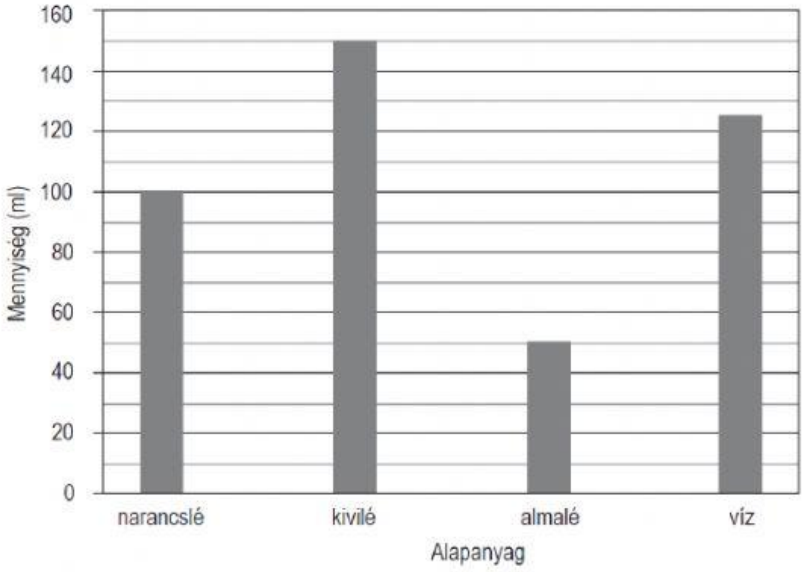

LIVEWORKSHEETS

A következő ábrán egy keverőpohár képe látható, amelynek oldalán skálabeosztás van.

Jelöld a keverőpohár skálabeosztásán egy vízszintes vonallal az elkészült koktél szintjét! Ha több jelölés is szerepel az ábrádon, vagy javítottad a jelölésedet, írd oda, melyik a véglege

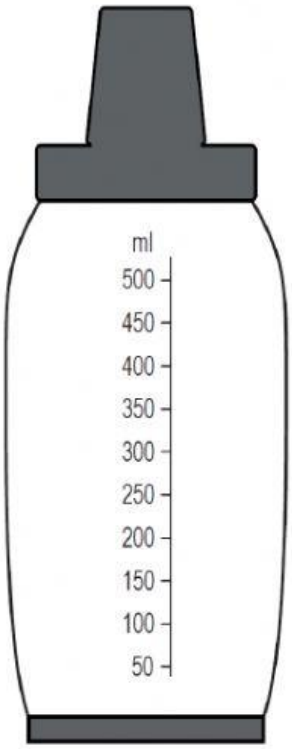

LIVEWORKSHEETS

Éttermi találkozó

Bálint egy étteremben szeretne találkozni az ügyfelével. A következő diagram azt mutatja, hogy ebben az étteremben várhatóan átlagosan mennyit kell várni a kiszolgálásra a különböző időszakokban.

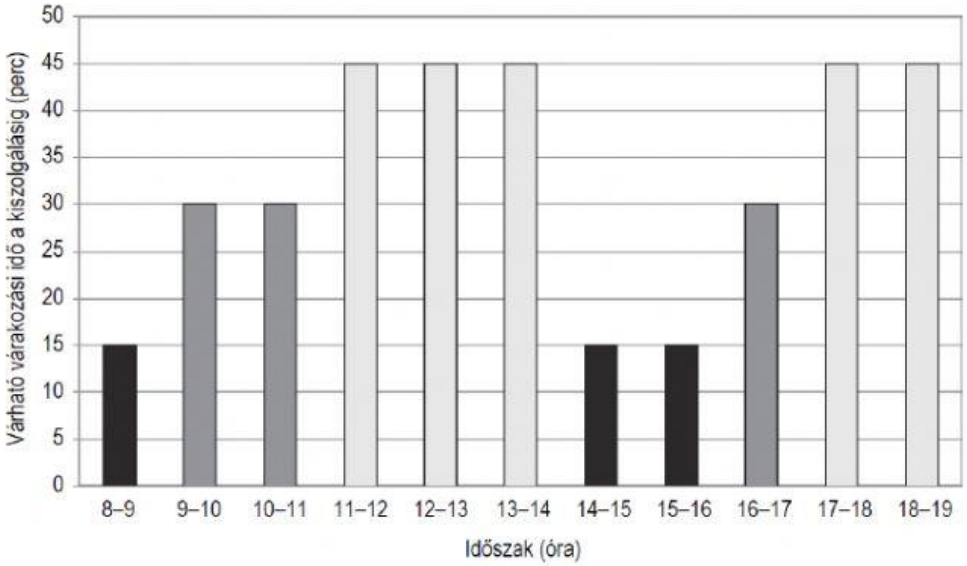

7.
3801

Bálint olyan időpontot szeretne választani a megbeszélésre, amikor a kiszolgálásra várhatóan legfeljebb 15 percet kell várni.

Az alábbi időpontok közül mikor találkozzon az ügyfelével az étteremben? Satírozd be a helyes válasz betűjelét!

(A) 9:15

(B) 10:30

(C) 14:45

(D) 16:15

LIVEWORKSHEETS