ورقة عمل علاجية – الوحدة 4			
المهارة	تطبيق نظرية المماسات لدائرة من نقطة خارجها		
اسم الطالب		الصف: الأول الثانوي	المادة: رياضيات2

شرح المهارة

في الشكل المقابل

قيمة x تساوي .....

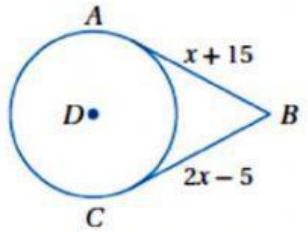

20	A	25	B	30	C	35	D

الحل: المماسان لدائرة من نقطة خارجها متطابقان لذلك نجد أن :

X+15=2x-5 , x=20

التطبيق

في الشكل المقابل

قيمة x تساوي .....

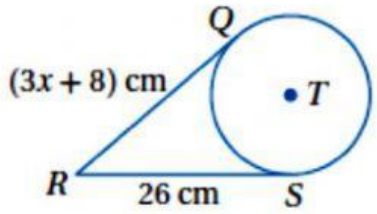

26	A	13	B	8	C	6	D

التقويم

في الشكل المقابل

أوجد قيمة x

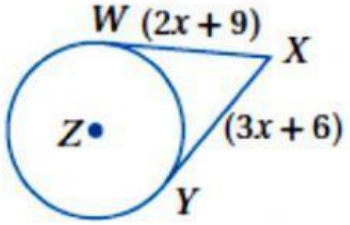

9	A	6	B	5	C	3	D

شرح المهارة	1 /	التطبيق	1 /	التقييم	1 /	نسبة التحسن	% .....

LIVEWORKSHEETS