ESCOLA ESTADUAL AMARO CAVALCANTE. SÃO TOMÉ - IV DIREC – SEEC/RN
AVENIDA RAINEL PEREIRA, CEP:59.400-000.TELEFONE (84)3258-3843
ENSINO FUNDAMENTAL E MÉDIO

DISCIPLINA: _____

PROFESSORES: _____

ALUNO(A): _____

ANO: 2º ENSINO MÉDIO, TURNO: VESPERTINO, DATA: ------/------/------

ATIVIDADE DIAGNÓSTICA - MATEMÁTICA

01. LIGUE CORRETAMENTE:

Sou o sucessor de 23	57
Fico entre 78 e 80	24
5 dezenas + 7 unidades	48
Sou o antecessor de 49	79

02. JÚLIA FEZ UMA PESQUISA COM SEUS AMIGOS SOBRE O SABOR DE SUCO QUE ELES PREFERIAM. ELA COLOCOU O RESULTADO NO GRÁFICO ABAIXO:

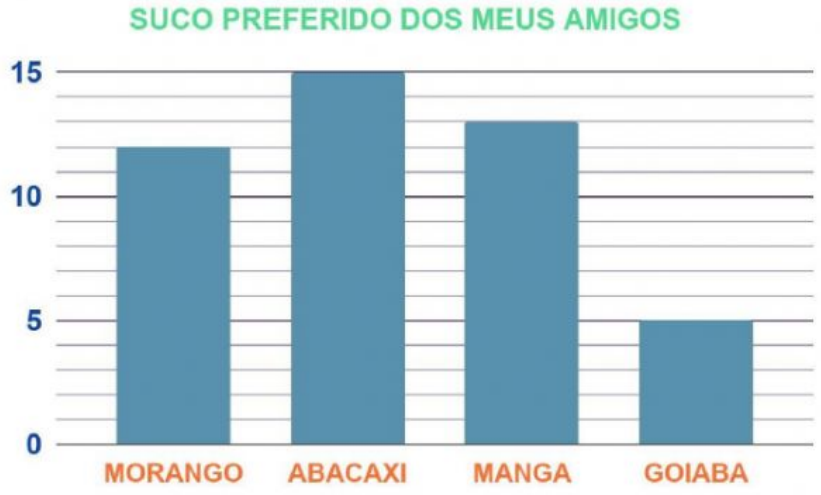

O SABOR PREFERIDO DOS AMIGOS DE JÚLIA É:

Morango | Abacaxi | Manga | Goiaba

LIVEWORKSHEETS
LIVEWORKSHEETS

03. EM UMA GINCANA ESPORTIVA O RESULTADO FINAL DE PONTOS FOI ESTE. ESCOLHA O COMPETIDOR QUE FICARÁ EM PRIMEIRO LUGAR.

---

04. OBSERVE O DESENHO E RESPONDA.



O PESO DA CAIXA QUE O MENINO CARREGA É:

- 65 kg
- 30 kg
- 35 kg
- 5 kg

---

05. OBSERVE O DESENHO E RESPONDA. SE ROMÁRIO PASSAR PELA CASA DO RIVALDO PARA IREM À ESCOLA JUNTOS, ELE VAI ANDAR:

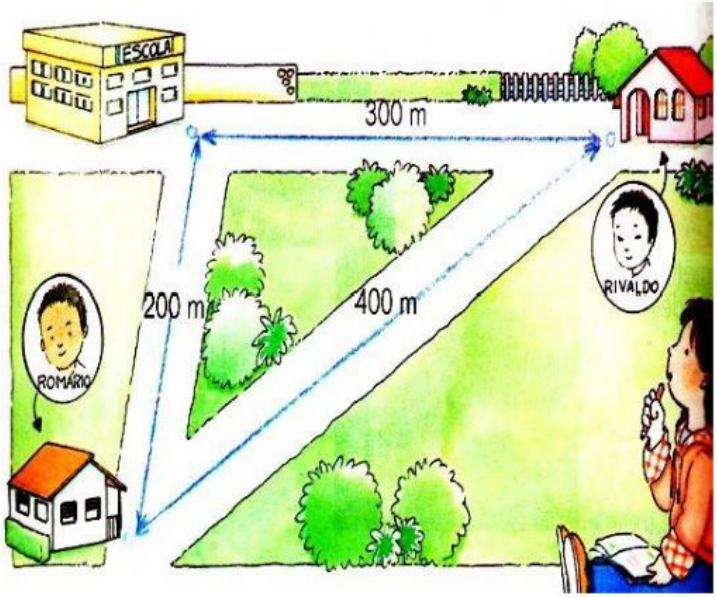

- 700 m
- 300 m
- 200 m
- 40 m

LIVEWORKSHEETS
LIVEWORKSHEETS

06. NA CARTEIRADE MAMÃE TEM TODAS ESSAS CÉDULAS E MOEDAS. QUANTO DINHEIRO MAMÃE TEM AO TODO?

R$ 10,00

R$ 11,00

R$ 11,50

R$ 12,00

---

07. ANDRÉ, PRISCILA, BRUNO E JULIANA ESTAVAM JOGANDO DE BILA. ELES CONTARAM A QUANTIDADE DE BILAS DE CADA UM NO COMEÇO DO JOGO E TAMBÉM NO FINAL. ANDRÉ ANOTOU OS NÚMEROS EM UMA TABELA:

CRIANÇAS	COMEÇARAM O JOGO COM	TERMINARAM O JOGO COM
ANDRÉ	33	45
PRISCILA	26	32
BRUNO	35	20
JULIANA	30	28

APÓS O FINAL DO JOGO, QUANTAS BILAS ANDRÉ E PRISCILA TINHAM JUNTOS?

45 | 77 | 32 | 07

---

08. A TABELA MOSTRA PRÊMIOS QUE AINDA PODEM SER ESCOLHIDOS EM UM BINGO. CÉZAR ESCOLHEU OS QUE TÊM AS SEGUINTES LOCALIZAÇÕES: C5 E D2. OS PRÊMIOS ESCOLHIDOS POR CÉZAR SÃO:

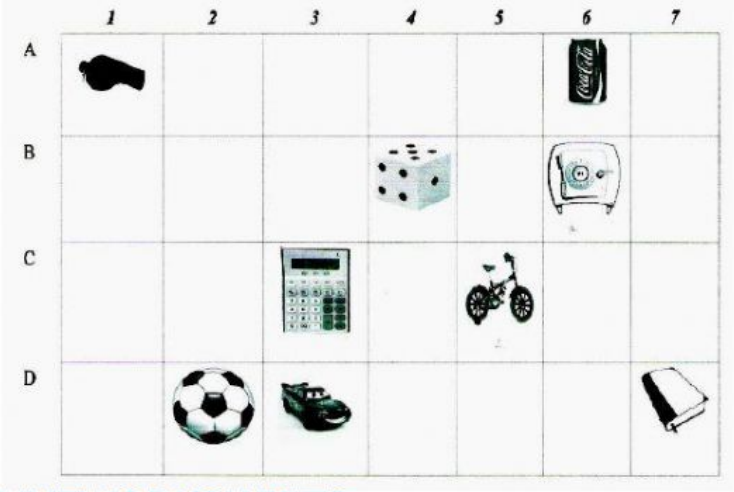

Bicicleta e Bola

Bicicleta e Calculadora

Bola e Dado

Calculadora e Carrinho

LIVEWORKSHEETS
LIVEWORKSHEETS