Nombre: _____

Indicaciones:

arrastre a los espacios vacíos la solución correcta de la inecuación.

Taller A



solución $(-\infty, 2]$

solución $[2, \infty)$

solución $(4, \infty)$

solución $(-\infty, 4)$

solución $[5, \infty)$

solución $(-\infty, 5]$

solución $(-\infty, 4]$

solución $[4, \infty)$

solución $(-\infty, -2)$

solución $(-\infty, 2)$

solución $(-2, \infty)$

LIVEWORKSHEETS

Nombre:_____

Taller A

Indicaciones: desarrolle cada inecuación y arrastre los elementos que necesite 10 pts.

$$2x - 6 \geq -3x - 6$$

Solución:_____

$[0, \infty)$

$(-\infty, 0]$

Gráfica:_____

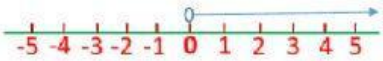

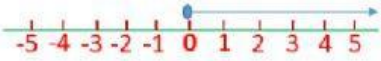

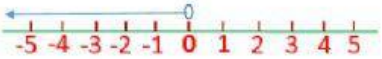

LIVEWORKSHEETS

Nombre:_____

Taller A

Indicaciones: desarrolle cada inecuación y seleccione el resultado correcto y la gráfica 10 pts.

$$2\,(3x+2) < 3x+7$$

$<$

$<$

$<$

$<$

$<$

Solución:_____

$(-\infty, 1\,)$

$(-\infty, 1\,)$

Gráfica:_____



LIVEWORKSHEETS