Colegio Carmen Teresiano
Segundo básico

Prueba de Ciencias Sociales.

Nombre del estudiante	
Fecha	

Objetivos:

- Conoce las normas de buena convivencia.
- Conoce y logra desarrollar desafíos con los puntos Cardinales.
- Identifica los Continentes.
- Logra localizar donde esta Chile en el mapa.
- Conoce los países de América del Sur (que recuerden más que nada los vecinos de Chile)

Selecciona la norma de convivencia que corresponda utilizar a cada caso.

1.- Susana quiere responder una de las preguntas que hizo la profesora. Entonces ella debe:

Esperar el turno de palabra antes de hablar	Compartir con los demás	Escuchar con atención cuando te hablen

Prof. Margot Zapata

LIVEWORKSHEETS

2.- Felipe quiere una consola de juego, pero su papá se quedo sin trabajo. Entonces él debe:

En la hora de comer, hay que sentarse en la mesa	Tratar a los demás como nos gustaría que nos tratasen a uno mismo siendo amable y respetuoso	No exigir cosas para comprar que no sean necesarias

3.- Marcelo y su familia saldrán en auto de vacaciones a la Región de Coquimbo. Entonces ellos deben:

Pedir permiso antes de coger cualquier objeto ajeno	Cumplir las nomas de seguridad, como ponerse el cinturón en el coche	Si te equivocas y haces daño a alguien, pedir disculpas

4.- Camila tuvo un regalo que no le gusto mucho, su papá le explica que ella debe:

Dar las gracias y ser agradecido	Cumplir los horarios de casa, por ejemplo, volver a la hora acordada	En la hora de comer, hay que sentarse en la mesa

LIVEWORKSHEETS

Colegio Carmen Teresiano
Segundo básico

Ordena los puntos cardinales en la rosa de los vientos.



Este	Norte	Sur	Oeste

Prof. Margot Zapata

LIVEWORKSHEETS

Colegio Carmen Teresiano
Segundo básico

Observa el plano y contesta las afirmaciones de continuación.

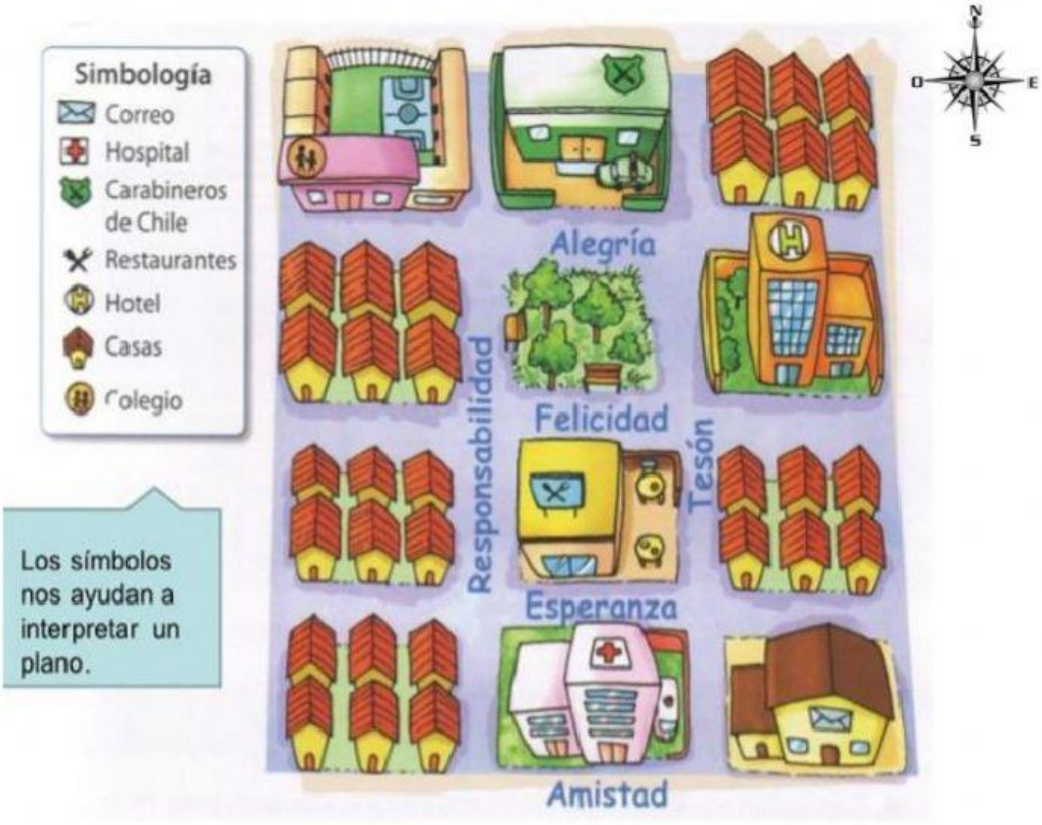

- La comisaría está al _____ de la plaza.
- El hospital está al _____ del restaurant.
- La plaza está al _____ del hotel.
- El correo está al _____ del hospital.

Prof. Margot Zapata

LIVEWORKSHEETS

Colegio Carmen Teresiano
Segundo básico

Arrastra el nombre de los continentes y país en su lugar correspondiente.

ÁFRICA | ASIA | AMÉRICA

ANTÁRTICA | OCEANÍA | EUROPA

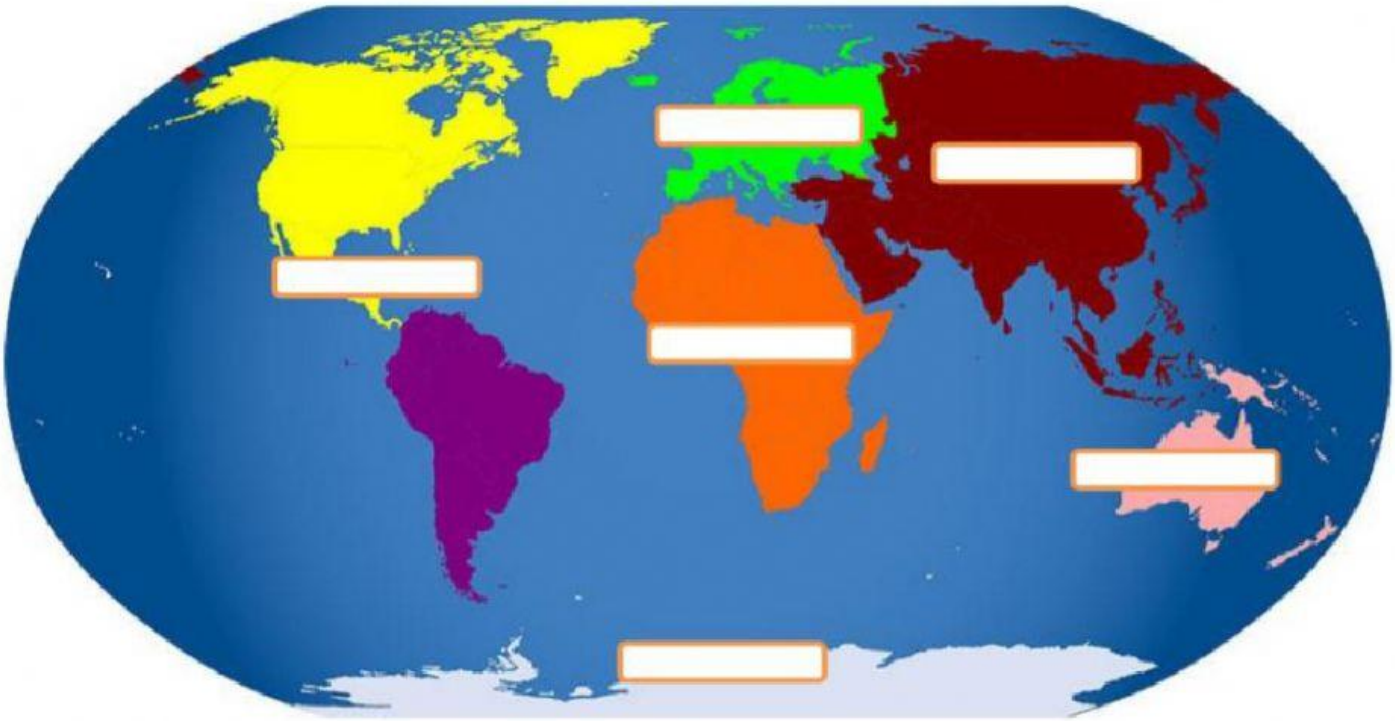

¿En qué continente esta Chile?

Prof. Margot Zapata

LIVEWORKSHEETS

Colegio Carmen Teresiano
Segundo básico

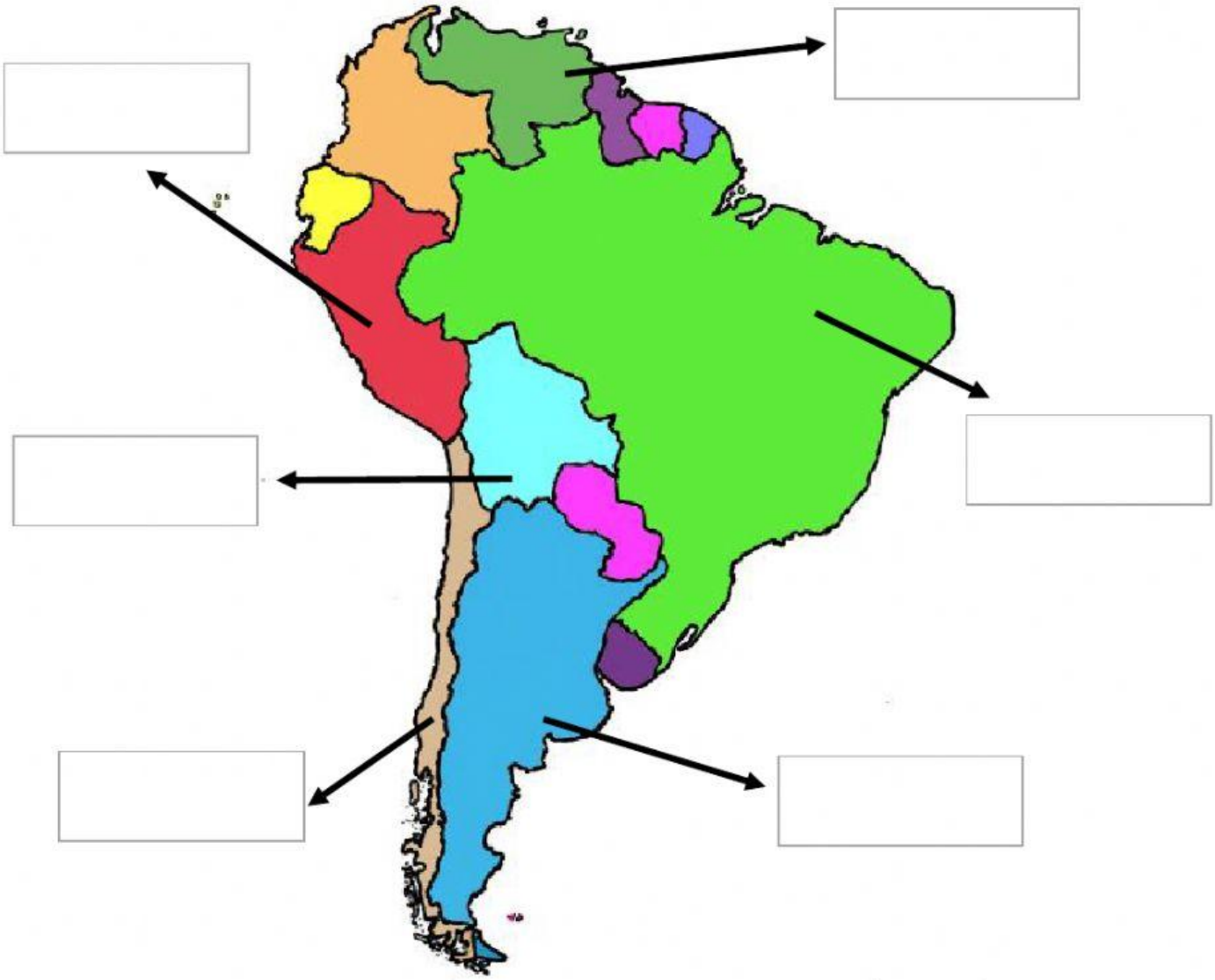

Chile	Venezuela	Argentina
Perú	Bolivia	Brasil

Prof. Margot Zapata

LIVEWORKSHEETS