INSTITUCIÓN EDUCATIVA EXPERIMENTAL
UNIVERSIDAD NACIONAL DEL SANTA
R.R. Nº 358-97-UNS / R.D. Nº 00233-99-SREP
ceexp@uns.edu.pe.-Telf: 310445-Anexo(1045)

Geometría **Tercer grado**

LOS ÁNGULOS Y SU CLASIFICACIÓN

1.- Observa las agujas del reloj e identifica la clase de ángulo que se forma

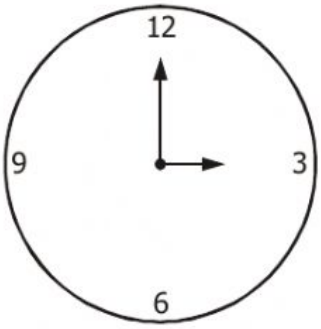



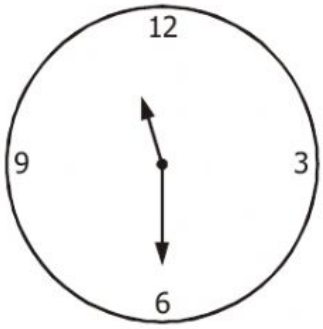





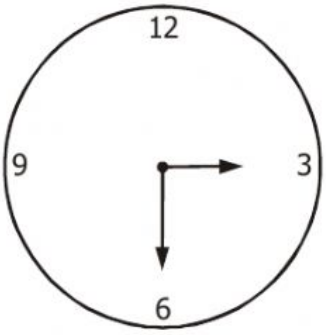

2.- Une según corresponda:

Ángulo agudo	es el que mide más de 90°
Ángulo recto	es el que mide menos de 90°
Ángulo obtuso	es el que mide 90°

LIVEWORKSHEETS

3.- Relaciona correctamente:

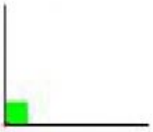

ÁNGULO OBTUSO

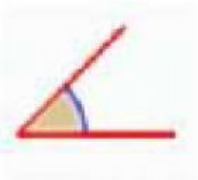

ÁNGULO RECTO

ÁNGULO AGUDO

4.- Clasifica estos ángulos

ÁNGULOS AGUDOS	ÁNGULOS RECTOS	ÁNGULOS OBTUSOS

LIVEWORKSHEETS