PAÍSES CON MAYOR Y MENOR DESARROLLO

NOMBRE:_____

Comencemos

Lee las páginas 114 y 115 de tu libro, así como la siguiente noticia y argumenta tus respuestas.

México es un país de contrastes, ya que existen diferencias que dependen en gran medida del lugar donde vives. Si comparamos la educación, la esperanza de vida, la salud y el ingreso de las diferentes entidades de nuestro país con los de otras naciones del mundo, encontraremos similitudes, tanto en países subdesarrollados como en los desarrollados. Por ejemplo, el PIB per cápita de los habitantes de la Ciudad de México fue de 36 562 dólares en 2012, una cifra similar a la de los franceses que fue de 36 084 dólares.

Aprendamos más

¿Cuál es la diferencia entre el PIB y el PIB per cápita?

1. Analiza la imagen y anota lo que se pide.

La economía global por PIB en 2018

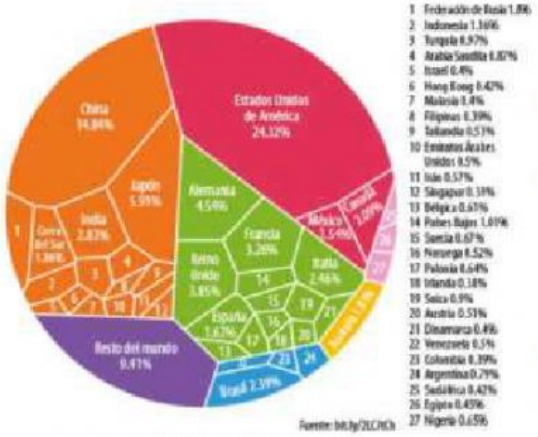

- ¿Cómo es el porcentaje del PIB de México comparado con el de Francia? _____
- Países con mayor porcentaje de PIB. _____
- Continentes o regiones que tienen los países con mayores porcentajes de PIB. _____
- Continentes o regiones que tienen los países con porcentajes del PIB más bajos. _____

LIVEWORKSHEETS

2. **Compara lo observado en la actividad anterior con los datos de ingreso per cápita de la página 115 de tu libro y responde.**

- Entre el PIB de un país y el PIB per cápita, ¿cuál permite comparar las condiciones económicas de la población de los países? Argumenta tu respuesta. _____

- Explica la ventaja de que además del PIB per cápita se utilicen otros indicadores como: el nivel de escolaridad, el gasto en salud y el desempleo para conocer las diferencias económicas entre países y regiones del mundo. _____

Revisa el mapa de gasto público en educación en el mundo, para saber cuánto invierte cada país en este rubro.
bit.ly/3269q24

3. **Analiza la información del mapa y anota una ✓ en las afirmaciones que consideras son verdaderas. Argumenta tu respuesta.**

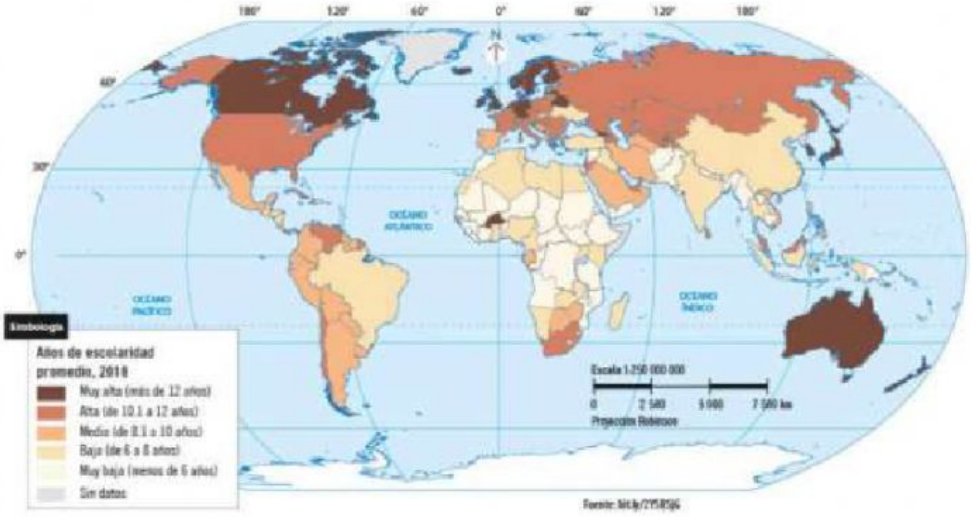

- África es el continente con menos escolaridad promedio del mundo. ◯
- Los países con mayor escolaridad se ubican en el Hemisferio Norte. ◯
- Hay un país con muy alta escolaridad en Oceanía. ◯
- Los países europeos tienen un promedio de escolaridad alta. ◯
- La escolaridad del continente americano es muy alta. ◯

LIVEWORKSHEETS

Apliquemos lo aprendido

4. Analiza el mapa y anota en la línea el nombre del continente o la región que se describe.

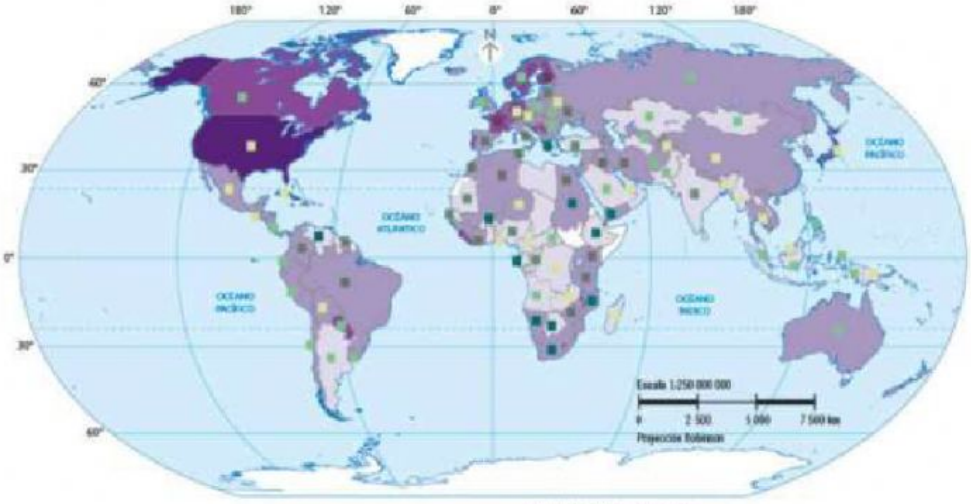

Fuente: bit.ly/2MAlj0p y bit.ly/3DAaSu

Simbología

Gasto en salud como porcentaje del PIB y tasa de desempleo %

Gasto en salud, 2018	Tasa de desempleo, 2016
Muy alto (más de 15)	Muy alta (más de 17)
Alto (de 10 a 15)	Alta (de 9 a 17)
Medio (de 6 a 9)	Medio (de 5 a 8)
Bajo (menos de 6)	Baja (menos de 5)
Sin datos	

¿Qué tanto se invierte en la salud en el mundo?

- Continente donde predomina la baja inversión en salud y porcentajes muy altos de desempleo. _____
- Continente donde se encuentra el país con alta inversión en salud y bajo nivel de desempleo. _____
- Tiene un alto nivel de gasto en salud, pero algunos países muestran un nivel de desempleo medio y alto. _____

¿Cómo es la situación del desempleo en el mundo?

- Es el continente donde se ubica el país que destina más recursos a la salud, y que incluye a países con porcentajes bajos y medios de desempleo. _____

Profesora Dulce Pilar Romero García

LIVEWORKSHEETS