Nombre: _____

Examen dinerete

1. **Cuenta y expresa el dinero que hay con un número decimal.**





2. **Inventa un problema que se resuelva con las operaciones dadas. Después, calcúlalas y escribe la solución.**

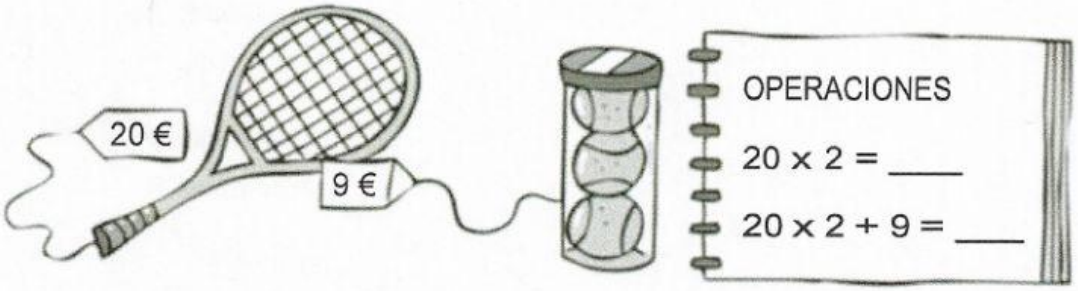

PROBLEMA

_____

_____

_____

3. Andrea compró 4 cuadernos a 3 € cada uno. Pagó con un billete de 20 €. ¿Cuánto dinero le sobró?

4. Pablo tenía 15 € y su tía le dio 10 €. Después, se gastó 12 € en un libro. ¿Cuánto dinero tiene ahora Pablo?

5. Para visitar un parque temático se han apuntado 45 adultos y 18 niños. Cada entrada de adulto cuesta 24 € y cada entrada infantil 12 €. Para pagar las entradas se han entregado 1.500 €. ¿Cuánto dinero les tienen que devolver?



LIVEWORKSHEETS