CIÊNCIAS – 1ª ETAPA

NOME: _____

TURMA: **5º ANO** PROFª.: **JORDANA** DATA: ____/____/2021

TÍTULO: Sistema Digestório

1) Arraste os nomes correspondentes a cada órgão do sistema digestório.

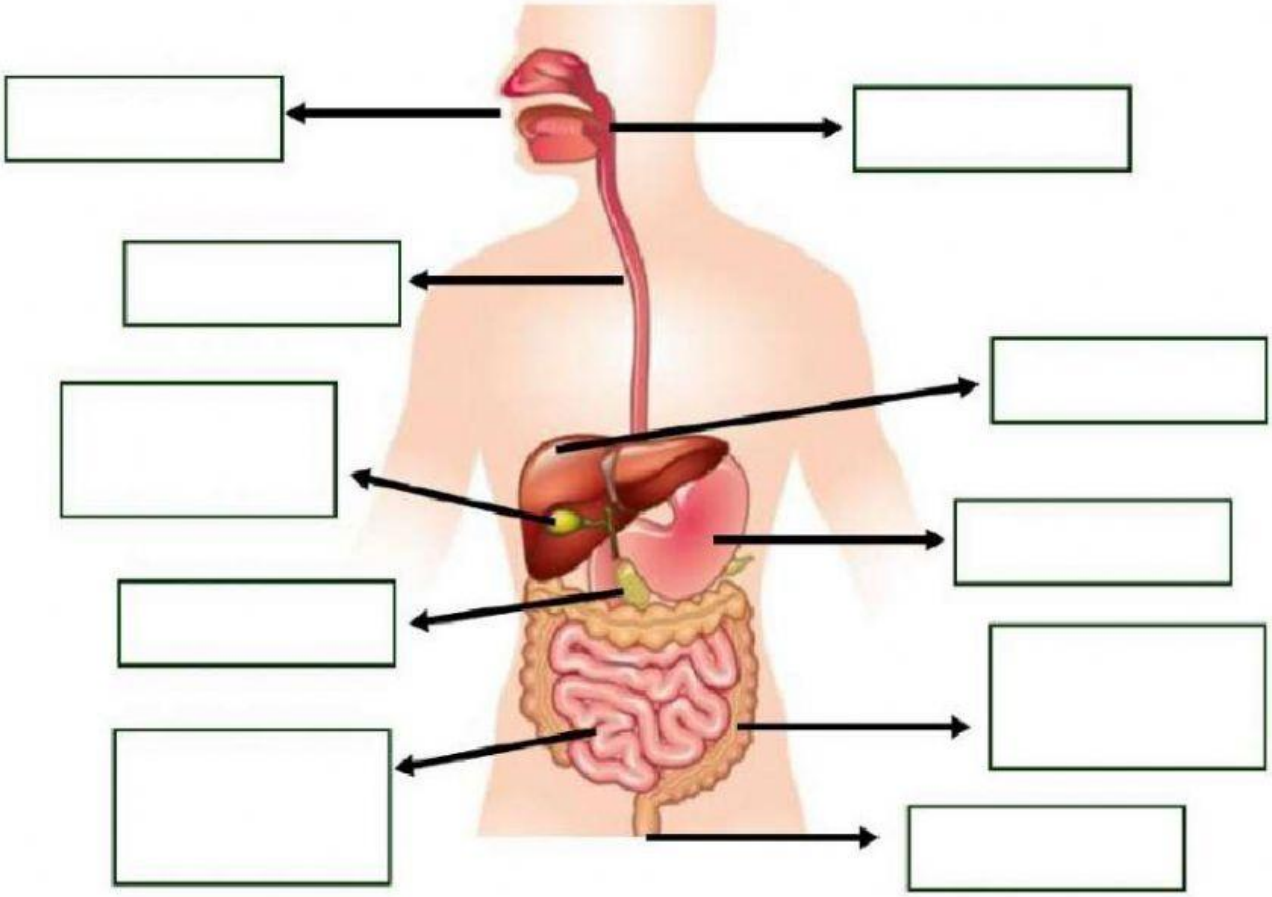

ESÔFAGO

FARINGE

BOCA

INTESTINO DELGADO

ESTÔMAGO

INTESTINO GROSSO

PÂNCREAS

ÂNUS

VESÍCULA BILIAR

FÍGADO

LIVEWORKSHEETS

➢ Veja o vídeo a seguir:



2) Preencha o esquema do sistema digestório com os órgãos que estão faltando.

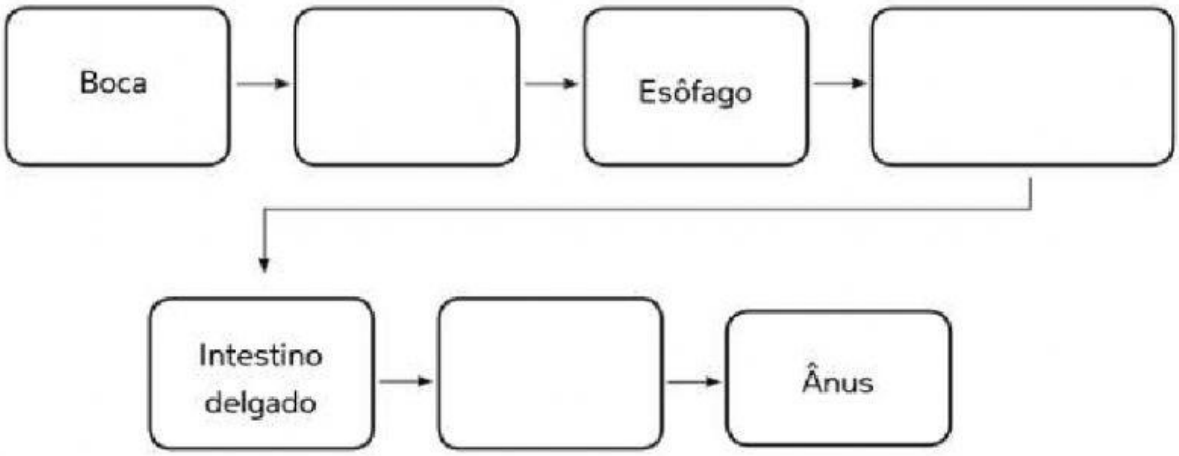

3) Enumere o órgão à etapa correspondente da digestão.

(1) Boca

(2) Faringe e esôfago

(3) Estômago

(4) Intestino delgado

( ) O bolo alimentar começa a se modificar, sendo transformado em outras substâncias.

( ) Os alimentos são mastigados e se misturam com a saliva.

( ) A parte aproveitável do bolo alimentar passa para o sangue.

( ) Os alimentos são engolidos, em forma de massa, e vão para o estômago.

LIVEWORKSHEETS