EVALUACIÓN DE MATEMÁTICA

CUARTO GRADO

NOMBRE: .....

UNIDAD EDUCATIVA: .....

1. REPRESENTAMOS LOS NÚMEROS NATURALES Y COMPLETAMOS LOS ESPACIOS VACIOS

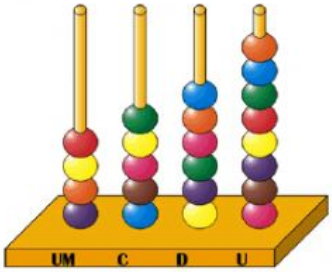



- ☐ UNIDADES DE MIL
- ☐ CENTENAS
- ☐ DECENAS
- ☐ UNIDADES

- ☐ UNIDADES DE MIL
- ☐ CENTENAS
- ☐ DECENAS
- ☐ UNIDADES

2. COMPLETA LA TABLA DESCOMPONIENDO LOS SIGUIENTES NÚMEROS

NÚMERO	UM	D	C	U	DESCOMPOSICIÓN
2302	2	3	0	2	2000 + 300 + 2
5725					
4200					
8285					

3. ESCRIBAMOS EL NÚMERO ORDINAL EN FORMA LITERAL

4º ☐

22º ☐

15º ☐

38º ☐

19º ☐

27º ☐

4. RESUELVE LAS SIGUIENTES ADICIONES

428	363	732
+ 520	+ 153	+ 144

5. UNE CON UNA FLECHA CADA ADICIÓN CON SU RESPUESTA

30 + 41	44 + 50	52 + 64	60 + 75

116	71	135	94

6. RESUELVE LAS SIGUIENTES SUSTRACCIONES

948	668	869
- 384	- 247	- 543

7. RESUELVE EL SIGUIENTE PROBLEMA

El contrato de una orquesta es de 36582 Bs. y se da un adelanto de 18391 Bs. ¿Cuánto es el saldo que se debe a la orquesta?	**OPERACIÓN** 3 6 5 8 2 - 1 8 3 9 1 _____
R:	

8. ESCRIBE LAS CANTIDADES EN NUMERAL

Veinticinco mil tres	
Cuatro mil treinta y uno	
Mil treinta y tres	

9. RESUELVE LAS SIGUIENTES CRUCISUMAS

10	+		=	
+		+		+
	+	6	=	
=		=		=
22	+		=	36

12	+		=	25
+		+		+
	+	3	=	
=		=		=
14	+		=	

10. ESCRIBE LAS SIGUIENTES FRACCIONES

	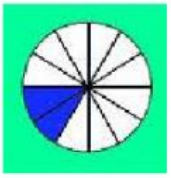	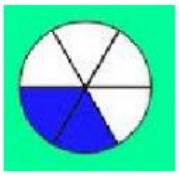
$\frac{\square}{\square}$	$\frac{\square}{\square}$	$\frac{\square}{\square}$

11. COMPLETA LAS SIGUIENTES CONVERSIONES

En metros		
2 km	=	2000 m
5 km	=	
8 km	=	

En kilómetros		
4000 m	=	2 km
7000 m	=	
6000 m	=	

12. RESUELVE LOS SIGUIENTES EJERCICIOS

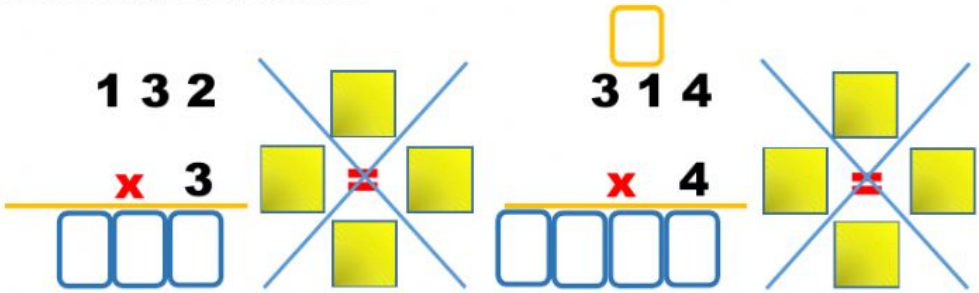

13. ENLAZA LA OPERACIÓN CON LA RESPUESTA CORRECTA

4 X 100	32000
7 X 5000	6500
32 X 1000	400
65 X 100	35000

14. RESUELVE LOS SIGUIENTES EJERCICIOS

24 | 6 ☐ ☐

46 | 3 ☐☐ ☐☐ ☐

69 | 9 ☐ ☐