NOMBRE:

DIVIDE01.

FECHA: - -

DIVIDIR

Divide los recuadros en las partes que se indican y completa luego las divisiones de la derecha como se señala en el ejemplo. ¡ATENCIÓN! ¡Las partes deben ser todas iguales!

DIVIDE EN 3 PARTES

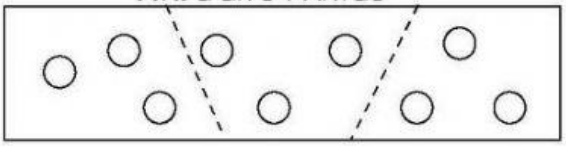

9 : 3 = 3....

DIVIDE EN 2 PARTES

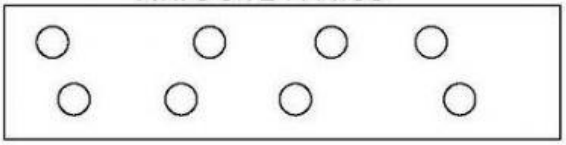

8 : 2 = ...

DIVIDE EN 4 PARTES

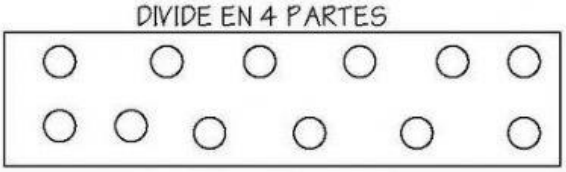

12 : .... = ...

DIVIDE EN 5 PARTES

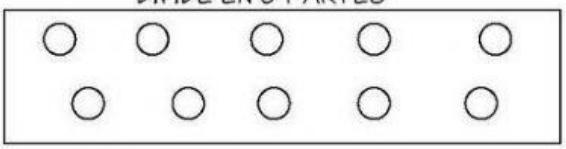

.... : .... = ...

Escribe el número que falta en las lineas de puntos:

3 x .... = 18	4 x .... = 28	.... x 6 = 36	.... x 5 = 20
4 x .... = 12	8 x .... = 24	.... x 7 = 35	.... x 2 = 8

Completa como se indica en el ejemplo:

2 x 3.... = 6 por eso 6 : 2 = 3....

3 x .... = 15 por eso 15 : 3 = ...

4 x .... = 24 por eso 24 : 4 = ...

5 x .... = 20 por eso 20 : 5 = ...

6 x .... = 18 por eso 18 : 4 = ...

7 x .... = 42 por eso 42 : 7 = ...

Calcula el número que falta en las lineas de puntos:

35 : 5 = ...	8 : 4 = ...	12 : 3 = ...	14 : 2 = ...	24 : 6 = ...
21 : 7 = ...	48 : 7 = ...	36 : 9 = ...	4 : 2 = ...	15 : 3 = ...

LIVEWORKSHEETS