DIAGRAMA DE ÁRBOL

1. **OBSERVA. Camila** debe armar grupos de dos canicas de diferente color. ¿Cuántos grupos puede formar? **Completa** en el diagrama de árbol la inicial de cada color y **responde**.



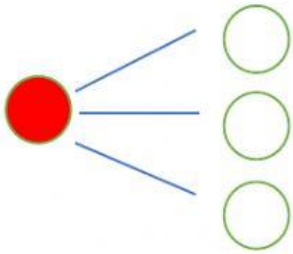

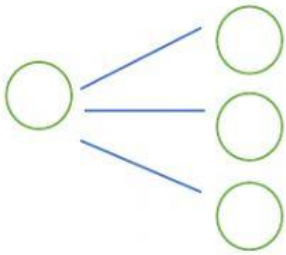

Camila puede formar_____ grupos de diferente color

2. Guiselle tiene 3 faldas: una negra, una roja, y una azul. Si desea combinarlas con 3 blusas: roja, blanca y azul. **Completa** en el diagrama de árbol la inicial de cada color y **responde**.



- ¿Cuántas probabilidades tiene de combinar sus prendas?
- ¿Cuántas veces puede vestirse de un solo color?

LIVEWORKSHEETS