SVOLGI IL SEGUENTE ESERCIZIO GUIDATO

In una classe è stato chiesto ad alcuni alunni il voto preso nell'ultima verifica di inglese e le risposte sono state le seguenti:

8 7 7 5 6 6 6 6 6

a) Inserisci i dati in una tabella con frequenza assoluta, relativa e percentuale

b) Calcola moda, media e mediana

c) Rappresenta le frequenze assolute con un istogramma mettendo le FA alle ordinate

<u>Approssima tutti i risultati non interi ai centesimi</u>

a)

Voti	FA	FR	%
5	1	1 :..... = 0,11	0,11 x ..... = 11%
6		..... : ..... = ...	..... x ..... = ...
7		..... : ..... = ...	..... x ..... = ...
8		..... : ..... = ...	..... x ..... = ...
	Totale:	Totale:	Totale:

b)

Moda: il voto con maggior frequenza è: .....

Media: la somma di tutti i voti diviso il totale delle FA è .....

Mediana: il voto che si trova al centro della successione ordinata è .....

c) Scrivi SI vicino all'istogramma corretto.

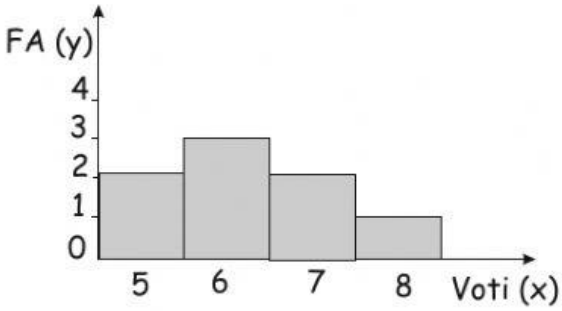

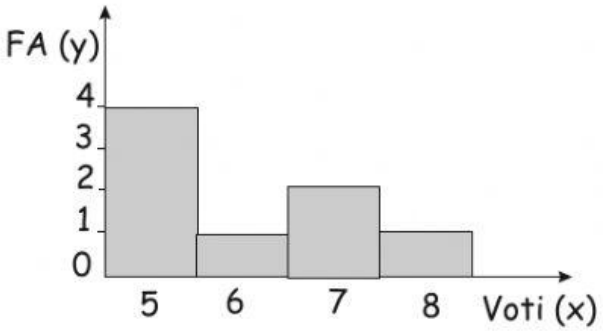

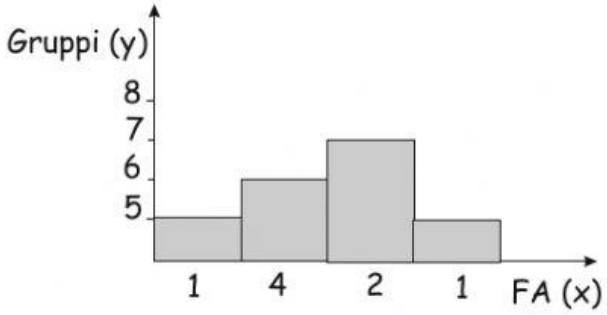

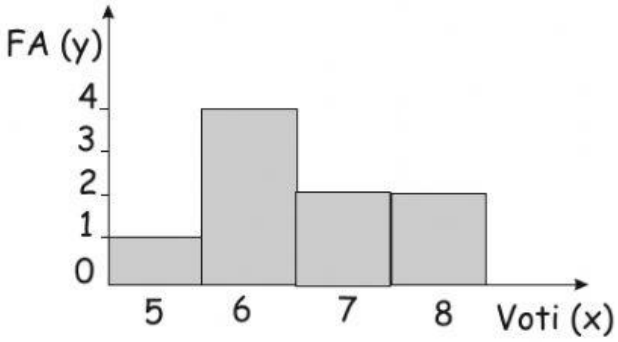

LIVEWORKSHEETS