1 Oblicz obwód i pole figury. (... / 2 p.)

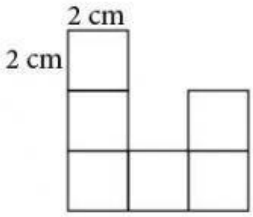

2 Jakie pole ma narysowana figura? (... / 1 p.)

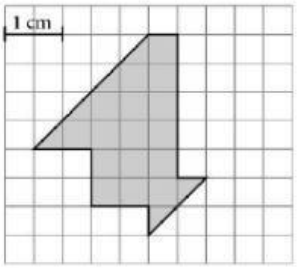

$P =$ _____ cm^2.

3 Oblicz pole i obwód: (... / 4 p.)

a) prostokąta o bokach 4, 3 cm i 7 dm, b) kwadratu o boku 3, 4 cm.

4 Romb ma wysokość równą 5 cm, a jego obwód jest równy 40 cm. Ile wynosi pole tego rombu? (... / 2 p.)

A. 50 cm^2 B. 100 cm^2 C. 150 cm^2 D. 200 cm^2

5 Oblicz pole i obwód równoległoboku. (... / 4 p.)

a)

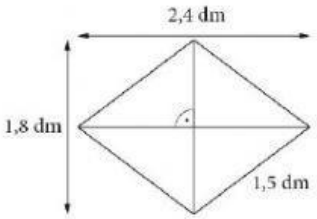

b)

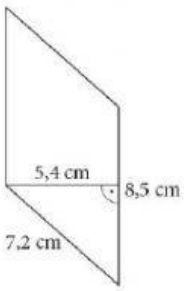

$P =$ _____ $P =$ _____

Obw. = _____ Obw. = _____

LIVEWORKSHEETS

6 Oblicz pole trójkąta. (... / 1 p.)

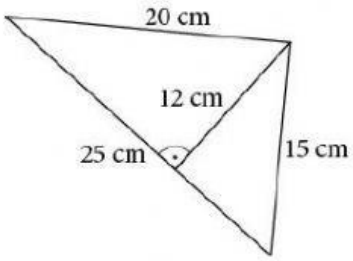

7 W trapezie jedna podstawa ma 12 cm, druga jest o 5 cm krótsza, a wysokość jest 3 razy krótsza od dłuższej podstawy. Oblicz pole tego trapezu. (... / 3 p.)

8 Uzupełnij. (... / 4 p.)

a) 61 m^2 = _____ dm^2

b) 8 dm^2 = _____ mm^2

c) 4 ha = _____ m^2

d) 85 a = _____ m^2

LIVEWORKSHEETS