ناتج التعلم : إيجاد حجم المجسم المركب

تعليم

مؤسسة الإمارات للتعليم المدرسي

تمرين موجّه

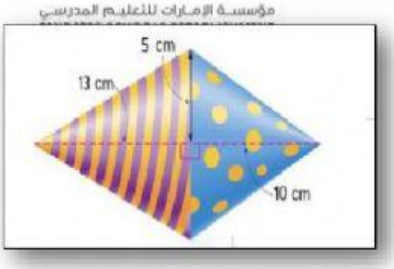

6. أوجد حجم زوج المخاريط الموضح. قرّب إلى أقرب جزء من عشرة. (المثال 3)

عنوان الدرس : حجم المخروط

حجم المخروط الأول(اليمين)

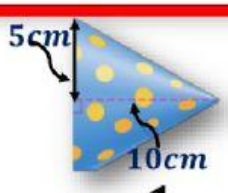

$$V = \frac{1}{3}\pi \cdot r^2 \cdot h$$

$$V \approx \frac{1}{3} \times \quad \times \quad ^2 \times$$

$$V \approx \quad cm^3$$

حجم المخروط الثاني(اليسار)

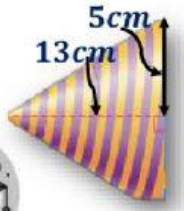

$$V = \frac{1}{3}\pi \cdot r^2 \cdot h$$

$$V \approx \frac{1}{3} \times \quad \times \quad ^2 \times$$

$$V \approx \quad cm^3$$

حجم المجسم المركب تساوي cm^3 = + =

Feedback

LIVEWORKSHEETS