1) Calcule le périmètre des figures suivantes. Prends le temps de bien faire ta démarche comme nous l'avons fait dans tes notes de cours! Inscris ta démarche dans le rectangle à droite de la figure.

a)

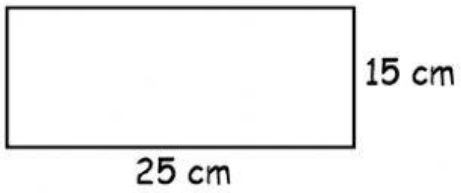

b)

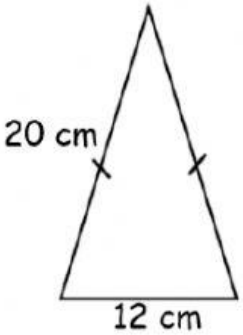

c)

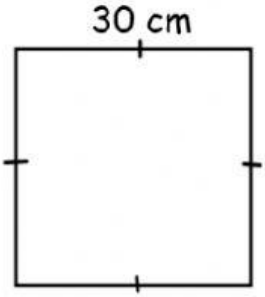

d)

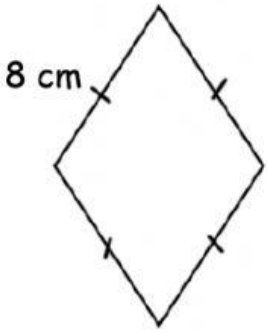

LIVEWORKSHEETS

2) Pour chaque situation, donne la formule, le calcul et la réponse.

a) Trouve le périmètre d'un triangle équilatéral dont les côtés mesurent 6 cm chacun.

b) Un rectangle dont la longueur mesure 8 cm et la largeur mesure 2 cm. Trouve son périmètre.

c) Un carré possède des côtés de 7 cm. Trouve son périmètre.

3) M. Drouin veut mettre une clôture autour de son grand jardin. Son jardin a une forme rectangulaire et mesure 4 m de longueur et 2 m de largeur. La clôture se vend 8$/m. Combien cela lui coutera-t-il ?

LIVEWORKSHEETS