7 kl. N.d. iš vadovėlio 234; 240; 241. Rašykite atidžiai tik skaičius.

234. Apskaičiuokite pavaizduoto trikampio perimetrą.

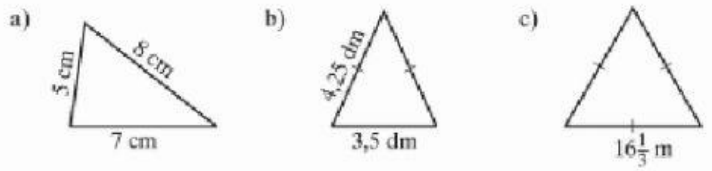

Atsakymai (rašykite tik atsakymus):

a) cm

b) dm

c) m

240. DG ir EH — trikampio DEF pusiaukraštinės, $DH = 7{,}4$ cm, $EG = 10{,}2$ cm. Apskaičiuokite kraštinės ED ilgį, jei $P_{DEF} = 48{,}2$ cm.

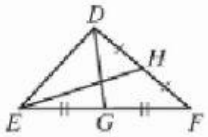

Sprendimas (rašykite tik skaičius): DF = cm; EF = cm.

ED= 48,2 – – = (cm)

Ats.: ED= cm.

241. AE ir BF — trikampio ABC pusiaukampinės, $\angle BAE = 27°$, $\angle ABF = 35°$. Apskaičiuokite trikampio ABC kampų dydžius.

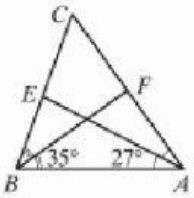

Sprendimas (rašykite tik skaičius):

∠ABC= °;

∠BAC= °;

∠BCA= °.

LIVEWORKSHEETS