Statistika-DATA

Menyajikan Data

NAMA SISWA : _____

KELAS : _____

Mrs. Fitri Yanti
Guru SDS Yasporbi 1
Email : fitriyantimiftah@gmail.com

Pilihlah satu jawaban yang benar

1. Berikut adalah data banyak siswa tiap kelas di SD Cerdas.

Kelas	Banyak Siswa
I	25
II	30
III	35
IV	30
V	40
VI	25

Diagram batang yang sesuai dengan data pada tabel diatas adalah....

A.

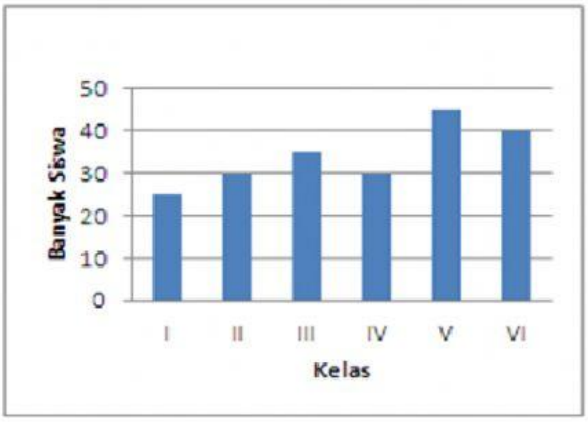

B.

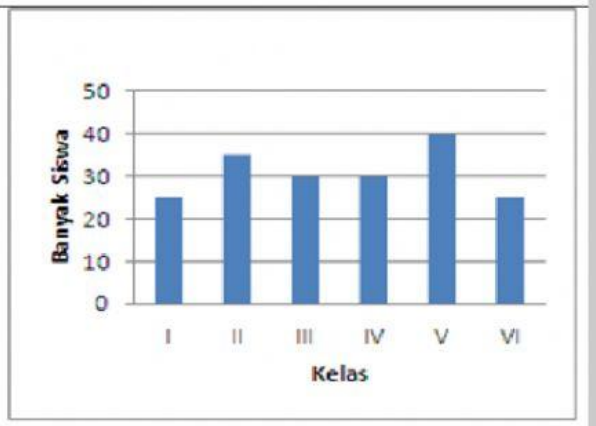

C.

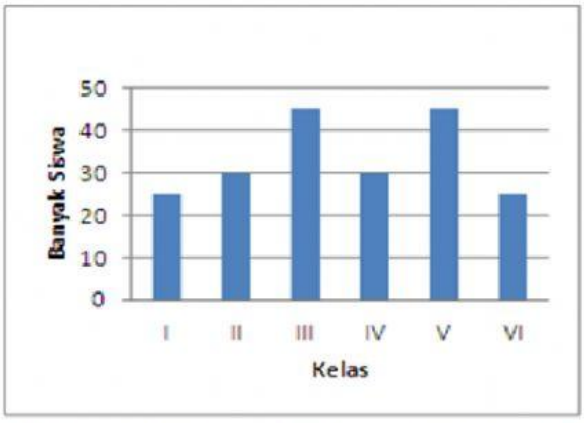

D.

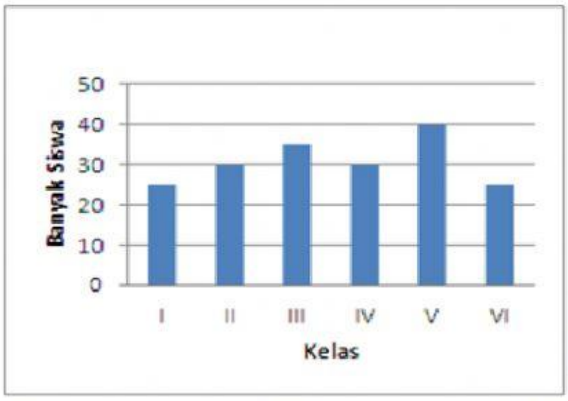

LIVEWORKSHEETS

2. Perhatikan data penjualan motor dalam 5 bulan berikut.

Bulan	Banyak penjualan (unit)
Januari	35
Februari	30
Maret	40
April	50
Mei	45

Diagram batang yang sesuai dengan data pada tabel diatas adalah....

A.

B.

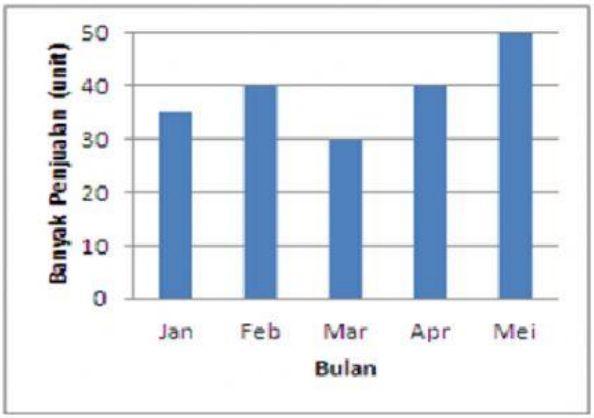

C.

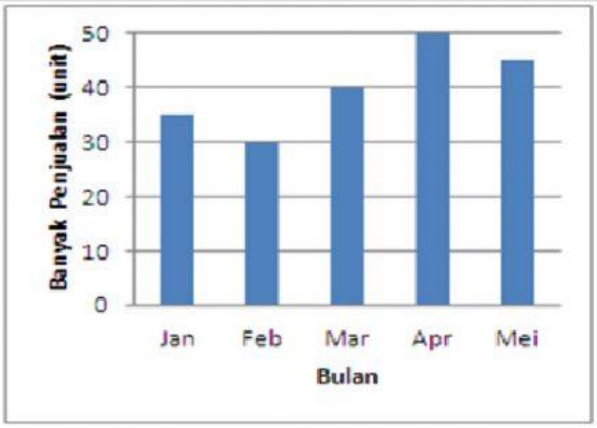

D.

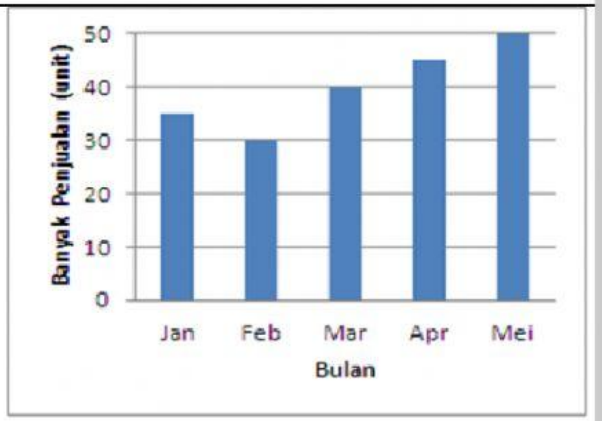

Mrs. Fitri Yanti
Guru SDS Yasporbi 1
Email : fitriyantimiftah@gmail.com

LIVEWORKSHEETS

3. Jumlah murid kelas I yang diterima di SD Mekar dari tahun 2012-2016 adalah sebagai berikut :

Tahun	2012	2013	2014	2015	2016
Banyak Murid	75	70	75	70	80

Diagram batang yang sesuai dengan data pada tabel diatas adalah….

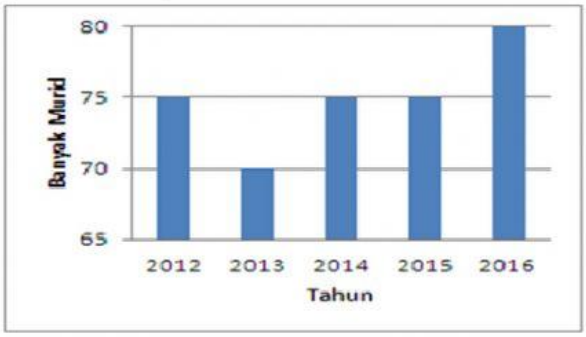

A.

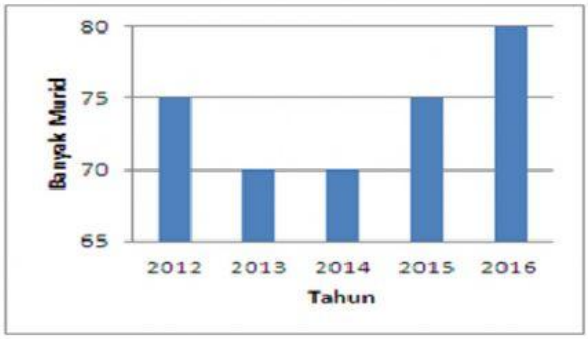

B.

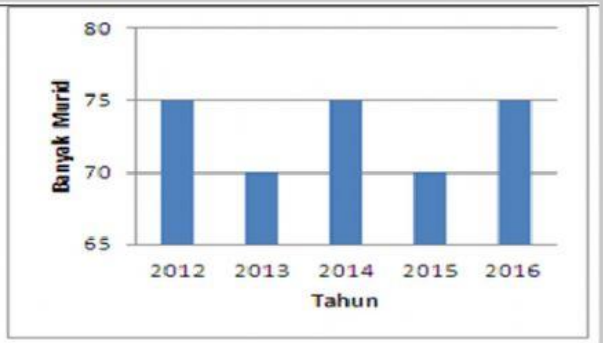

C.

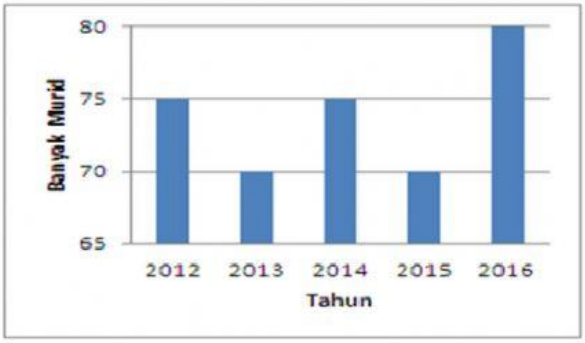

D.

4. Berikut adalah data banyaknya penjualan barang dalam 1 pekan.

Hari	Senin	Selasa	Rabu	Kamis	Jumat	Sabtu	Miggu
Banyaknya penjualan	10	16	22	14	8	25	12

Diagram batang manakah yang sesuai dengan data di atas?

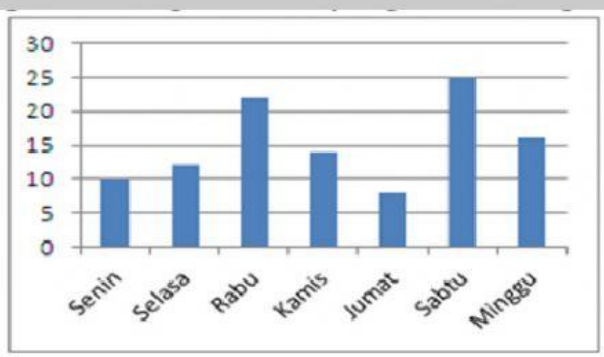

A.

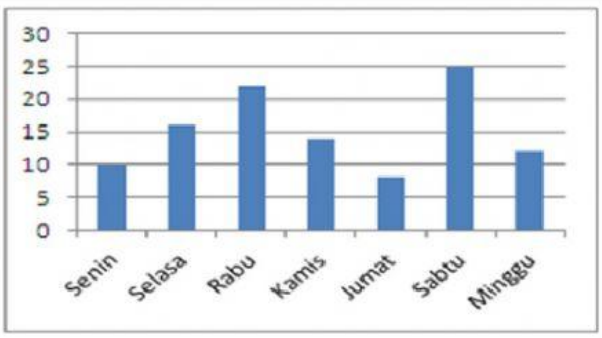

B.

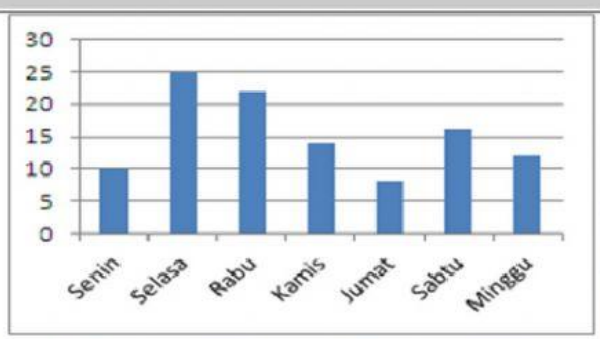

C.

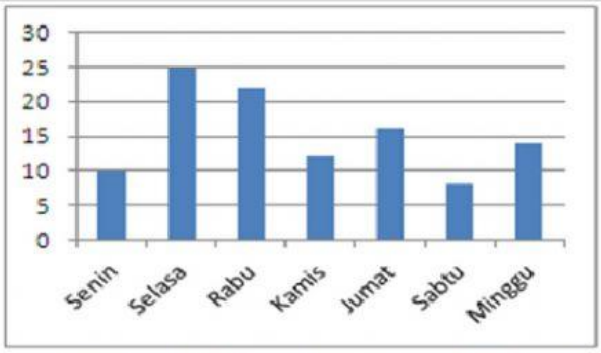

D.

LIVEWORKSHEETS

5. Diketahui data berat badan (kg) siswa kelas V SD Karya Insani sebagai berikut :

35; 35; 38; 37; 39; 35; 36; 36; 40; 38; 39
36; 37; 39; 40; 38; 38; 37; 35; 39; 38; 38
35; 36; 36; 38; 40; 39; 35; 36; 36; 38; 37
40; 40; 39; 38; 37; 37; 35; 35; 35; 38; 36

Diagram garis yang sesuai dengan data di atas adalah ....

A.

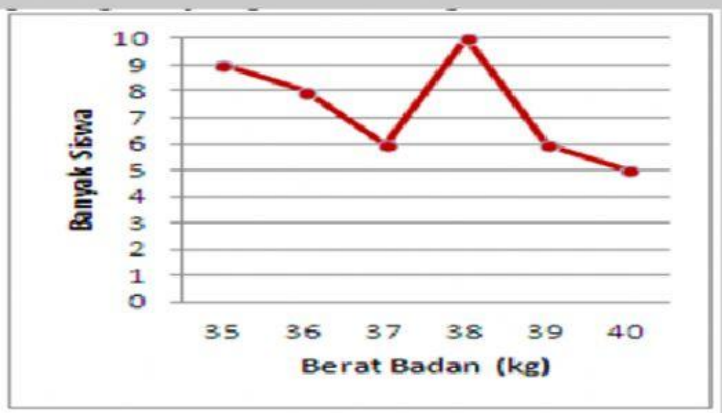

B.

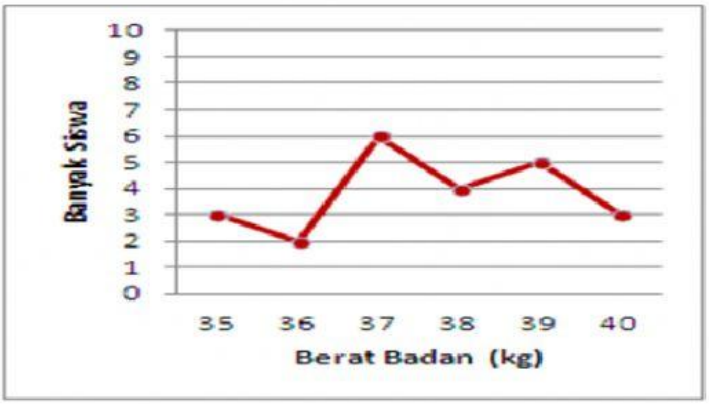

C.

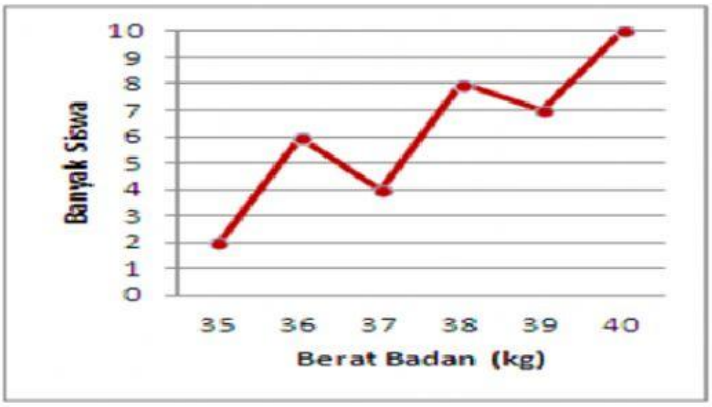

D.

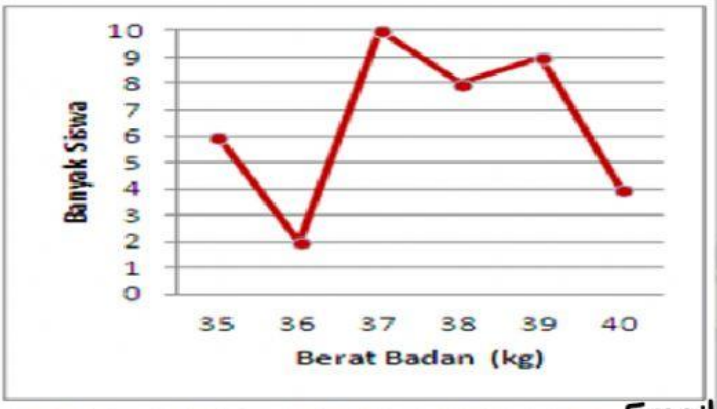

Mrs. Fitri Yanti
Guru SDS Yasporbi 1
Email : fitriyantimiftah@gmail.com

LIVEWORKSHEETS

6. Diketahui pertumbuhan penduduk di Desa Mekarsari.

Tahun	Pertumbuhan Penduduk (Dalam persen)
2012	0,35
2013	0,40
2014	0,30
2015	0,35
2016	0,45
2017	0.50

Diagram yang sesuai dengan tabel di atas adalah ….

A.

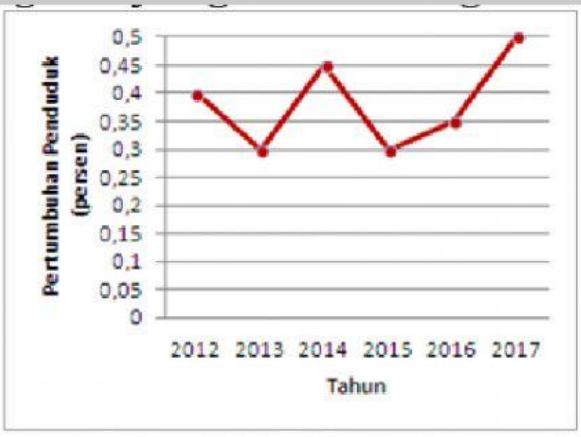

B.

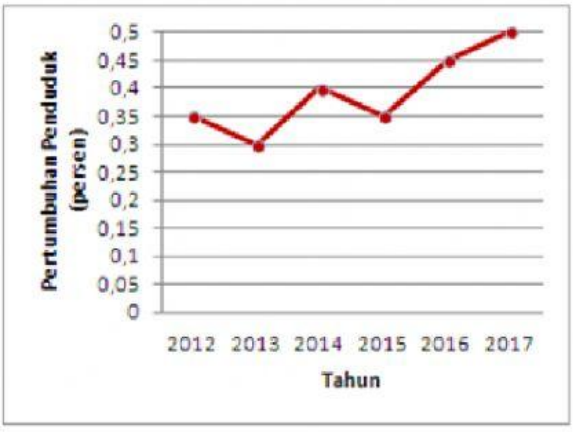

C.

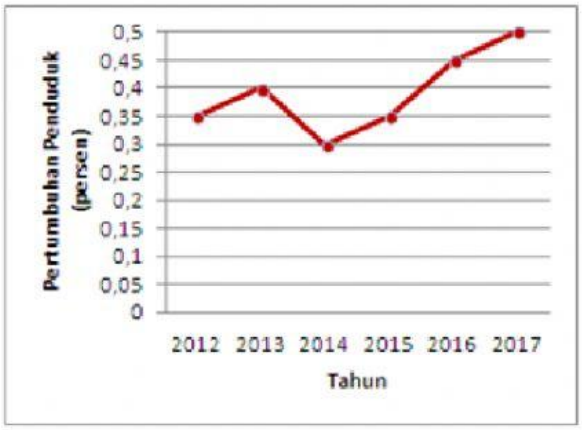

D.

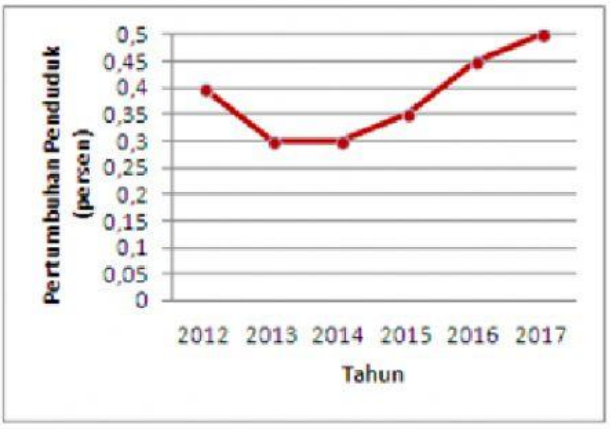

Mrs. Fitri Yanti
Guru SDS Yasporbi 1
Email : fitriyantimiftah@gmail.com

LIVEWORKSHEETS

7. Petugas Perpustakaan mencatat jumlah pengunjung setiap hari. Pada hari Senin banyaknya pengunjung 60 orang. Hari Selasa mengalami penurunan 10 orang dari hari sebelumnya. Hari Rabu mengalami penurunan setengahnya dari hari Senin. Hari Kamis banyak pengunjung 65 orang. Dan hari Jumat banyaknya pengunjung sama dengan hari Senin.

Diagram garis yang sesuai dengan data di atas adalah ....

8. Pak Latif adalah seorang peternak ayam. Tiap hari ayamnya menghasilkan telur dan dicatat oleh pak Latif. Pada hari Senin hasil telurnya 40 butir. Selasa mengalami peningkatan menjadi 45 butir. Hari berikutnya berkurang 10 butir dari hari sebelumnya. Pada hari Kamis mengalamim penurunan menjadi 20 butir. Hari Jumat menghasilkan telur sama dengan hari Senin. Dan pada hari Sabtu hasil telurnya sama dengan hari Selasa.

Diagram garis yang sesuai dengan data di atas adalah ....

Ies. Fitri
ru SDS Ya
triyantimif
LIVEWORKSHEETS

9. Diketahui jumlah siswa baru kelas I di SD Mekarsari sebagai berikut :

Diagram garis yang sesuai dengan gambar di atas adalah ....

10. Berikut adalah data ukuran tinggi dari siswa kelas V dalam satuan cm, yaitu :

127, 126, 125, 130, 129, 128, 126, 127, 125, 130.

Diagram garis yang sesuai untuk menyajikan data di atas adalah ....

Yanti
sporbi 1
Ftah@gmail.com

LIVEWORKSHEETS