Decenas y unidades

Ejemplo

1 decena = 10 unidades

Una decena de palillos

10 palillos

Unidades de palillos

palillos sueltos

¿Qué número se forma? Escríbelo en el recuadro. Hemos resuelto algunos ejercicios.

Número de decenas	Número de unidades	¿De qué número se trata?
		20
		58
		40
		35
		
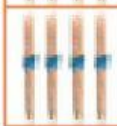		

LIVEWORKSHEETS