1. Melyik törtrész melyik százaléknak felel meg? **Kösd össze az párokat!**

$\frac{2}{5}$ *rész*	$\frac{1}{4}$ *rész*	$\frac{3}{10}$ *rész*	$\frac{6}{5}$ *rész*
30 %	120 %	25 %	40 %

2. Fejezd ki a törtrészt százalékban!

$0{,}26\ rész =$ % $1{,}01\ rész =$ %

$\frac{5}{8}\ rész =$ % $\frac{1}{9}\ rész =$ %

3. Fejezd ki a százalékot törtrészben! (add meg tovább nem egyszerűsíthető tört alakban és tizedes tört alakban is)

$12\ \% = \frac{\quad}{100} = \frac{\quad}{\quad} =$ $21\ \% = \frac{\quad}{\quad} =$

4. A boltban 8 db kivi 320 Ft-ba kerül. Mennyit fizetünk 1, 2, 5, 7 kiviért, illetve hány db kivit vehetünk 400 és 640 Ft-ért? Töltsd ki a táblázat hiányzó részeit! Írd a nyilak mellé, hogy mi a kapcsolat a két sor között!

db	1	2	5	8		
ár (Ft)				320	400	640

5. A paprika palántázásakor 5 m^2-re 75 db palántát ültetünk. Hány paprikapalántát ültethetünk el **a)** 10 m^2-en, illetve **b)** 32 m^2 területen? Írd be az adatokat az ábrába, csak számokat írj!

a)

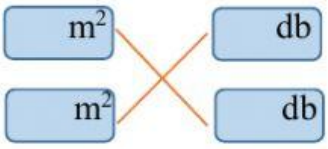

Válasz: darab palántát.

b)

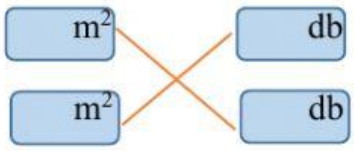

Válasz: darab palántát.

6. Egy kerékpáros 5 perc alatt 1500 m-t tesz meg. Hány perc alatt tesz meg 2400 m-t?
Írd be az ábrába az adatokat, csak számokat írj. Add meg a választ.

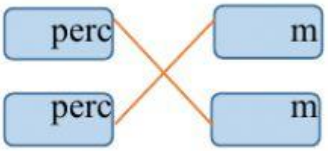

Válasz: perc alatt

LIVEWORKSHEETS