1. Цаг хэд болж байна вэ? Зөв харгалзуулаарай.

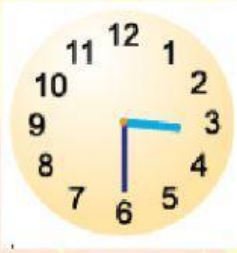
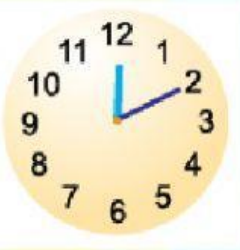
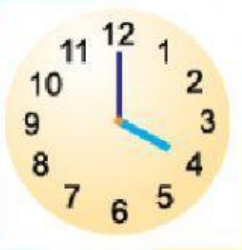
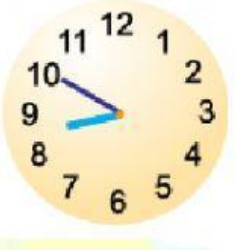

15:00 | 13:40 | 16:00 | 12:10 | 20:50

2. Зөв хариултуудыг олоорой.

А. 22 цаг 10 минут болж байна.

Б. 21 цаг 10 минут болж байна

В. 22 цагаас 10 минут өнгөрч байна.

А. 16 цаг 00 минут болж байна.

Б. 15 цаг 00 минут болж байна.

В. 03 цаг 00 минут болж байна.

3. Тэнцүү хэмжээнүүдийг зөв харгалзуулаарай.

А. 1 хоног

Б. 2 цаг

В. 1 жил

1. 120 мин

2. 365 хоног

3. 24 цаг

LIVEWORKSHEETS