# 얼마나 알고 있나요

**1** 각도기를 이용하여 각도를 재어 크기를 비교해 보세요.

가

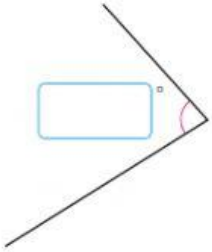

나

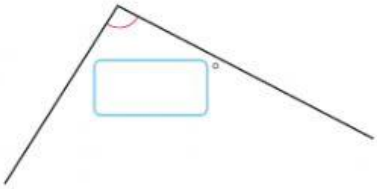

□의 각도가 더 큽니다.

**2** 주어진 각도의 각을 그려 보세요. 교과서에 그리세요.

50°

130°

**3** 각을 보고 예각, 둔각 중 어느 것인지 □ 안에 써넣으세요.

LIVEWORKSHEETS

**4** 각도를 어림하고, 각도기로 재어 확인해 보세요.



어림한 각도 약 ____°

잰 각도 ____°

**5** 두 각도의 합과 차를 구해 보세요.

합 ____°

차 ____°

**6** 도형판에 만든 두 사각형의 네 각의 크기의 합을 비교해 보세요.

가

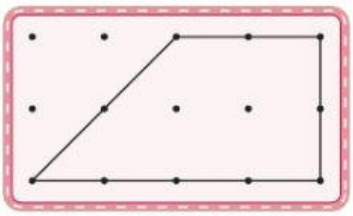

나

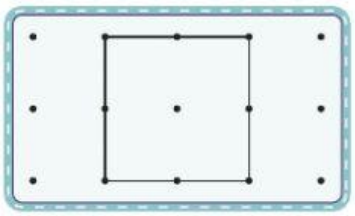





LIVEWORKSHEETS