EL SISTEMA INMUNOLÓGICO

PROFESORA
MARITZEL PALMA

NOMBRE: _____ GRADO: _____

1. ESCRIBE EL NOMBRE DE LAS PARTES DEL SISTEMA INMUNOLÓGICO EN LA IMAGEN.

Adenoides
Amígdala palatina
Médula ósea
Vasos linfáticos
Timo
Bazo
Ganglios linfáticos
Apéndice
Placas de Peyer

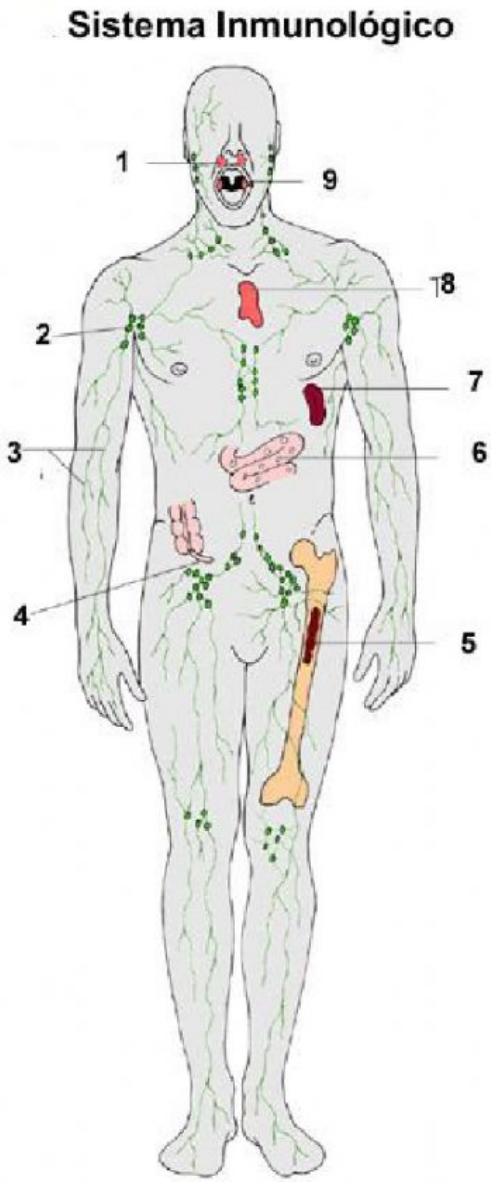

LIVEWORKSHEETS

2. RELACIONA LAS SIGUIENTES PALABRAS

1. Sistema de defensa	inmunoglobulina
2. Células de defensa	linfa
3. Tipos de linfocitos	inmunológico
4. Líquido que viaja por los vasos linfáticos	T y B
5. Proteína que reciben el nombre de anticuerpos	glóbulos blancos

3. CLASIFICA LAS IMÁGENES EN INMUNIDAD PASIVA O INMUNIDAD ACTIVA:

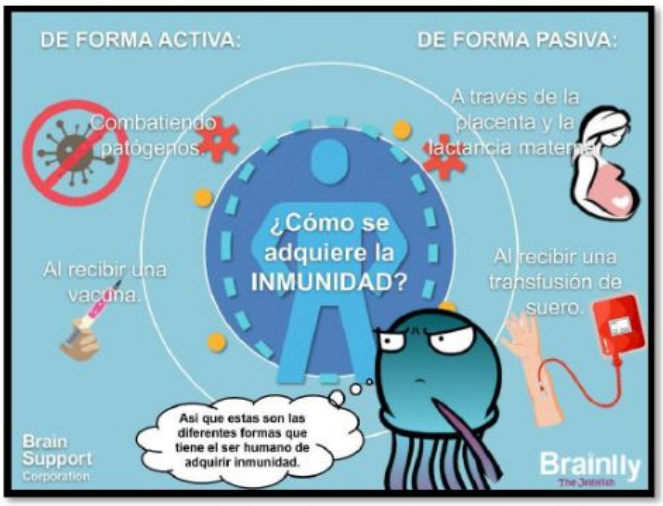

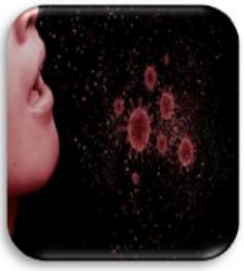

LIVEWORKSHEETS