Grupa **A**

Liczba punktów ..... / **22**

Imię i nazwisko .....

Klasa .....

Klasówka V

Zadanie **1** (.... / 3 pkt)

Oblicz pole figury.

a)

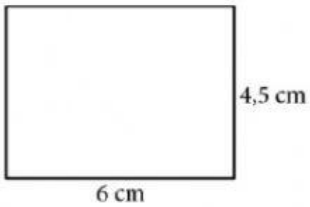

b)

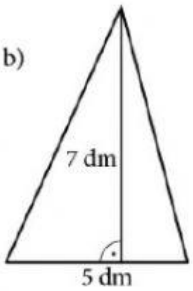

c)

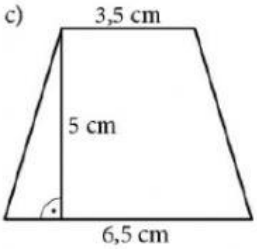

P = _____ P = _____ P = _____

Zadanie **2** (.... / 1 pkt)

Boki równoległoboku mają długości 7 cm i 11 cm. Wysokość opuszczona na dłuższy bok jest równa 5 cm. Oblicz pole równoległoboku.

Zadanie **3** (.... / 2 pkt)

Który romb ma większe pole:

R_1 – romb o przekątnych 7 cm i 12 cm,

R_2 – romb o boku 8 cm i wysokości 5 cm?

Zadanie **4** (.... / 2 pkt)

Ile jest równe pole kwadratu o obwodzie 56 cm?

Zadanie **5** (.... / 2 pkt)

Ogródek ma 10 m długości i 30 m szerokości. Ile arów ma ten ogródek?

LIVEWORKSHEETS

Zadanie **6** (.... / 2 pkt)

Odczytaj z rysunku potrzebne wymiary i oblicz pole trójkąta.

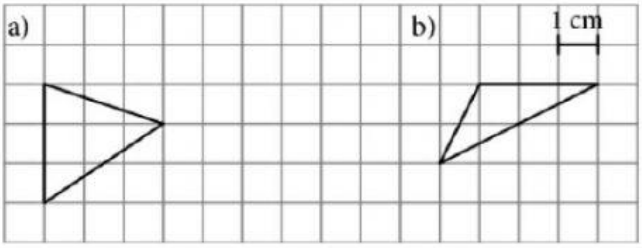

Zadanie **7** (.... / 1 pkt)

W trapezie prostokątnym podstawy mają 9 cm i 15 cm, a ramiona 8 cm i 10 cm. Oblicz pole tego trapezu.

Zadanie **8** (.... / 3 pkt)

Odczytaj z rysunku potrzebne wymiary i oblicz pole figury.

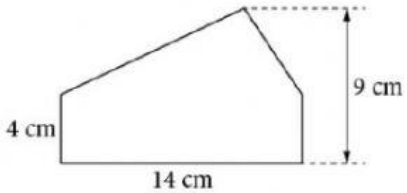

Zadanie **9** (.... / 4 pkt)

Uzupełnij.

a) 18 dm^2 = _____ cm^2

b) 32 m^2 = _____ cm^2

c) 2 ha = _____ m^2

d) 33 km^2 = _____ m^2

Zadanie **10** (.... / 2 pkt)

Oblicz pole figury.

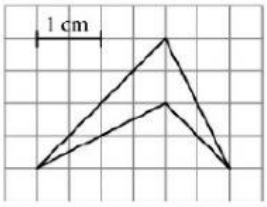

LIVEWORKSHEETS