PROYECTO: 4 **FICHA:** 3

ASIGNATURA: MATEMÁTICAS. **AÑO DE EGB:** QUINTO

LAS FRACCIONES.

1.Una con líneas cada dibujo con su respectiva fracción.



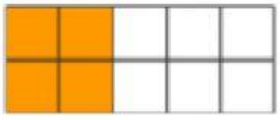

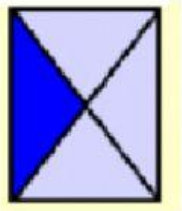

$\frac{6}{9}$

$\frac{1}{4}$

$\frac{1}{7}$

$\frac{3}{8}$

$\frac{1}{3}$

$\frac{4}{5}$

$\frac{4}{10}$

LIVEWORKSHEETS

2. Pulse los cuadritos para representar cada fracción.

a) $\frac{3}{4}$		e) $\frac{4}{4}$	
b) $\frac{2}{6}$		f) $\frac{1}{2}$	
c) $\frac{4}{5}$		g) $\frac{2}{5}$	
d) $\frac{1}{3}$		h) $\frac{2}{3}$	

3. Escriba como se lee cada fracción.

$a) \frac{1}{9}$

$b) \frac{10}{3}$

$c) \frac{7}{2}$

$d) \frac{100}{4}$

$e) \frac{8}{1}$

$f) \frac{20}{4}$

LIVEWORKSHEETS

4. Observe el conjunto de animales y luego elija las respuestas correctas.



-En el conjunto anterior hay un total de _____ **Animales.**

-Los conejos son los _____ **del total de animales.**

-Los gallos son los _____ **del total de animales.**

-El pájaro es el _____ **del total de animales.**

-Los mamíferos representan los _____ **del total de animales.**

LIVEWORKSHEETS