Colegio La Estrellita

Nuestro Compromiso es Educar con Calidad Humana

Preescolar y Básica Primaria

Resolución Oficial No.004110 de 2000

VALORACIÓN ACADÉMICA I PERIODO.

1. **Calculando ando.** Uno con una línea el resultado correspondiente.

30 + 15 - 20	30
22 - 12 + 8	18
11 + 11 + 8	19
16 - 8 + 11	25

2. Marco el resultado correcto de la multiplicación.

a. 4 x 8 28 36 32 30	b. 4 x 9 32 36 40 4	c. 5 x 5 25 20 30 5
d. 5 x 1 0 10 5 1	e. 5 x 8 35 40 45 8	f. 5 x 7 30 40 5 35
g. 6 x 5 24 30 36 60	h. 6 x 2 12 6 18 9	i. 6 x 9 48 60 54 9

LIVEWORKSHEETS

3. Resuelvo las siguientes multiplicaciones.

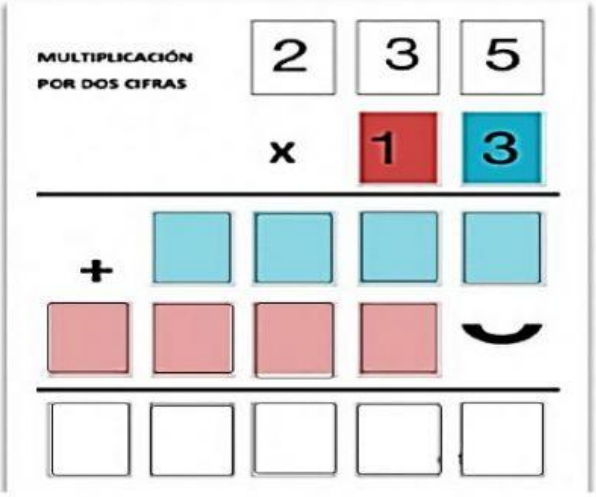

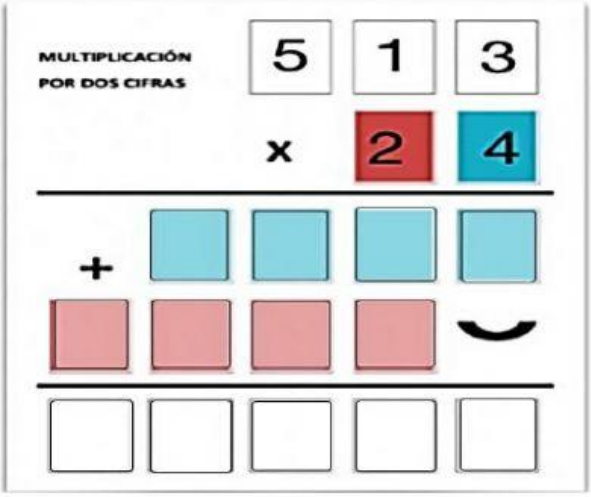

4. **Completa.** Escribe los términos de la siguiente división.

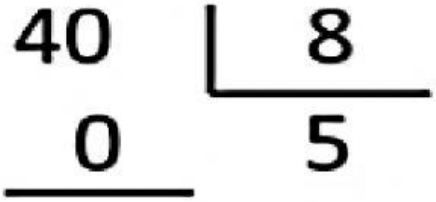

El dividendo es: _____

El divisor es: _____

El cociente es: _____

El resto es: _____

5. Realizo las siguientes divisiones.

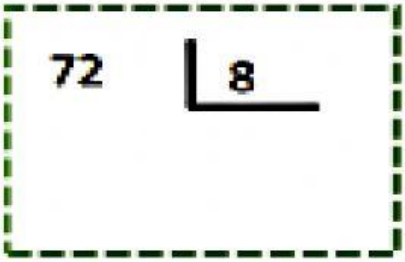

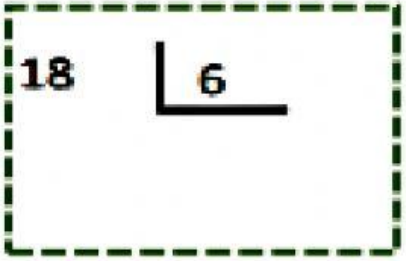

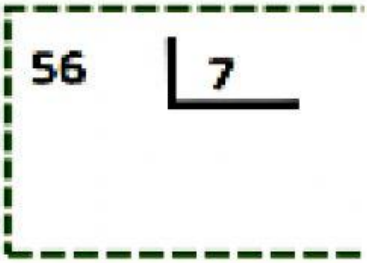

LIVEWORKSHEETS

6. Teniendo en cuenta la información anterior, completo la tabla.

	Dividendo	Divisor	Cociente	Resto
1				
2				
3				

7. **OBSERVA** la división y arrastra el nombre del término a su lugar correspondiente.

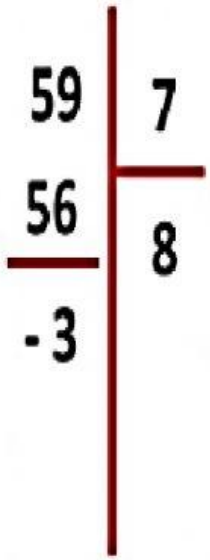

59		Dividendo
8		Divisor
7		Residuo
3		Cociente

LIVEWORKSHEETS

8. Resuelve las divisiones y luego selecciona si es una división exacta o inexacta.

DIVISIÓN	EXACTA	INEXACTA
54 : 6		
27 : 4		
64 : 8		
35 : 4		

9. Resuelvo.

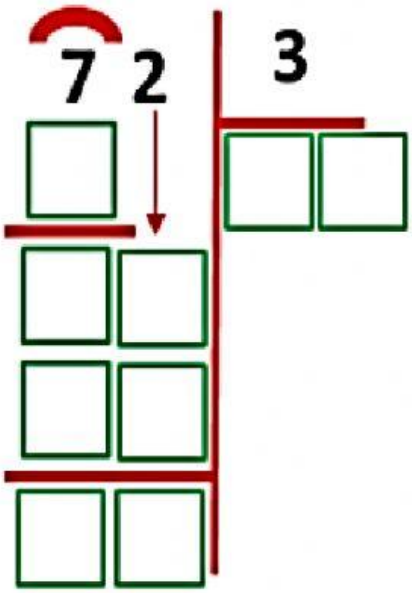

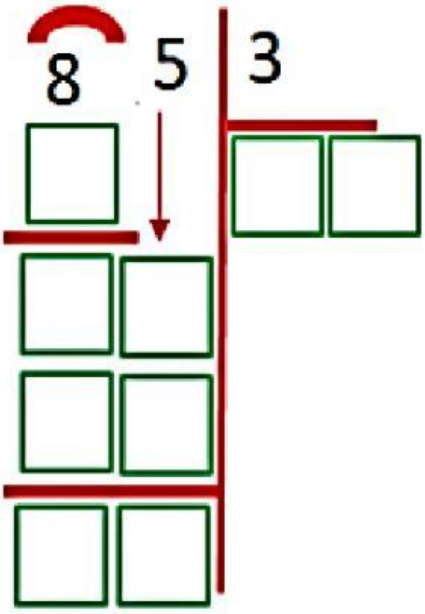

10. Es una hoja realizo la solución de los siguientes problemas, luego escribo la respuesta correspondiente. RECUERDA! Debes redactar la respuesta teniendo en cuenta lo que están preguntando.

LIVEWORKSHEETS

- Juan cultiva manzanas y en esta cosecha recogió **2.349** manzanas las cuales debe transportar en **9** camiones. ¿Cuántos camiones debe usar?

- Ana María tiene una colección de **432** libros. Se van para otra ciudad y debe empacarlos en **4** cajas. ¿Cuántos libros deben ir en cada caja?

- José hará un recorrido en bicicleta de 1.234 kilómetros y quiere dividirlo en 3 partes iguales. ¿Cuántos kilómetros deberá recorrer en cada parte? ¿Sobran kilómetros?

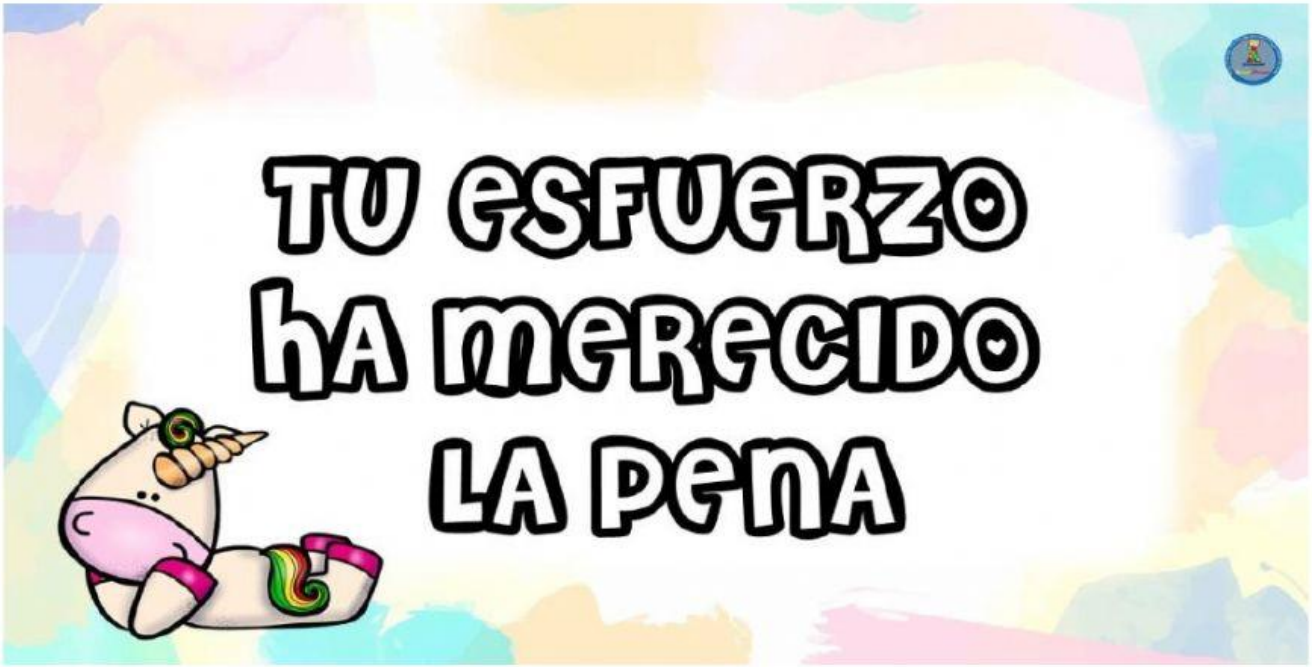

LIVEWORKSHEETS