النشاط الختامي

تلميذتي المبدعة

أجابتك دليل تفوقك

هياء ساعدي ساره في الحل

١)لدى محل أكياس السكر المقابلة .
يريد حمد شراء ٢٠ كيلو غرام من السكر
حوط أكياس السكر التي يمكنه شرائها.



---

٢) أكمل المخطَّط العنكبوتيّ بحيث يكون ناتج جمع كلِّ كسر والكسر المقابل له يساوي ١ .

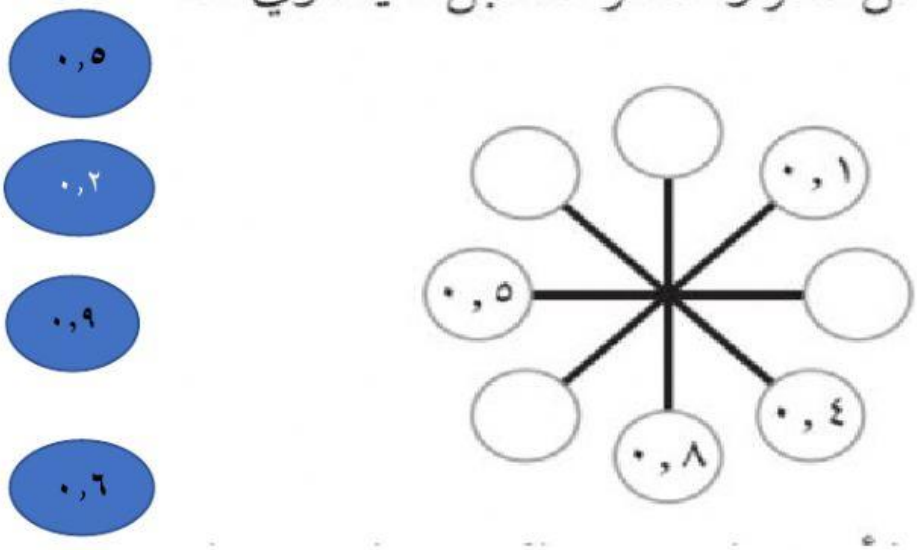

LIVEWORKSHEETS

اكتب الكســـور العشرية المفقودة بحيث يكـــون مجموع الكســـور فـــي كلّ خط يساوي ١.

٠,٤

٠,٢

٠,٣

٠,٦

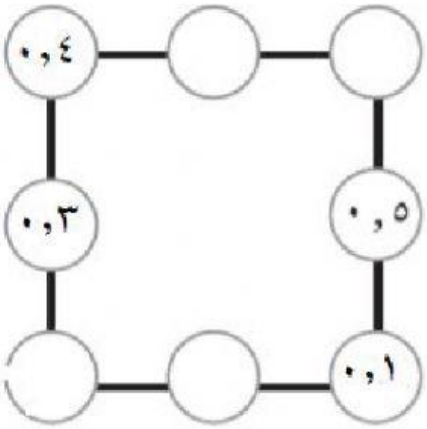

أكمل المخطّط العنكبوتيّ بحيث يكون ناتج جمع كلِّ عدد والعدد المقابل له يساوي ١٠.

٨,١

٤,٦

٦,٣

١,٨

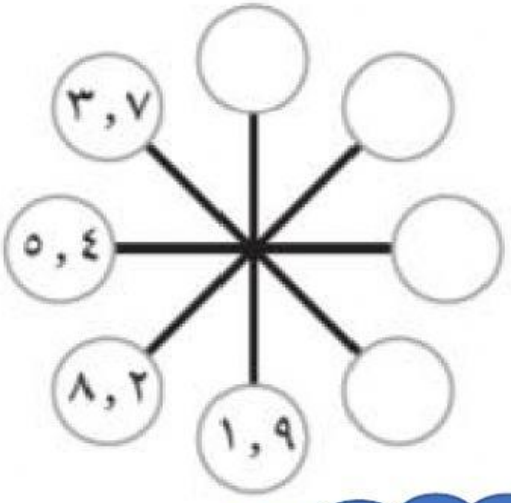

LIVEWORKSHEETS