KINGDOM OF BAHRAIN
Ministry of Education
Salahuddin Al-Ayoubi Primary Boys School

مملكة البحرين
وزارة التربية والتعليم
مدرسة صلاح الدين الأيوبي الابتدائية للبنين

نشاط درس محيط المضلع

اسم الطالب: ..... الصف: خامس/.....

إذا كان محيط المربع (ح)= س

فإن محيط المربع التالي=



١٦ سم

٢٦ سم

إذا كان محيط المستطيل

(ح)= ل + ض، فإن محيط المستطيل

التالي=

١٤ ملم

٢٠ ملم

أوجد محيط المضلعات التالية:

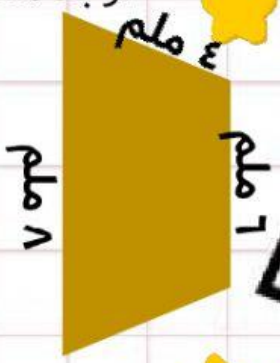

المحيط= ملم

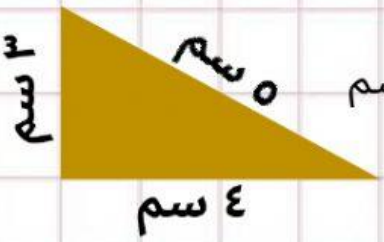

المحيط= سم

أوجد محيط المضلعات التالية:

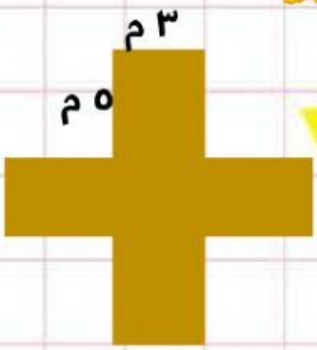

المحيط= م



المحيط= سم

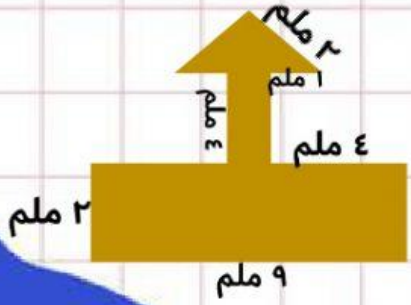

المحيط= ملم

إعداد: أ. مريم السيد محمد سعيد
منسقة القسم: أ. زينب حسن رمضان

المديرة المساعدة:
أ. زينب عبد السلام البناء

مديرة المدرسة:
أ. مها الشحات سليمان

LIVEWORKSHEETS