Chris, Gio y Alice leyeron libros el verano pasado.
Esta gráfica de barras muestra cuántos libros leyó cada amigo.

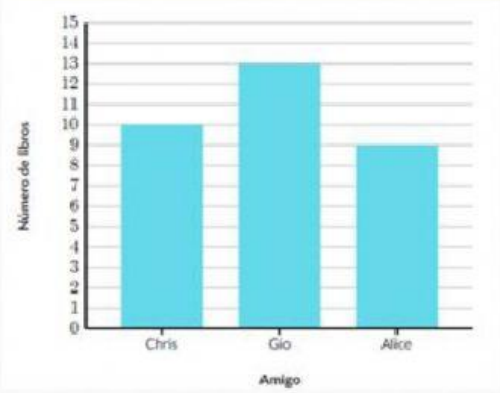

- ¿Cuántos libros leyó Alice?
- _____
- ¿Cuántos libros leyó Chris?
- _____
- ¿Cuántos libros leyó Gio?
- _____

Fido, Rover y Buster enterraron huesos en el patio.
Esta gráfica de barras muestra cuántos huesos enterró cada perro.

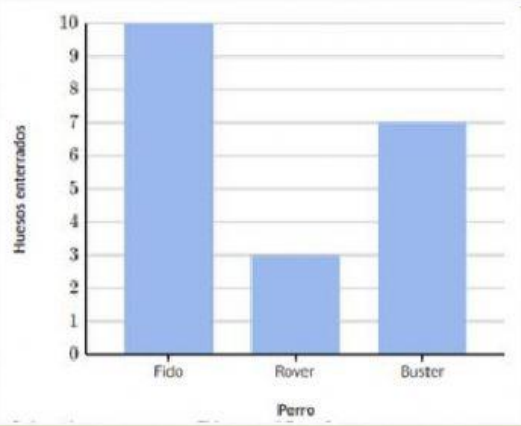

- ¿Cuántos huesos *menos* que Fido enterró Rover?
- _____
- ¿Cuántos huesos *mas* que Buster enterró Fido?
- _____

Sam vio hormigas, grillos y catarinas en el patio de juegos.
Esta gráfica de barras muestra cuántos de cada insecto vio Sam.

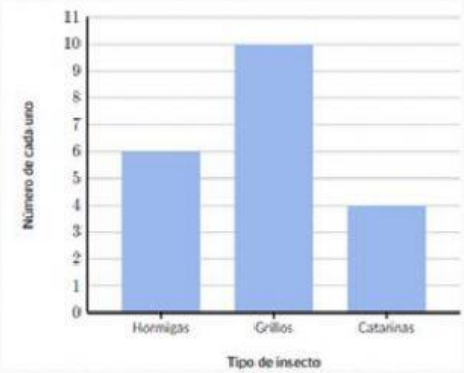

- ¿Cuántos insectos vio Sam en total?
- _____
- ¿Qué porcentaje de hormigas fue el observado respecto del total?
- _____ %

LIVEWORKSHEETS

Hay grupos de niños en el parque, en la piscina o en la playa.
Esta gráfica de barras muestra cuántos niños hay en cada lugar.

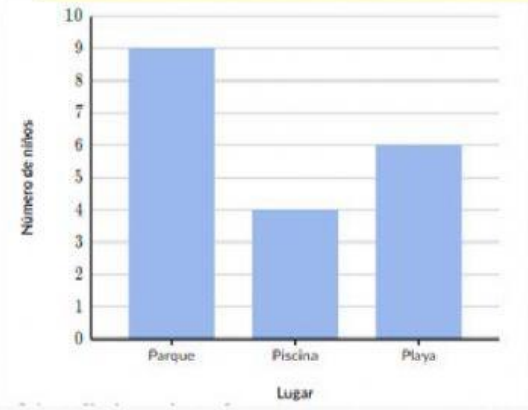

- ¿Cuántos niños hay en el parque?
- _____
- ¿Qué porcentaje del total de niños es el que esta en la piscina?
- _____%

Christian, Alexa y Michaela hicieron proyectos de arte en el campamento de verano.
Esta gráfica de barras muestra cuántos proyectos de arte hizo cada amigo.

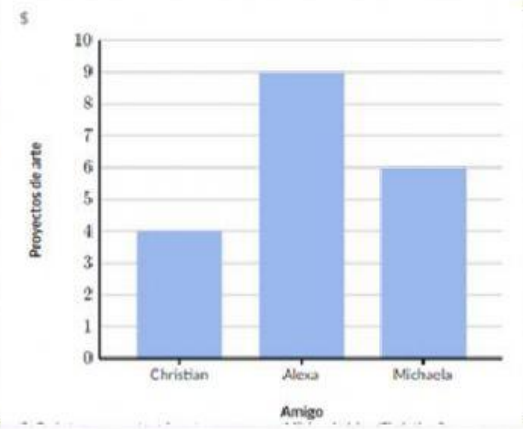

- ¿Cuántos proyectos de arte *menos* que Michaela hizo Christian?
- _____
- ¿Qué porcentaje de los proyectos de Alexa a hecho Christian?
- _____ %

El gráfico muestra los resultados de una encuesta en la que se les pregunta a los estudiantes de un curso sobre cual es su deporte favorito

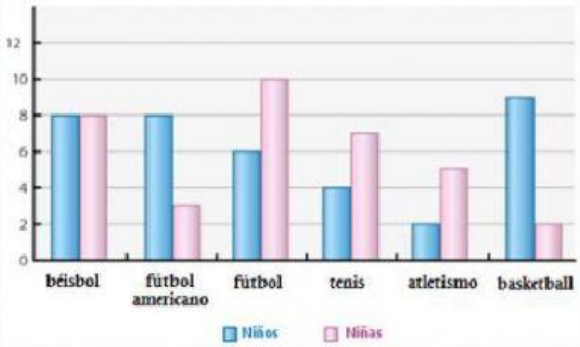

- ¿Cuál es el deporte predilecto de las niñas ?
- _____
- ¿Qué porcentaje del total de los niños elije el fútbol?
- _____ %
- ¿Cuántas niñas prefieren el atletismo?
- _____

LIVEWORKSHEETS