Colegio Buonarroti
Educación Básica - Bachillerato Unificado

Tema: Cuerpos de revolución.

NOMBRE: _____

FECHA: _____

1. **Responde las siguientes preguntas.**

Para el cilindro

¿Cuántas caras tiene? _____

¿Tiene caras planas? _____

¿Qué forma tienen las caras planas?

_____

¿Tiene vértices? _____

¿Cuántos vértices tiene?

_____

Para el cono

¿Cuántas caras tiene? _____

¿Tiene caras planas? _____

¿Qué forma tienen las caras planas?

_____

¿Tiene vértices? _____

¿Cuántos vértices tiene?

_____

2. **Completa los elementos de cada cuerpo redondo.**

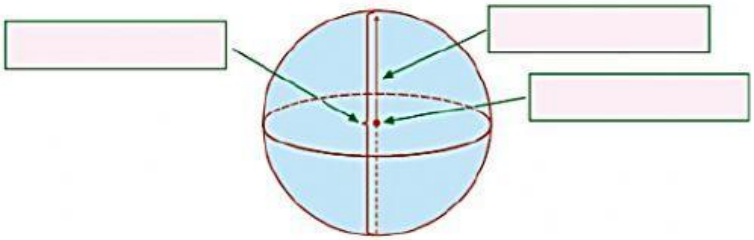

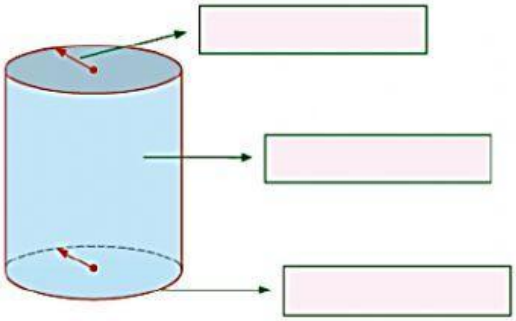

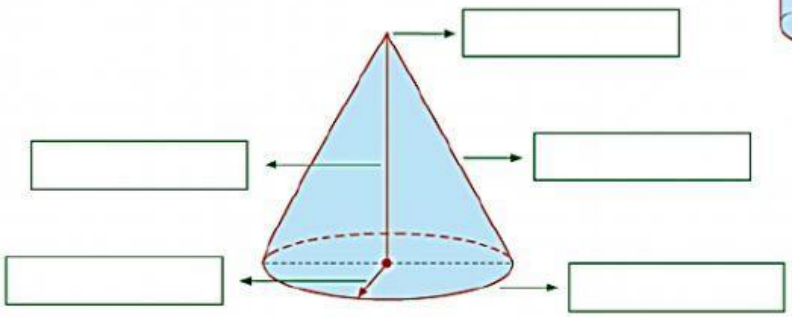

LIVEWORKSHEETS

3. Relaciona según corresponda.

- Cilindro
- Cono
- Esfera

LIVEWORKSHEETS