Szem és hibái

A rajzon a szem felépítését látod! Írd be a keretekbe az egyes részek elnevezéseit!

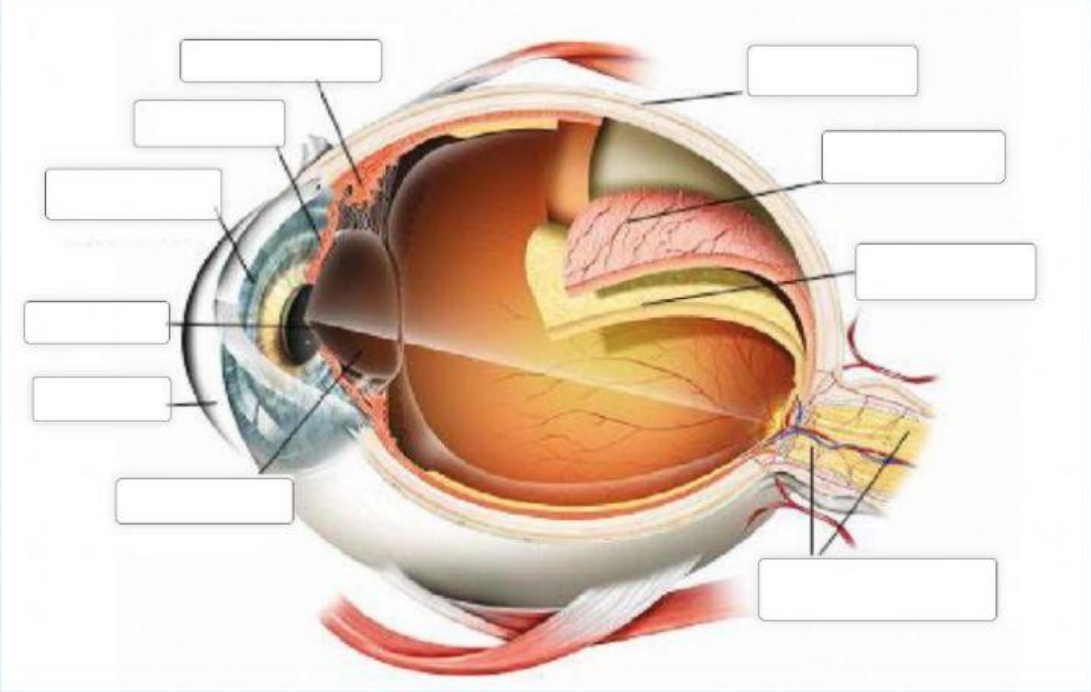

Az ideghártyán:

kép keletkezik.

Rendezd a felsoroltakat a fény haladása szerint a retina felé!

szemlencse ***szaruhártya*** ***retina*** ***üvegtest*** ***csarnokvíz*** ***pupilla***

Egészítsd ki a mondatokat a rajz alapján, válaszd ki a helyeset!

Az ábrán egy szem van, nem lát élesen.

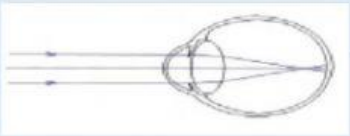

tartalmazó szemüveggel javítható.

Az ábrán egy szem van, nem lát élesen.

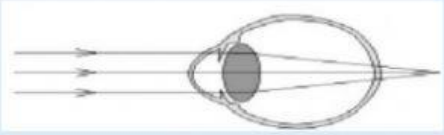

tartalmazó szemüveggel javítható.

LIVEWORKSHEETS