	ESCUELA ADVENTISTA DE HUALPÉN Matemática Prof.: *Luis Martínez Silva*	**GUÍA DE APRENDIZAJE** *4° Año* ***"Multiplicaciones"***	**Validación**
Nombre:			Porcentaje de logro.
Objetivo de Aprendizaje: **OA 05** - **Demostrar que comprenden la multiplicación de números de tres dígitos por números de un dígito, resolviendo problemas rutinarios.**			
HABILIDADES: ***Comprender, Aplicar. Analizar.***			

¡Vamos a jugar con las tablas de multiplicar, comprando!

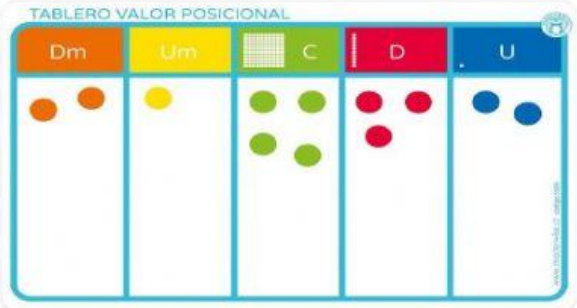

Observa la imagen que presenta productos de hortaliza y una tabla de valor posicional.

Con esta información debes resolver los siguientes cuentos matemáticos.

LIVEWORKSHEETS

1.

La señora María compró 3 kg de frutilla y 2 kg de cebolla. ¿Cuánto pagó por todo?
Regístralo en la tabla de valor posicional.

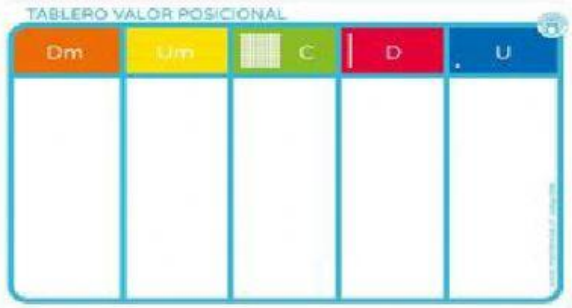

A. 2.653

B. 3.562

C. 3.653

D. 3.563

2.

Don José compró en la feria 4 kg de frutilla y 4 piñas. ¿Cuánto pagó por todo?
Regístralo en la tabla de valor posicional.

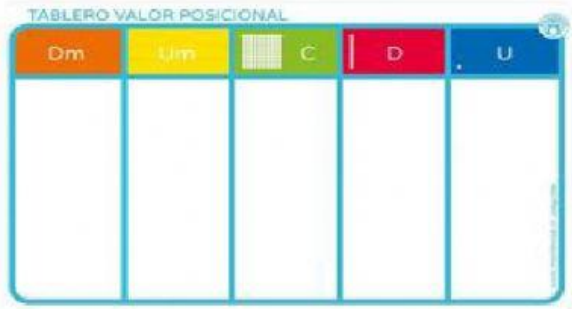

A. 6.125

B. 5.125

C. 5.216

D. 4.216

3.

Don Roberto le pidió a su hijo que fuera al almacén de la esquina y comprara 3 lechugas y 6 choclos. ¿Cuánto pagó por todo el hijo de Roberto?
Regístralo en la tabla de valor posicional.

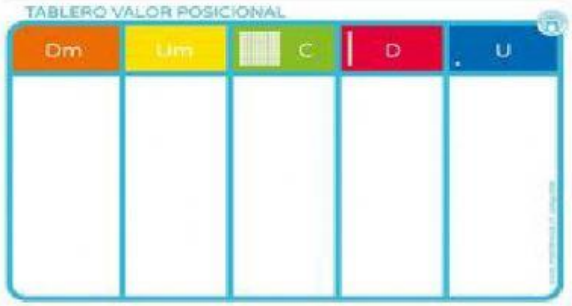

A. 7.290

B. 2.970

C. 2.980

D. 3.970

LIVEWORKSHEETS

4.

La señora Regina quiere preparar almuerzo para su familia y necesita 2 lechugas, 1 kg de cebolla y 3 choclos. Pero no sabe cuánto debe pagar por todo. **Ayúdale a pagar y regístralo en la tabla de valor posicional.**

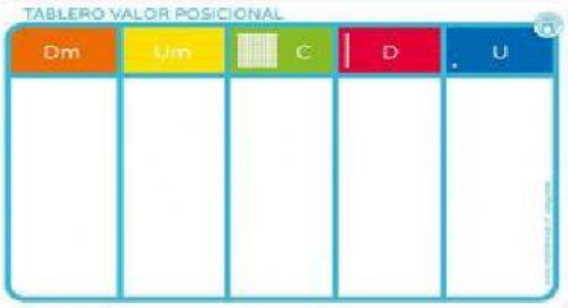

A. 4.526

B. 4.426

C. 2.426

D. 2.526

5.

Juanita compró 6 piñas y 2 kilos de frutilla. ¿Cuánto pagó en total?
Regístralo en la tabla de valor posicional.

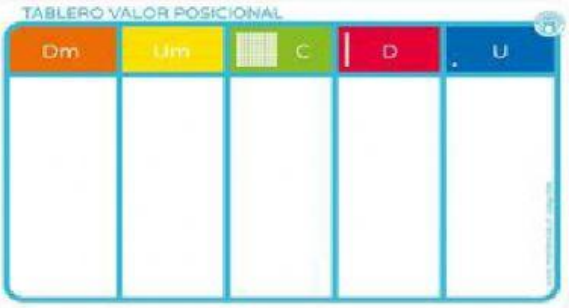

A. 6.196

B. 5.196

C. 4.196

D. 3.196

6.

Para un postre de frutas se necesitan 5 kilos de frutilla. ¿Cuánto se debe pagar por todo?

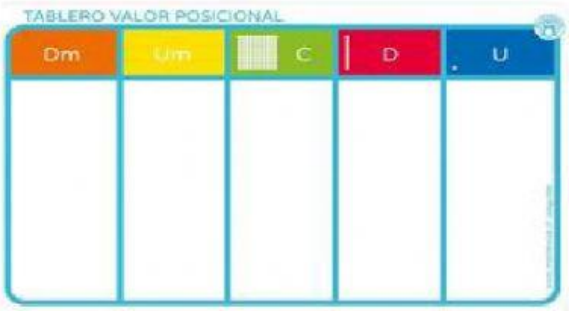

A. 3.035

B. 1.035

C. 2.035

D. 1.535

LIVEWORKSHEETS