SEGUNDO

SUMA DECENAS PURAS

1. Resuelve las siguientes sumas representadas con material base 10, cuenta las decenas y escribe la operación de forma vertical.

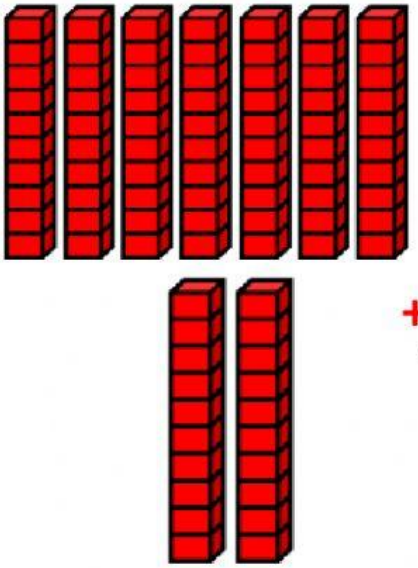

	D	U
+		

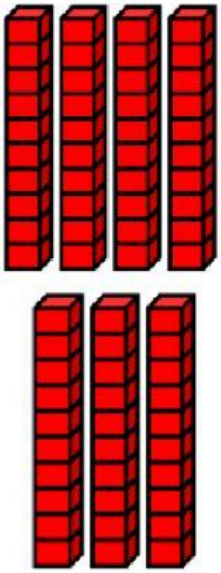

	D	U
+		

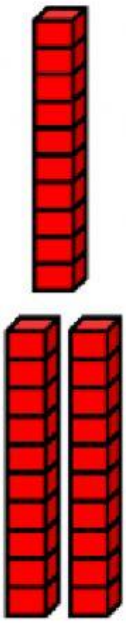

	D	U
+		



	D	U
+		

LIVEWORKSHEETS

2. Une con líneas la suma horizontal con la suma de elementos y con su respuesta.

10 + 10		20
20 + 60		50
50 + 40		90
40 + 10		70
30 + 40		80

3. Resuelve los siguientes problemas.

- **Mía compró 20 helados de fresa para sus compañeras y Hugo compró 30 helados de chocolate para sus compañeros. ¿Cuántos helados tienen entre los dos estudiantes?**

Datos	Razonamiento	Operación	Respuesta
Mía [ ] Hugo [ ]	Tengo que hacer una [ ][ ][ ][ ]	D U + [ ][ ] [ ][ ]	Entre los dos estudiantes tienen [ ][ ] helados.

LIVEWORKSHEETS

- **La foca Lía tiene 30 hermanas focas en lago y 50 hermanas en el mar ¿Cuántas hermanas focas tiene Lía?**

Datos	Razonamiento	Operación	Respuesta
lago ☐ mar ☐	Tengo que hacer una ☐☐☐☐	D U + ☐☐ ☐☐ ☐☐	Lía tiene ☐☐ hermanas focas.

4. Arrastre y complete el castillo de las decenas en orden ascendente.

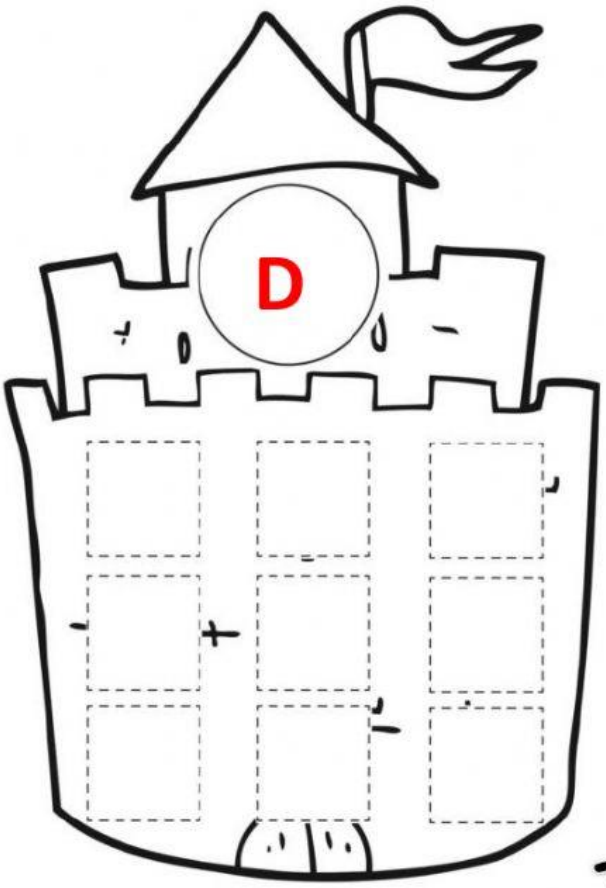

60 10 90 30 40 70 50 20 80

LIVEWORKSHEETS