ΜΑΘΗΜΑ 42ο ΒΜ ΤΑΞΗ Β

1.Συμπλήρωσε:

1.000 μέτρα | *100 εκατοστόμετρα*

μέτρο | *χιλιόμετρο* | *εκατοστόμετρο*

- *Για να μετράμε το μήκος με τον ίδιο τρόπο, χρησιμοποιούμε το* .....
- ***1 μέτρο =*** .....

- *Για μικρές αποστάσεις χρησιμοποιούμε το* .....
- *Για πολύ μεγάλες αποστάσεις χρησιμοποιούμε το* .....
- ***1 χμ. =*** .....

2. Ποιο θα χρησιμοποίησω για να μετρήσω με ακρίβεια το ύψος του ψυγείου;

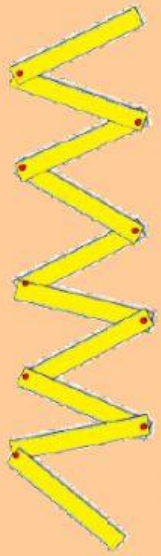

LIVEWORKSHEETS

3.Στο Β1 τα αγόρια είναι 10 και τα κορίτσια 12.Αν κάθε παιδί της τάξης χρησιμοποιήσει το δικό του χαρτόνι των 10 εκ., πόσα μέτρα θα φτιάξουν όλα τα παιδιά μαζί; Πόσα εκατοστόμετρα θα περισσέψουν;

Τα αγόρια θα φτιάξουν ..... μ.

Γιατί ..... Χ ..... = 100εκ.= ..... μ

Τα κορίτσια θα φτιάξουν ..... μ

και θα περισέψουν ..... εκ.

10

12

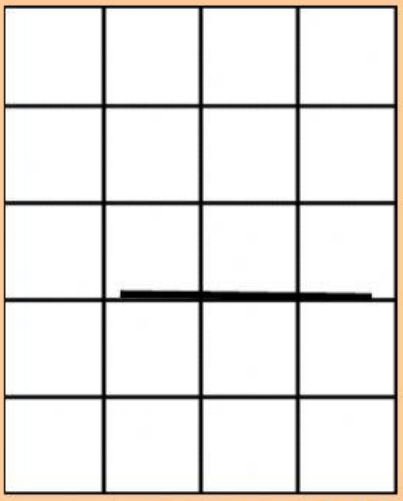

4.Το πρώτο χαλάκι έχει μήκος 55 εκατοστόμετρα.

Το δεύτερο χαλάκι είναι 38 εκατοστόμετρα μακρύτερο.

Πόσα εκατοστόμετρα είναι το μήκος του δεύτερου χαλιού;

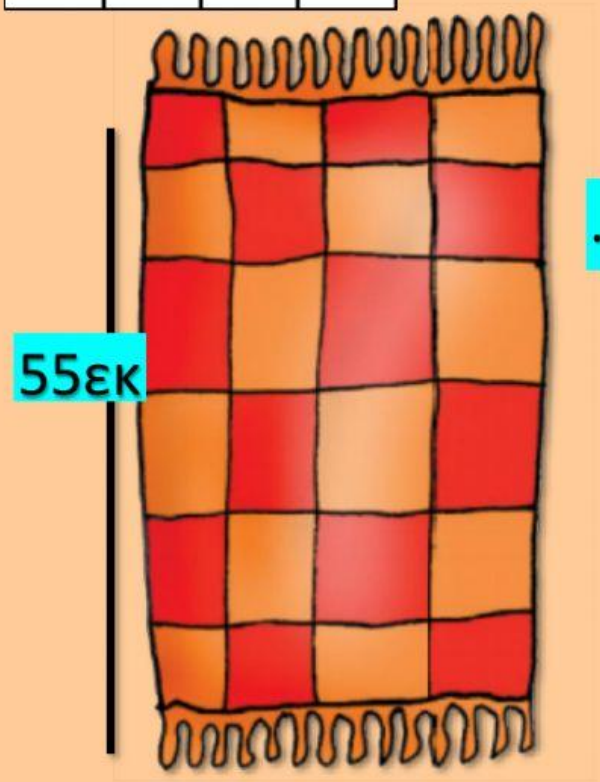

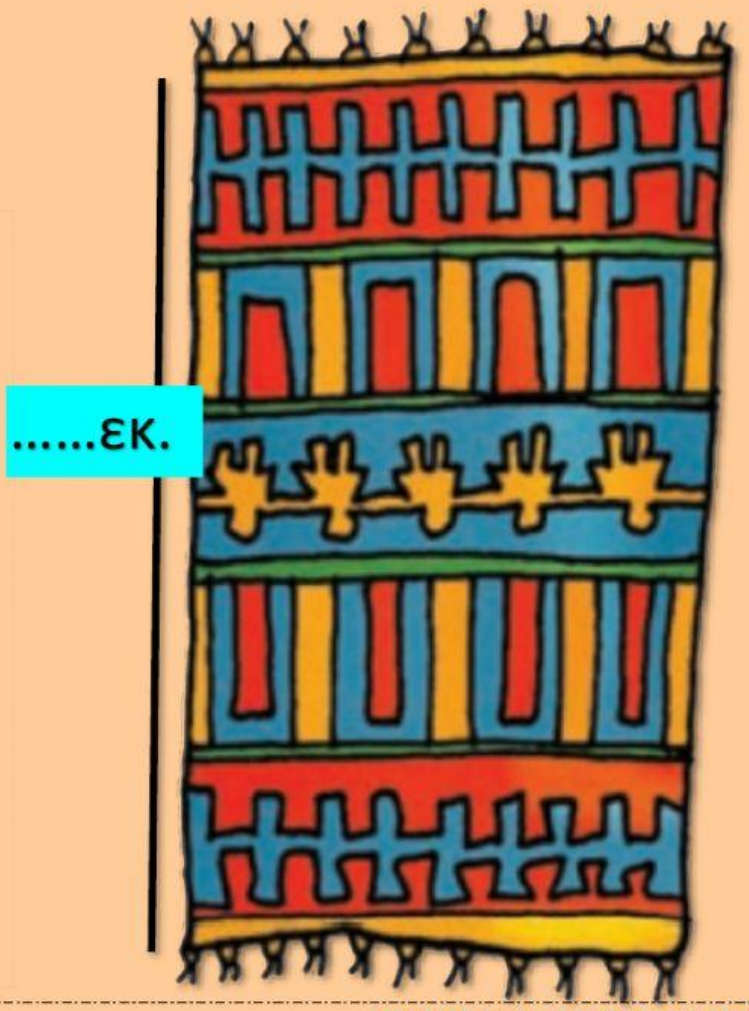

LIVEWORKSHEETS