1) ¿ Qué números completan la siguiente secuencia numérica?

10 → 17 → ____ → ____ → 38 → ____ → 52 → 59

a) 27, 37, 47

b) 18, 19, 39

c) 24, 31, 45

2) La expresión 25 > 18 significa que:

a) Veinticinco es **igual** que dieciocho.

b)Veinticinco es **menor** que dieciocho.

c) Veinticinco es **mayor** que dieciocho.

3) Escribe V (verdadero) o F (falso).



☐ Ambas figuras geométricas tienen lados.

☐ El rectángulo tiene 3 lados y el triángulo 4 lados.

☐ Ambas figuras geométricas tienen la misma cantidad de vértices.

LIVEWORKSHEETS





☐ Ambas figuras geométricas tienen lados.

☐ El cuadrado tiene 4 lados.

☐ Ambas figuras geométricas tienen la misma cantidad de vértices.

4) Calcula:

857	496	620	972
+156	+728	- 329	-185
_____	_____	_____	_____

56	94
x 7	x 9
_____	_____

LIVEWORKSHEETS

5) Resuelve los siguientes problemas:

Mi primo tenía en la granja 50 conejos. Hoy han nacido algunos y ahora tiene 58. ¿Cuántos conejos han nacido hoy?

DATOS:

Tenía: _____ conejos

Tiene: _____ conejos

OPERACIÓN:

SOLUCIÓN:

Ramón ha leído 52 páginas de su libro y Elena ha leído 7 páginas más que Ramón. ¿Cuántas páginas ha leído Elena?

DATOS:

Ramón: _____ páginas

Elena: _____ páginas más

OPERACIÓN:

SOLUCIÓN:

LIVEWORKSHEETS

Repasamos los **CUERPOS GEOMÉTRICOS**

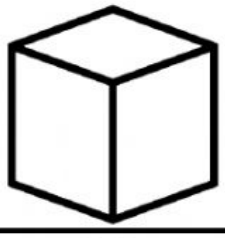

Cubo

Cono

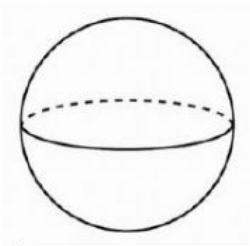

Esfera

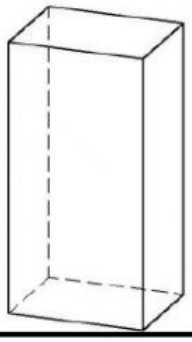

Prisma

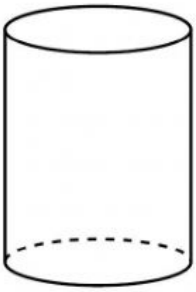

Cilindro

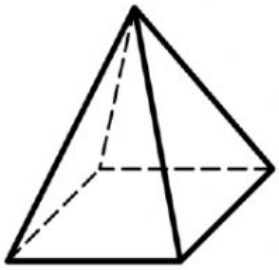

Pirámide

1. Lee, imagínate el objeto en tu cabeza y escribe qué cuerpo geométrico es:

- Un paquete de galletas tiene forma de _____.
- Una caja de zapatos es un _____.
- Una lata de refresco es un _____.
- Una pelota de golf es una _____.
- El cucurucho de un helado es un _____.

2. Cuenta y completa la tabla.

	Prisma	Cono	Cilindro
Grande			
Pequeño			

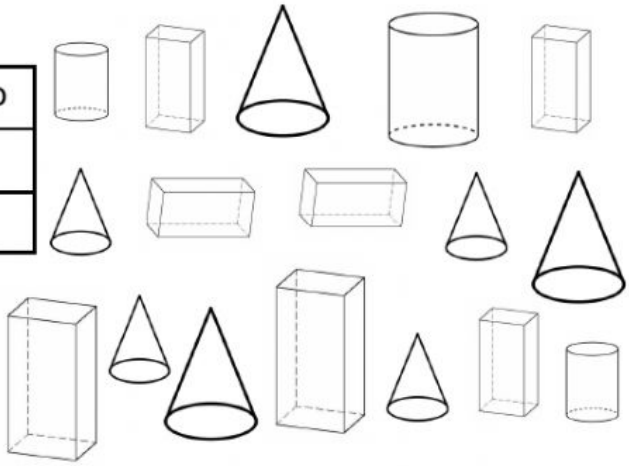

LIVEWORKSHEETS