CUERPOS GEOMÉTRICOS

Selecciona la respuesta correcta.

a. La figura que aparece es...

ESFERA	CONO	CILINDRO	CUBO
1. ☐	2. ☐	3. ☐	4. ☐

b. La figura que aparece es...

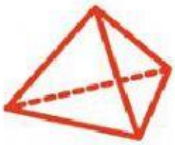

ESFERA	PIRÁMIDE	CUBO	PRISMA
1. ☐	2. ☐	3. ☐	4. ☐

c. La figura que aparece es...

CILINDRO	CONO	PRISMA	ESFERA
1. ☐	2. ☐	3. ☐	4. ☐

d. La figura que aparece es...

PRISMA	CONO	PRISMA TRIANGULAR	PIRÁMIDE TRIANGULAR
1. ☐	2. ☐	3. ☐	4. ☐

Completa

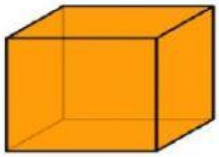	VÉRTICES ◯ CARAS ◯ ARISTAS ◯		VÉRTICES ◯ CARAS ◯ ARISTAS ◯
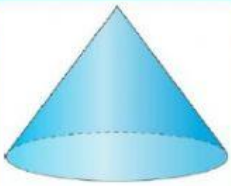	VÉRTICES ◯ CARAS ◯ ARISTAS ◯	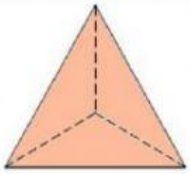	VÉRTICES ◯ CARAS ◯ ARISTAS ◯
	VÉRTICES ◯ CARAS ◯ ARISTAS ◯	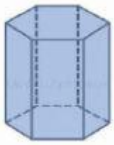	VÉRTICES ◯ CARAS ◯ ARISTAS ◯
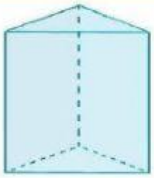	VÉRTICES ◯ CARAS ◯ ARISTAS ◯	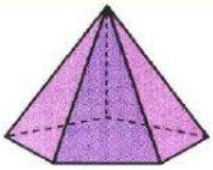	VÉRTICES ◯ CARAS ◯ ARISTAS ◯

LIVEWORKSHEETS

Escribe cual es el polígono de su base de cada cuerpo geométrico y clasifícalos.

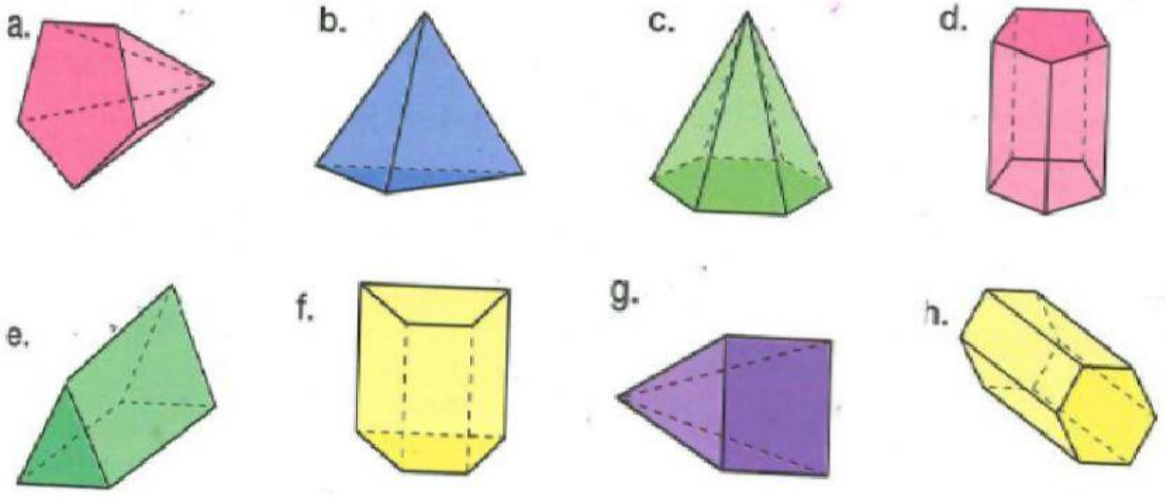

a.	La base es un	pentágono	es una	pirámide	pentagonal
b.	La base es un		es una		
c.	La base es un		es una		
d.	La base es un		es una		
e.	La base es un		es una		
f.	La base es un		es una		
g.	La base es un		es una		
h.	La base es un		es una		

Une cada cuerpo geométrico con su definición.

- Su base es un triángulo y tiene 4 vértices.
- Su base es un cuadrilátero y tiene 6 caras.
- Tiene dos bases, que son círculos.
- Su base es un círculo y tiene 1 vértice.
- Su base es un pentágono y tiene 15 aristas.
- Tiene 8 caras laterales y 12 vértices.

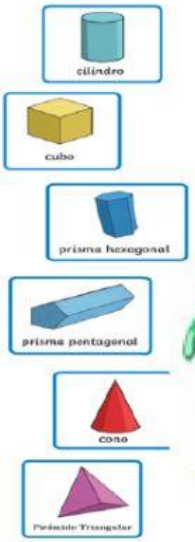

LIVEWORKSHEETS